Los poliedros regulares

1. Identifica las partes del poliedro. Arrastra cada parte a su lugar correspondiente.

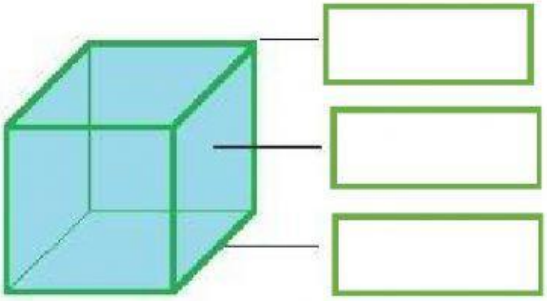

Cara

Arista

Vértice

2. Observa y completa la tabla.

	Nombre	Polígono	Polígono caras laterales	Nº de aristas	Nº de caras	Nº de vértices
						
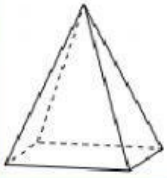						
						
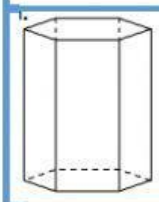						

3. Une cada columna para que el poliedro esté con su afirmación correcta.

Tetraedro	Ocho triángulos equiláteros
Octaedro	Doce pentágonos regulares
Dodecaedro	Veinte triángulos equiláteros
Hexaedro	Seis cuadrados
Icosaedro	Cuatro triángulos equiláteros

Sta. Fle