Los poliedros

1. **Explica qué son los poliedros y escribe el nombre de sus partes en este dibujo <u>en minúscula y con las tildes necesarias.</u>**

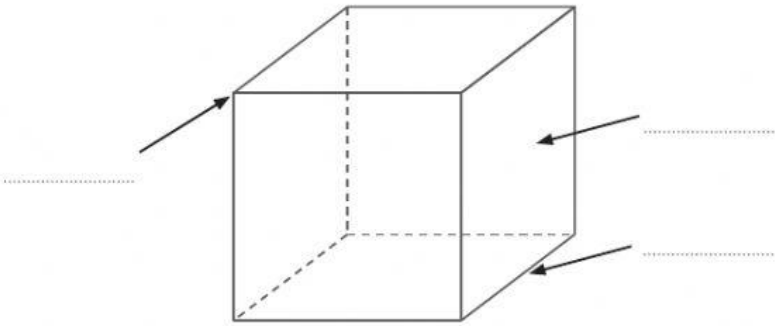

Un poliedro es

2. **¿Cuál de los siguientes objetos no tiene forma de poliedro? Selecciónalo.**

A ☐

B ☐

☐ C

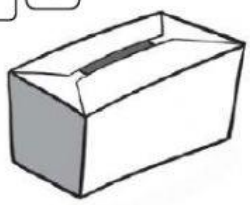

#LaSalleEnCasa

3. Completa la tabla en letra <u>minúscula y con tildes.</u>

		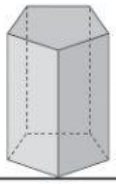	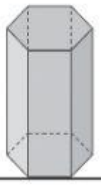
polígono de la base			
número de caras			
número de vértices			

#LaSalleEnCasa