HUSOS HORARIOS

1. Fíjate en la imagen y elige la respuesta correcta.

El meridiano de Greenwich y la longitud

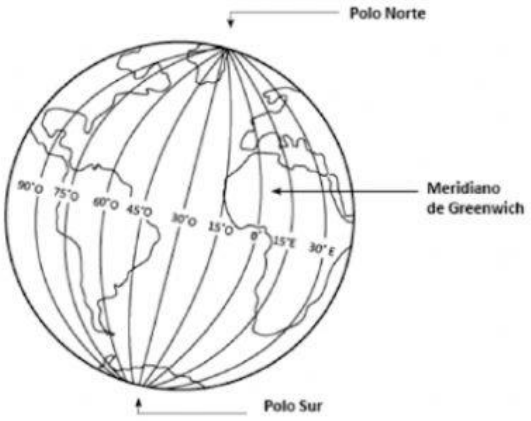

El meridiano de Greenwich está a grados de longitud.
Los meridianos son líneas imaginarias que van desde el hasta el .

El es una línea imaginaria que divide la Tierra en 2 hemisferios: el hemisferio y el hemisferio .

El Ecuador es una línea .
El meridiano de Greenwich es una línea. .

El meridiano de Greenwich también es llamado meridiano. .
Este meridiano pasa por España.

Hacia el este (la derecha en el mapa) vamos horas.
Hacia el oeste (la en el mapa) vamos restando horas.

Si en Valladolid son las 7 pm, en Canarias serán las .

Amanece en Japón que en España.

Amanece en Nueva York que en España.

En España y Francia tenemos hora.

2. Une

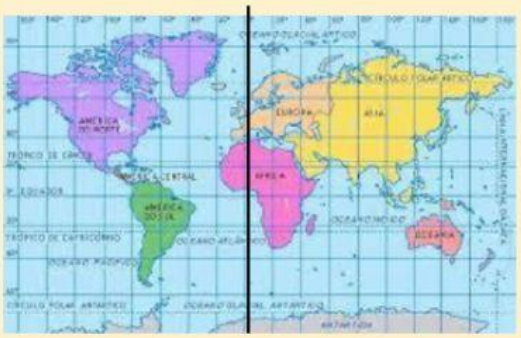

LÍNEA DEL ECUADOR

MERIDIANO DE GREENWISH

3. Elige la respuesta correcta:

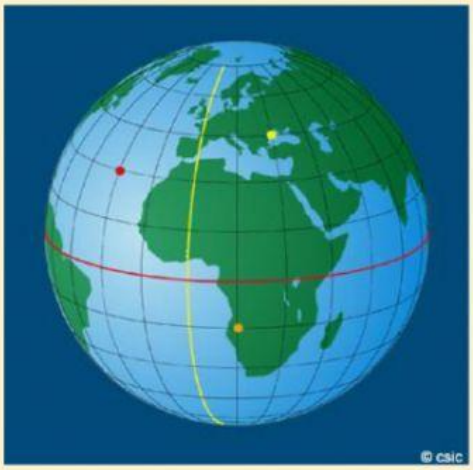

1. ¿En qué hemisferios se encuentra el punto rojo?
   En los hemisferios norte y este.
   En los hemisferios sur y oeste.
   En los hemisferios norte y oeste.

2. ¿En qué hemisferios se encuentra el punto naranja?
   En los hemisferios norte y este.
   En los Hemisferios sur y oeste.
   En los hemisferios sur y este.

3. ¿En qué hemisferios se encuentra el punto amarillo?
   En los hemisferios norte y este.
   En los Hemisferios norte y oeste.
   En los hemisferios sur y oeste.