RECUERDA QUE EN UNA RECTA NUMÉRICA HAY UNA REGULARIDAD DE DISTANCIA ENTRE UN PUNTO Y OTRO.

ESCRIBE EN LOS CASILLEROS VACÍOS EL NÚMERO QUE CORRESPONDE.

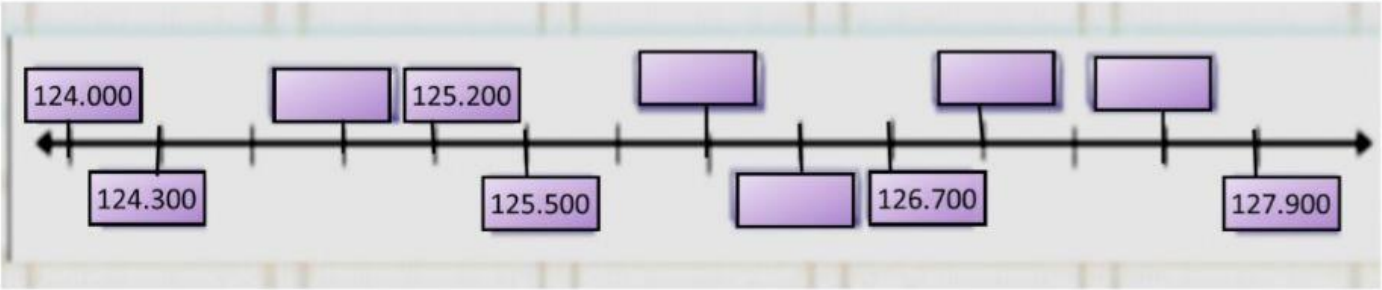

SEGUIMOS PRACTICANDO....



*¿En qué kilómetro se encuentra la estación de servicios? 100 500 900

*Ubica los kilómetros: 250 750 en el gráfico.

TAMBIÉN PUEDES REGISTRAR LA HORA...
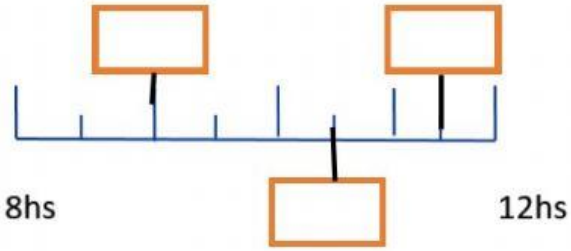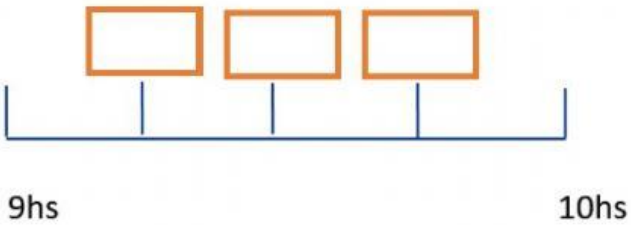
ESCRIBE LA HORA QUE CORRESPONDA EN CADA RECUADRO SEÑALADO.