Escola St. Vicens

-2a part-

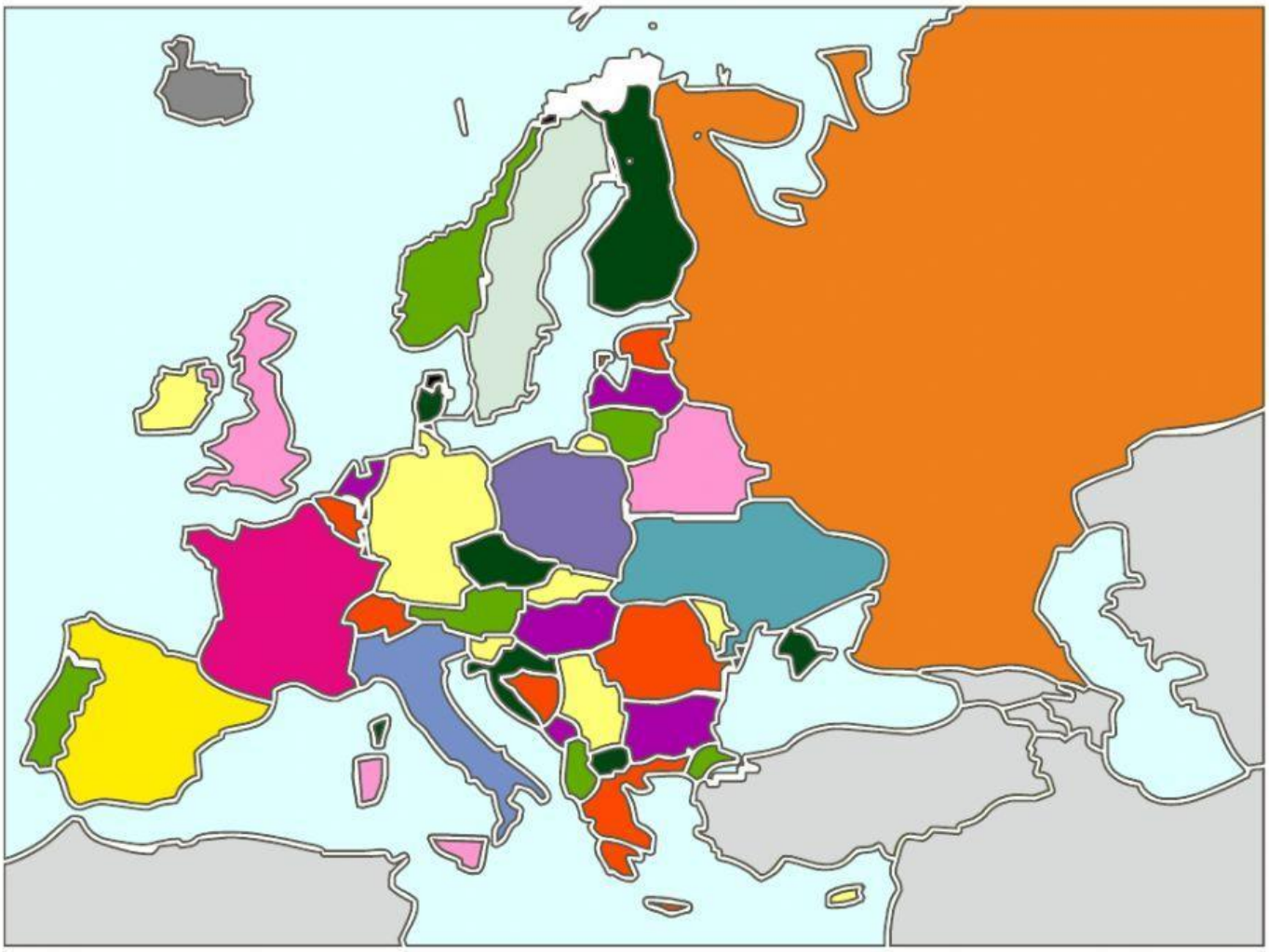

EUROPA

MEDI SOCIAL

6è 2019-2020

EUROPA: DIVERSITAT CULTURAL

Completa el text amb les opcions correctes:

La gran varietat climàtica i de paisatges d'Europa, a més de la història diferent de cadascun dels pobles que la integren, ha originat una gran diversitat cultural. La gastronomia, els horaris i els costums, segons el país o la zona, varien força d'un lloc a l'altre. Per exemple, les persones que viuen als països mediterranis acostumen a fer més vida al carrer perquè el clima és més càlid i els dies són més llargs. En canvi, els habitants del nord europeu surten menys i passen més temps a casa seva perquè en aquesta zona hi fa més fred.

Dones lapones

Holandesa amb el vestit tradicional del país

Vida al carrer a Vathi, Itaca (Grècia)

Suís amb un corn alpí, instrument tradicional de la zona

EUROPA: ECONOMIA DIVERSA

LLEGEIX MOLT ATENTAMENT I DESPRÉS FES L'ACTIVITAT:

La majoria d'estats europeus són industrialitzats. La seva base econòmica és la indústria i els serveis.

Però encara avui a Europa hi ha una gran diversitat i podem distingir-hi tres grans blocs:

1) Estats més avançats que gaudeixen d'un alt nivell de vida. Molt poca gent es dedica a l'agricultura i molta treballa en els serveis. Alemanya, els països nòrdics, França i el Regne Unit pertanyen en aquest bloc.

2) Estats mitjans com Portugal, Grècia i Eslovènia. Són menys desenvolupats, amb força gent dedicada a l'agricultura i amb serveis no gaire desenvolupats.

3) Els estats de l'Europa de l'Est amb un baix nivell de vida. Hi pertanyen Rússia, els estats balcànics, els estats bàltics, Ucraïna, Romania, Bulgària o Albània.

QÜESTIONARI

1. Quines són les principals activitats dels europeus i les europees?

2. A quin bloc econòmic pertanyen els estats següents?

França:	*Noruega:*
Eslovènia:	*Lituània:*
Suècia:	*Croàcia:*
Bòsnia:	*Alemanya:*

3. COMPLETA: Espanya pertany al bloc perquè... (escriu un text que ho expliqui)

LLENGÜES D'EUROPA

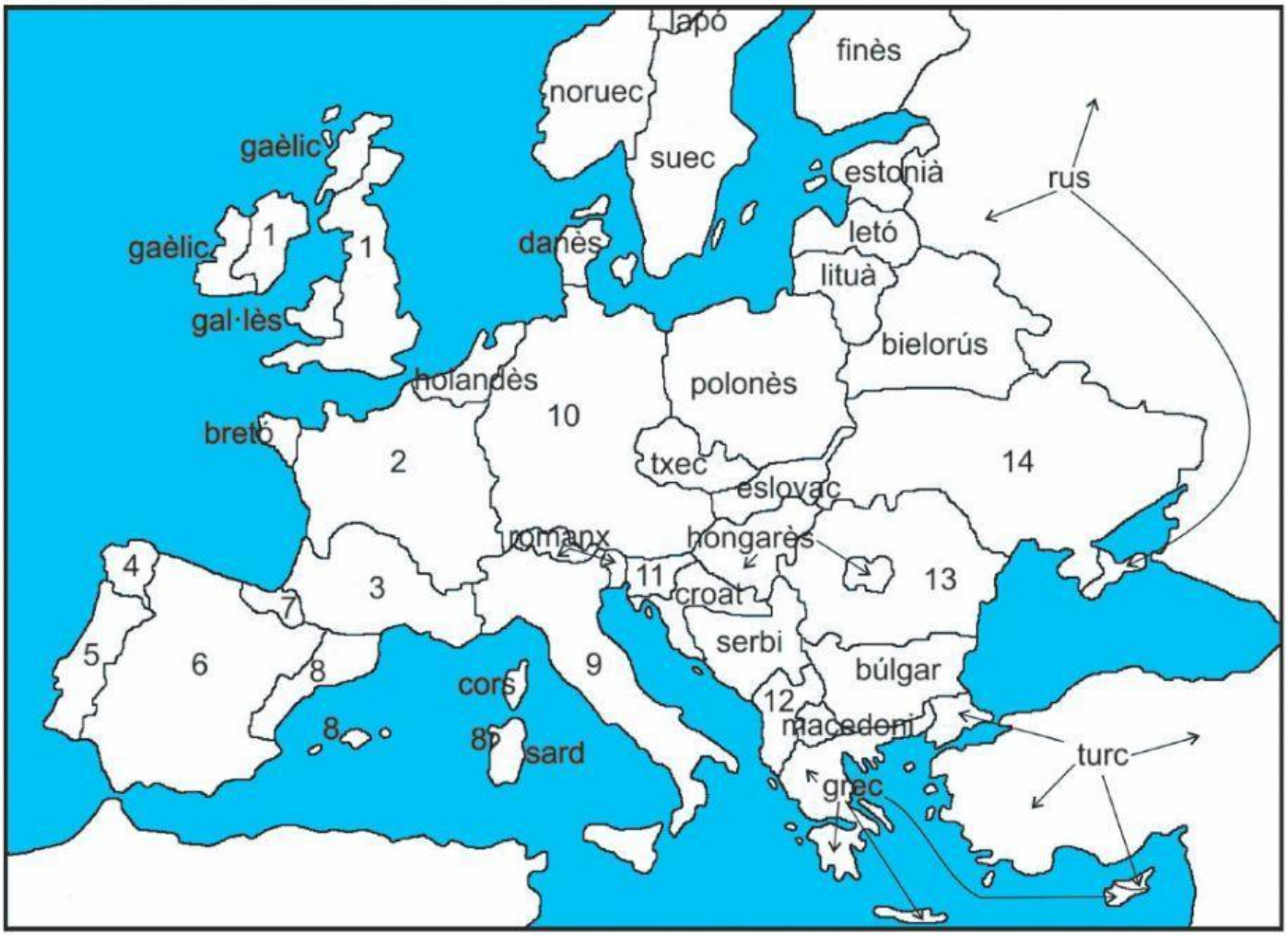

ESTUDIA atentament el mapa i veuràs que hi falten les següents llengües:

albanès, alemany, anglès, basc, castellà, català,eslovè, francès, gallec, italià, occità, portuguès, romanès i ucraïnès.

ESCRIU el nom de les llengües anteriors al costat del número corresponent:

1:	6:	11:
2:	7:	12:
3:	8:	13:
4:	9:	14:
5:	10:	

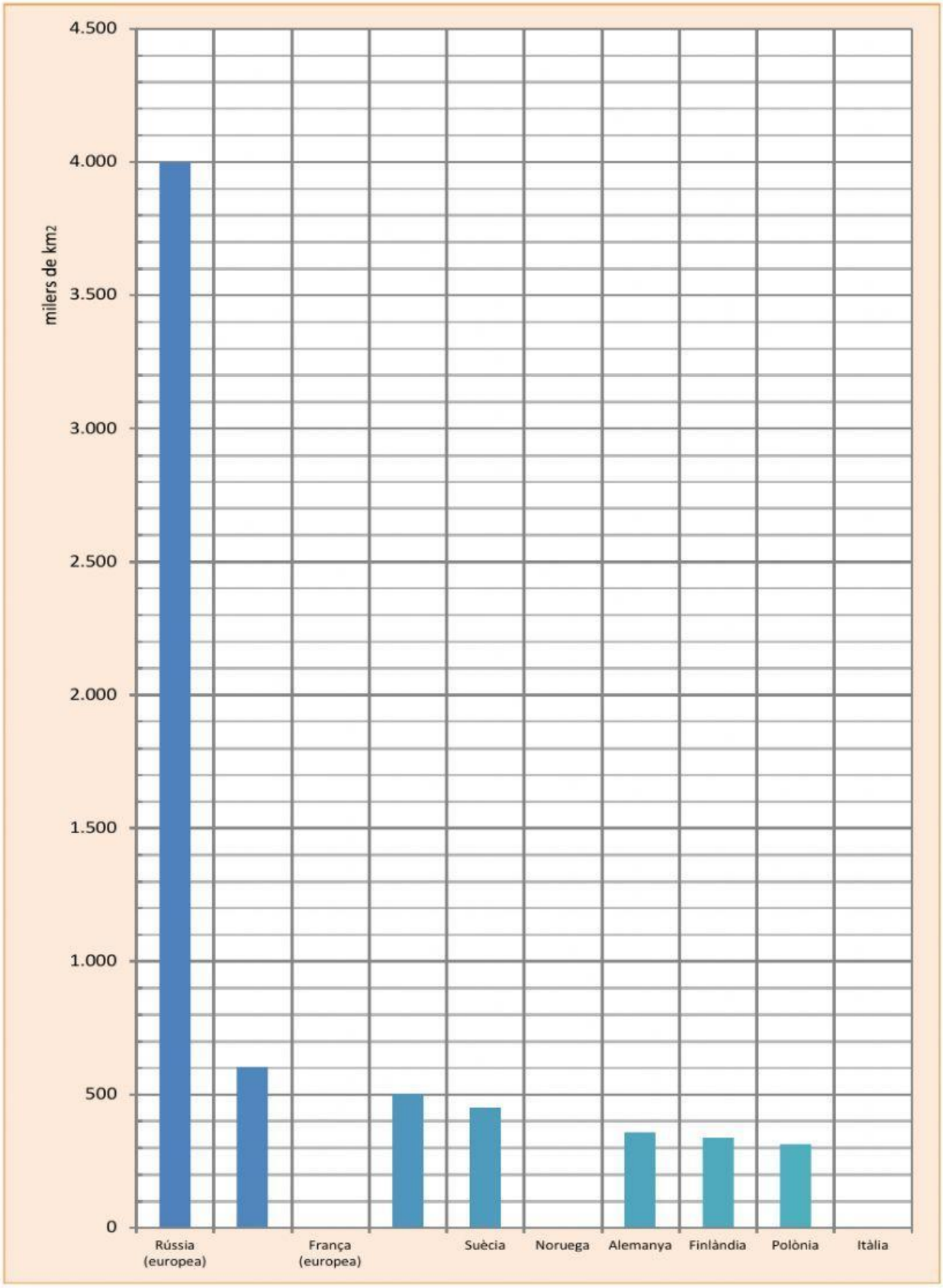

ARROSSEGA les tres columnes que falten al lloc corresponent del gràfic.

ESTUDIA bé un mapa polític d'Europa i aquest gràfic i completa les etiquetes amb els noms de dos d'aquests estats als llocs corresponents: Eslovàquia Islàndia Espanya Lituània Malta Macedònia Ucraïna Xipre

TRIA un d'aquests títols i escriu-lo al lloc corresponent:

- *Economia de diversos estats*
- *Els deu estats més grans d'Europa*
- *Els estats més grans i els més petits*
- *La població dels estats europeus d'Europa (en km²).*
- *Mapa polític d'Europa*
- *Rússia i la resta d'estats europeus*
- *Els països més rics d'Europa*
- *Hidrografia europea- Superfície*