Ficha 4. El kilómetro

Para medir una longitud usamos el metro (m).

Para medir una longitud muy larga usamos el **KILÓMETRO (km).**

1km = 1000m

El recorrido del tren que va de Tui a Vigo es de 2200 metros

22 km

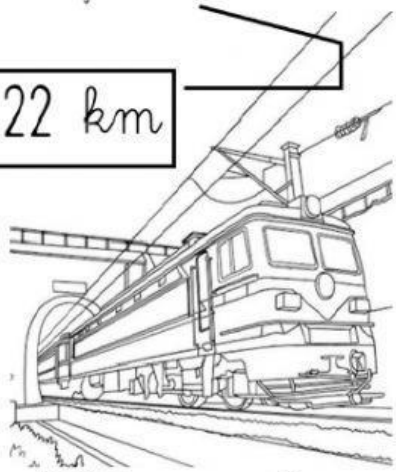

1000 m = 1km

1. ¿Cuánto mide?
Une.

RÍO MIÑO

310 km

3100 m

310 m

FARO DE CABO SILLEIRO

85 km

85 m

8500 m

MONTE DO SEIXO



8270 m

827 km

827 m

OCÉANO ATLÁNTICO

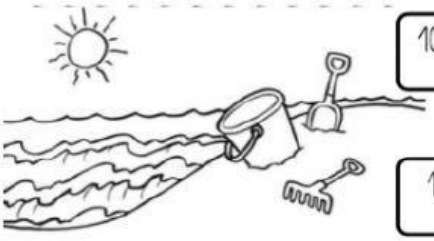

106.400 km

106.400 m

2. Daniela recorre 77 kilómetros para llegar a casa se sus primos y Arturo 958 kilómetros.

¿Cuántos kilómetros más tendría que hacer Daniela para que los dos recorrieran el mismo número de kilómetros?



DATOS

Daniela ⇨

Arturo ⇨

RAZONAMIENTO

Hay que averiguar...

☐ El total ☐ La diferencia

Hay que... ☐ Sumar ☐ restar

OPERACIONES

SOLUCIÓN

1 ¿Qué unidad mayor que el metro usarías para medir estas longitudes?

m

km

m

2. ¿Qué unidades menores que el metro usarías para medir estas longitudes? Une con flechas.



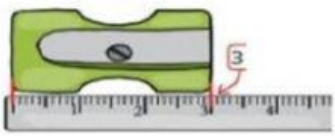

1 cm

8cm

3 cm