EJERCICIOS DE REPASO

Escribe debajo de cada paralelogramo su nombre.

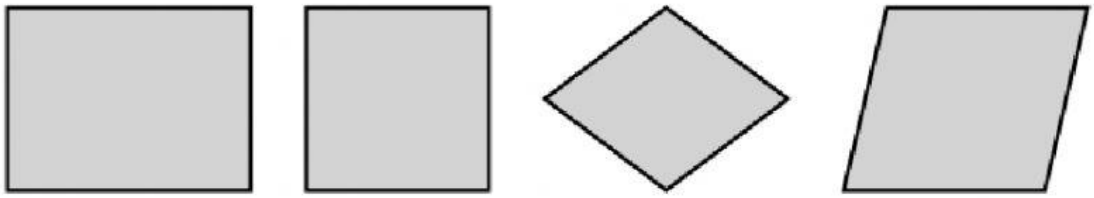

Completa la tabla con el nombre de los paralelogramos.

	Los 4 lados iguales	Los lados iguales 2 a 2
Los 4 ángulos rectos		
Los ángulos iguales 2 a 2		

Completa la siguiente tabla. Cuidado, pon el resultado en número.

Polígono	Número de lados	Número de diagonales	Número de vértices
triángulo			
Cuadrado			
pentágono			
hexágono			

¿Cuál es el área de cada figura, sabiendo que cada cuadradito interior tiene $1m^2$. Hay que poner solo el número



m^2

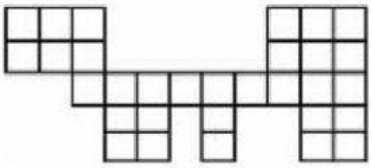

m^2

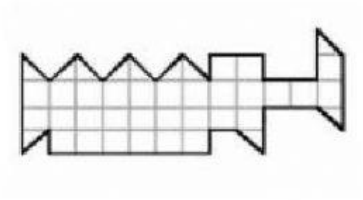

m^2

El perímetro del rectángulo es (escribe el número y la unidad, separados por un espacio, porque si no te lo dará por incorrecto):