ثالث متوسط – فصل دراسي ثالث

الاسم / .....

الفصل / ٣ / .....

٨ - ٢ حل المعادلات التربيعية بيانيًا

#خمسة_بلمسة

اختر الإجابة الصحيحة من بين الإجابات المعطاة

١ المقاطع السينية للدالة التربيعية الممثلة بالشكل المقابل عند .....

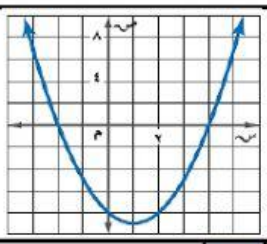

(أ)	-٣ ، ٠	(ب)	-٤ ، ١	(ج)	٤ ، -٢	(د)	١ ، ٤

٢ حلول المعادلة أو جذورها يمكن تحديدها بإيجاد المقاطع السينية للتمثيل البياني للدالة المرتبطة.

(أ)	صح	(ب)	خطأ

٣ بالشكل المجاور، ليس لهذه الدالة أصفار حقيقية لأنه لا يوجد لتمثيلها البياني مقاطع سينية.

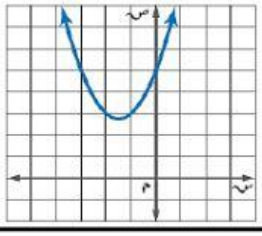

(أ)	صح	(ب)	خطأ

٤ حل المعادلة التربيعية التي تمثيل دالتها بيانياً لا يقطع محور السينات هو .....

(أ)	صفر	(ب)	١	(ج)	Ø	(د)	ح

٥ حل المعادلة: س^{٢} -٦س+٩=٠ بيانياً هو حل وحيد ويساوي .....

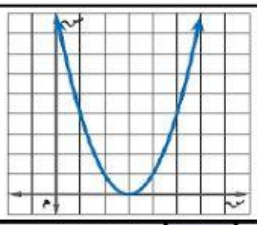

(أ)	صفر	(ب)	١	(ج)	٣	(د)	٩

إعداد الأستاذ / منصور صبري

0590759599

@mansour1911

LIVEWORKSHEETS