العنوان	٢١-٢ استخدام الإحصاء

الاسـم	الصف

قال تعالى: [وَقُلْ رَبِّ زِدْنِي عِلْمًا] طه : ١١٤

١) تظهر الأعمدة البيانية التالية عدد الصفحات التي يقرأها محمد من المصحف الشريف خلال اسبوع.

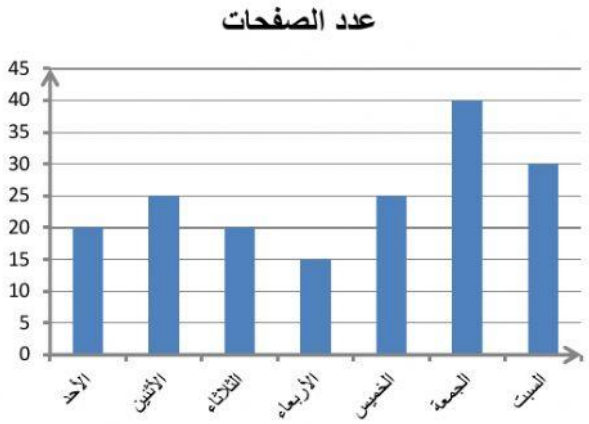

أجب عن الأسئلة التالية:

أ) ما هو اليوم الذي يقرأ فيه محمد أكبر عدد من الصفحات؟

ب) ما هو اليوم الذي يقرأ فيه محمد أقل عدد من الصفحات؟

ج) يقرأ محمد عدد متساوي من الصفحات في يومي الأحد والخميس؟

د) كم يساوي المدى لعدد الصفحات التي يقرأها محمد خلال اسبوع؟

هـ) مجموع ما يقرأه محمد من الصفحات خلال اسبوع؟

٢) الجدول الآتي يوضح عدد العصائر التي تم بيعها خلال يوم في محل.

نوع العصير	العدد
فراولة	١٢
برتقال	٨
ليمون	١٠

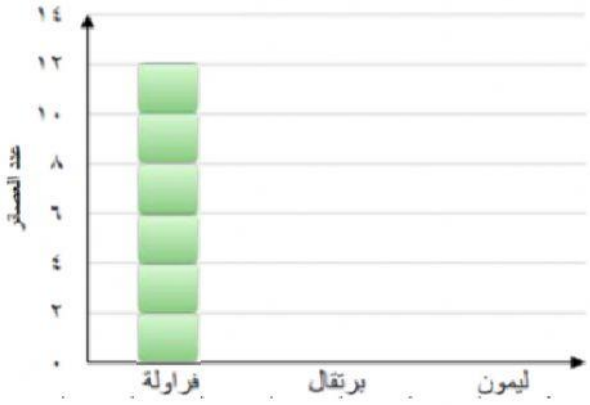

اكمل رسم التمثيل البياني بتحديد العدد المناسب من المربعات في كل عمود.

٣) جمع حمد معلومات حسب أنواع الأشجار في مزرعته حسب الجدول

النوع	العدد
نخيل	
مانجو	٣
ليمون	٥

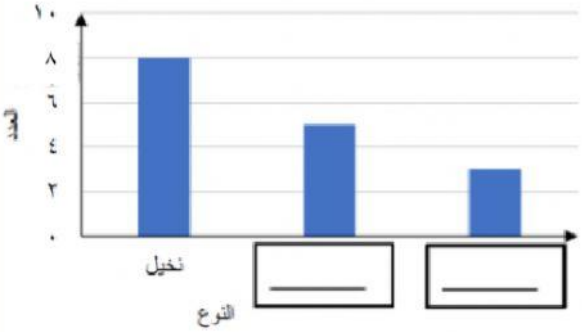

ثم مثلها بيانيا بالأعمدة البيانية ، اكتب البيانات الناقصة في الفراغات.

LIVEWORKSHEETS