Ara toca posar en pràctica tot el que has anat aprenent. **Et dono la opció de poder escollir entre fer el càlcul de l'apartat "A" o "B" de cada exercici o tots dos apartats.** Aquests exercicis els corregirem a classe. Pots ajudar-te de la teoria i exemples que trobaràs fent "clic" aquí.

Vigila! Si et falta alguna dada, hauràs d'utilitzar el teorema de Pitàgores per trobar-la.

5 **Determina l'àrea i el perímetre de les següents figures:**

a)

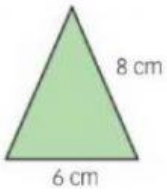

Àrea:

Perímetre:

b)

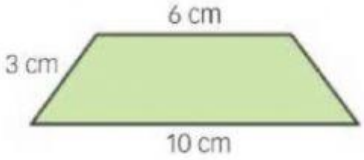

Àrea:

Perímetre:

6 **Determina l'àrea i el perímetre de les següents figures:**

a)

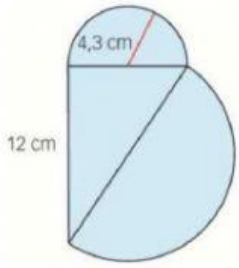

Àrea:

Perímetre:

b)

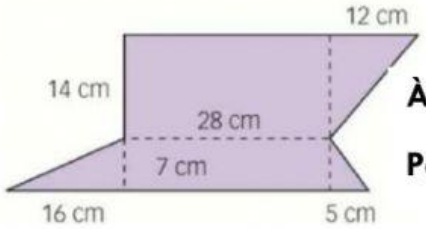

Àrea:

Perímetre:

7 **Calcula l'àrea de la part pintada de les següents figures:**

a)

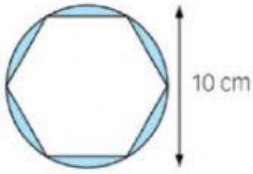

Àrea part pintada:

b)

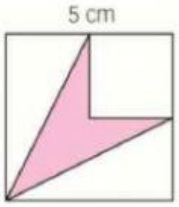

Àrea part pintada:

8 **Resol els següents problemes:**

a) Un pintor decora una tanca amb la següent figura: Si cobra a 32€ el metre quadrat de tanca pintada, quant cobrarà?

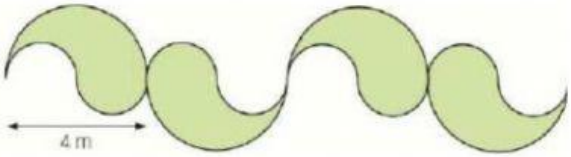

Resposta:

b) Cadascun dels 50 pisos d'un edifici té la planta d'aquesta figura, en què el costat de l'hexàgon és de 30m. Si el terra té una moqueta que costa 20€/m², calcula el preu total que s'ha pagat per la moqueta de l'edifici.

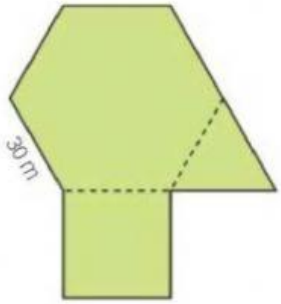

Resposta:

LIVEWORKSHEETS