الاسم:

الصف:

أجد محيط كل من الأشكال التالية:-

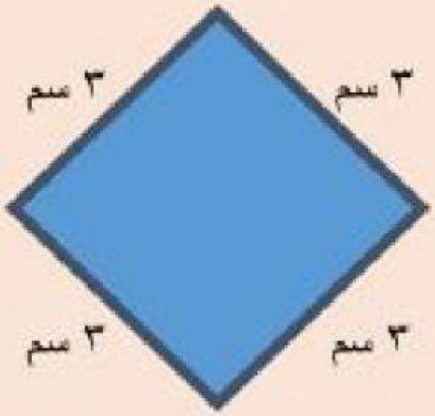

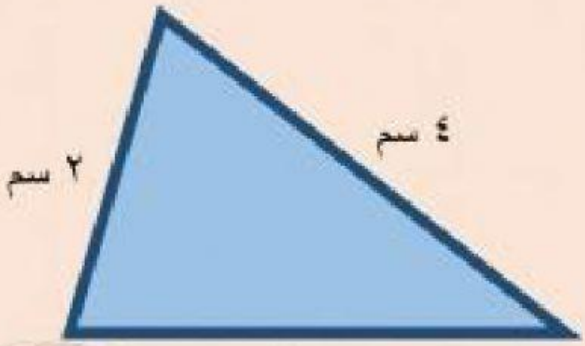



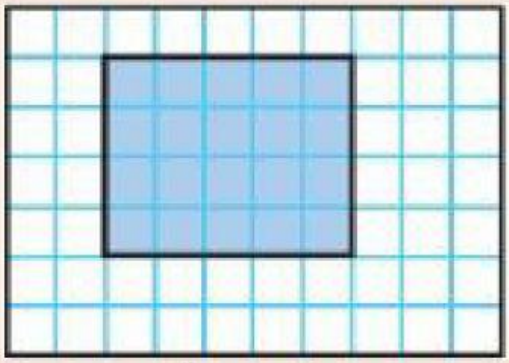

لدى سارة ساعة حائط لها ٥ أضلاع متساوية في الطول،

طول كل منها ٨ سم، ما محيط الساعة؟

LIVEWORKSHEETS
LIVEWORKSHEETS