TOÁN VỀ KINH TẾ TÀI CHÍNH

Bạn hãy điền số thích hợp vào ô trống.

Nhà An có 15 quả bí ngô, mẹ An cho nhà bác 3 quả. Số bí ngô còn lại của nhà An là _____ quả.



Câu 1.

Câu 2

Bạn hãy điền số thích hợp vào ô trống.

Trong tổ ong có 18 con ong, có 5 con bay đi mất. Số ong còn lại trong tổ là _____ con.

Câu 3.

Bạn hãy chọn **tất cả** đáp án đúng.

Cửa hàng bán giá 4 nghìn đồng một quả táo. Mạnh cầm 8 nghìn đồng có thể mua được bao nhiêu quả táo?

- 2 quả táo.
- 1 quả táo.
- 3 quả táo.
- 4 quả táo.

Câu 4:

Bạn hãy chọn **tất cả** đáp án đúng.

Cửa hàng bán giá 5 nghìn đồng một gói kẹo. Lam cầm 10 nghìn đồng có thể mua được bao nhiêu gói kẹo?

- 2 gói kẹo.
- 1 gói kẹo.
- 3 gói kẹo.
- 4 gói kẹo.

LIVEWORKSHEETS

Câu 5:

Bạn hãy điền số thích hợp vào ô trống.

Tài đi mua bút và cái bút giá 24 nghìn đồng. Cô bán hàng trả lại Tài 1 nghìn đồng. Vậy ban đầu Tài đã đưa cô bán hàng bao nhiêu nghìn đồng?

Trả lời: [ ] nghìn đồng.

Câu 6:

Nhìn vào sơ đồ, Hải nên đi đường nào đỡ tốn sức nhất?

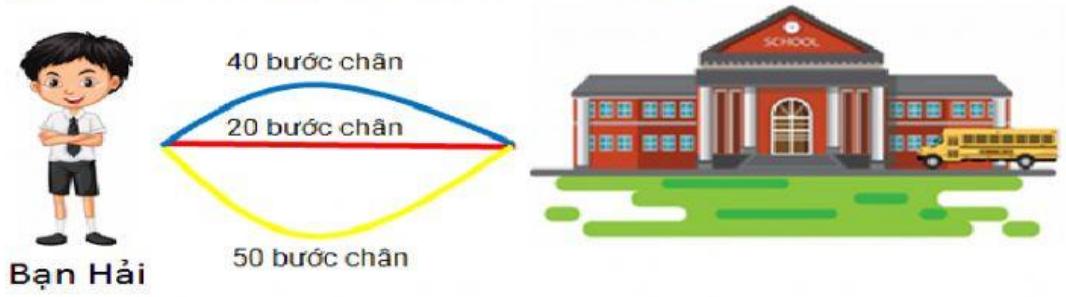

- Đường màu xanh.
- Đường màu đỏ.
- Đường màu vàng.

Câu 7:

Bạn hãy chọn đáp án đúng.

Đức dùng 1 tờ 2 nghìn đồng có thể đổi được bao nhiêu tờ 1 nghìn đồng?

- 1 tờ
- 2 tờ
- 3 tờ
- 4 tờ

LIVEWORKSHEETS

Câu 8:

Bình cầm 10 nghìn đồng đi chợ mua rau hết 8 nghìn đồng. Hỏi Bình còn bao nhiêu tiền?

- 1 nghìn đồng.
- 2 nghìn đồng.
- 3 nghìn đồng.
- 4 nghìn đồng.

Câu 9:

Bạn hãy điền số thích hợp vào ô trống.

Việt mang 3 quả sầu riêng sang nhà bà. Việt cần mua ít nhất bao nhiêu túi đựng, biết mỗi túi chỉ đựng được 1 quả sầu riêng?

Trả lời: [ ] túi.

Câu 10:

Bạn hãy điền số thích hợp vào ô trống.

Toàn cần ít nhất bao nhiêu tờ tiền loại 1 nghìn đồng và 2 nghìn đồng để mua chiếc bút giá 3 nghìn đồng?

Trả lời: [ ] tờ tiền.

Câu 11:

Bạn hãy điền số thích hợp vào ô trống.

Để trả lại Tú 2 nghìn đồng tiền thừa, bác bán hàng chỉ dùng các tờ 1 nghìn đồng. Như vậy bác bán hàng cần dùng bao nhiêu tờ 1 nghìn đồng?

Trả lời: [ ] tờ.

Câu 12:

Giang mua cục tẩy với giá 5 nghìn đồng, sau đó bán lại với giá 6 nghìn đồng. Giang có thêm bao nhiêu nghìn đồng so với trước khi mua?

Trả lời: [ ] nghìn đồng.

LIVEWORKSHEETS

Câu 13:

Phúc mua hai vé xem phim với giá 3 nghìn đồng một vé, sau đó bán lại với giá 4 nghìn đồng một vé. Phúc có thêm bao nhiêu nghìn đồng so với trước khi mua?

Trả lời: [ ] nghìn đồng.

Câu 14:

Bạn hãy điền số thích hợp vào ô trống.

Dũng mua hai hộp bi với giá 4 nghìn đồng một hộp, sau đó bán lại với giá 5 nghìn đồng một hộp. Dũng có thêm bao nhiêu nghìn đồng so với trước khi mua?

Trả lời: [ ] nghìn đồng.

Câu 15:

Hải có nhiệm vụ chở 10 bình nước cho cửa hàng. Biết mỗi lần Hải chở được 3 bình nước. Để hoàn thành nhiệm vụ Hải cần chở số lần là:

- 1 lần
- 2 lần
- 3 lần
- 4 lần

Câu 16:

Bạn hãy chọn **tất cả** đáp án đúng.

Tài muốn đổi 20 nghìn đồng thành các tờ tiền mệnh giá nhỏ hơn. Hỏi Tài có thể đổi theo những cách nào sau đây?

- Đổi thành 2 tờ 10 nghìn đồng.
- Đổi thành 1 tờ 10 nghìn đồng và 1 tờ 5 nghìn đồng.
- Đổi thành 3 tờ 5 nghìn đồng.
- Đổi thành 2 tờ 5 nghìn đồng và 1 tờ 10 nghìn đồng.

LIVEWORKSHEETS

Câu 17:

Dũng cầm 8 nghìn đồng đi mua lê. Cửa hàng bán 2 loại lê, một loại giá 3 nghìn đồng một quả, một loại giá 4 nghìn đồng một quả. Dũng có thể mua được nhiều quả nhất bao nhiêu quả lê?

- 3 quả lê
- 2 quả lê
- 5 quả lê
- 6 quả lê

Câu 18:

Tú cầm 19 nghìn đồng đi mua bánh kẹo. Biết Tú mua bánh hết 12 nghìn đồng và mua kẹo hết 2 nghìn đồng. Tú còn lại bao nhiêu nghìn đồng?

Trả lời: _____ nghìn đồng.

Câu 19:

Bác bán hàng cần trả lại Đức 6 nghìn đồng tiền thừa. Bác bán hàng có thể trả lại Đức theo cách nào dưới đây?

Cách 1:

Cách 2:

Cách 3:

Cách 4:

LIVEWORKSHEETS

Câu 20:

Mẹ cho 3 anh em Đức, Đạt, Giang 30 nghìn đồng để ăn sáng. Đức mua cho Giang cái bánh giò giá 10 nghìn đồng, Đức mua cho Đạt chiếc xúc xích giá 10 nghìn đồng.

Hỏi Đức còn lại bao nhiêu tiền?

- 5 nghìn đồng.
- 10 nghìn đồng.
- 15 nghìn đồng.
- 30 nghìn đồng.

Câu 21:

Tí đưa cô bán rau 10 nghìn đồng để mua mớ rau giá 3 nghìn đồng. Nếu cô bán hàng chỉ còn 2 loại tiền là 1 nghìn đồng và 2 nghìn đồng thì cô bán hàng cần ít nhất bao nhiêu tờ tiền để trả lại tiền thừa cho Tí?

- 1 tờ
- 2 tờ
- 3 tờ
- 4 tờ

Câu 22:

Biết rằng thuyền càng đi lâu, thì càng tốn thêm nhiên liệu và chi phí. Hỏi thuyền nên đi đường nào về cảng để tiết kiệm chi phí nhất?

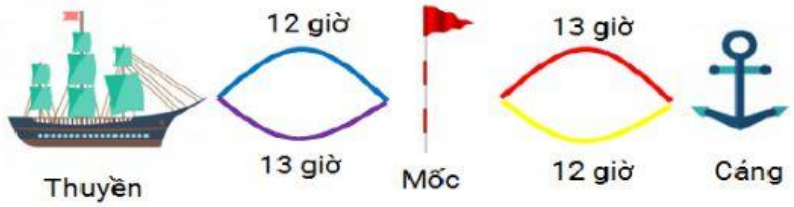

- Đường màu xanh nước biển – Đường màu đỏ.
- Đường màu xanh nước biển – Đường màu vàng.
- Đường màu tím – Đường màu đỏ.
- Đường màu tím – Đường màu vàng.

LIVEWORKSHEETS

Câu 23:

Đức tham gia trại hè có 4 lớp học trong ngày: lớp guitar từ 7 giờ đến 10 giờ, lớp piano từ 8 giờ đến 9 giờ, lớp trống từ 11 giờ đến 12 giờ, lớp hát từ 10 giờ đến 11 giờ. Biết học phí mỗi lớp học là 30 nghìn đồng. Đức phải trả bao nhiêu tiền để tham gia được nhiều lớp học nhất biết rằng Đức không thể đăng kí được cả hai lớp học nào nếu chúng trùng giờ nhau?

- 30 nghìn đồng
- 60 nghìn đồng
- 90 nghìn đồng
- 50 nghìn đồng

Câu 24:

Minh và Thành góp tiền để mua một bộ đồ chơi và một quyển tập vẽ. Thành góp 12 nghìn đồng, Minh góp 7 nghìn đồng là đủ tiền. Biết bộ đồ chơi giá 15 nghìn đồng. Hỏi quyển tập vẽ giá bao nhiêu nghìn đồng?

Trả lời: [ ] nghìn đồng.

Câu 25:

Có 2 loại bánh: loại I và loại II với giá mua vào lần lượt là 30 nghìn đồng và 20 nghìn đồng, giá bán ra lần lượt là 50 nghìn đồng và 40 nghìn đồng. Đức có 60 nghìn đồng, hỏi Đức làm theo cách nào dưới đây để số tiền có thêm được sau khi bán bánh là nhiều nhất?

- Mua 3 chiếc bánh loại II.
- Mua 2 chiếc bánh loại II, 1 chiếc bánh loại I.
- Mua 2 chiếc bánh loại I.
- Mua 1 chiếc bánh loại II, 1 chiếc bánh loại I.

Câu 26:

LIVEWORKSHEETS

Giang mua bánh ở siêu thị: mua 1 hộp giá 30 nghìn đồng, mua cùng lúc 2 hộp giá 55 nghìn đồng. Bạn Giang muốn mua được 2 hộp bánh thì nên mua theo cách nào sẽ có lợi nhất?

- Mua từng hộp bánh một
- Mua cùng lúc 2 hộp bánh
- Mua từng hộp hay cùng lúc 2 hộp đều có lợi như nhau.

Câu 27:

Người ta muốn trồng cây trên đường đi bộ dài 50 bước chân. Họ muốn vào mùa hè khi trời nắng, khi mặt trời chiếu xuống, bóng cây có thể che nắng cho mọi người, và muốn mỗi cây che được một đoạn 10 bước chân. Hỏi cần ít nhất bao nhiêu cây để che hết đường đi bộ đó?

Trả lời: _____ cây.

Câu 28:

Người ta muốn trồng cây trên đường đi bộ dài 60 bước chân. Họ muốn vào mùa hè khi trời nắng, khi mặt trời chiếu xuống, bóng cây có thể che nắng cho mọi người, và muốn mỗi cây che được một đoạn 10 bước chân. Hỏi cần ít nhất bao nhiêu cây để che hết đường đi bộ đó?

Trả lời: _____ cây.

Câu 29:

Cửa hàng mua 3 chiếc quần đùi giá 20 nghìn đồng một chiếc. Sau đó bán lại với giá 30 nghìn đồng 1 chiếc. Hỏi cửa hàng được lợi nhiều hơn so với trước lúc mua quần bao nhiêu tiền?

- 30 nghìn đồng.
- 20 nghìn đồng.
- 10 nghìn đồng.
- 60 nghìn đồng.

LIVEWORKSHEETS