MATEMÁTICAS. REPASO FINAL .UNIDAD 10

1.- Relaciona.

Equilátero	Dos lados iguales
Acutángulo	Tres lados desiguales
Escaleno	Tres ángulos agudos
Rectángulo	Tres lados iguales
Isósceles	Un ángulo recto

2.- Marca con una cruz como en el primero. En cada caso debes colocar dos cruces.

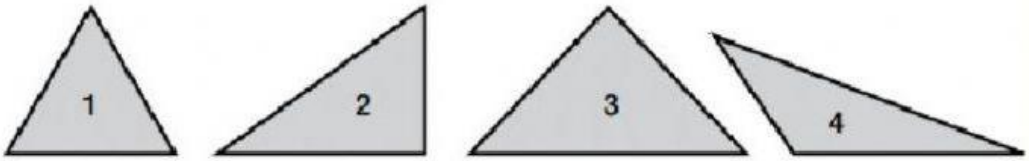

	Equilátero	Isósceles	Escaleno	Rectángulo	Acutángulo	Obtusángulo
1						
2						
3						
4						

3.- Une cada polígono con su nombre.



TRIÁNGULO
CUADRADO
PENTÁGONO
HEXÁGONO
HEPTÁGONO
OCTÓGONO
DECÁGONO

4.- Escribe el nombre de cada cuadrilátero. Cuidado con las tildes.

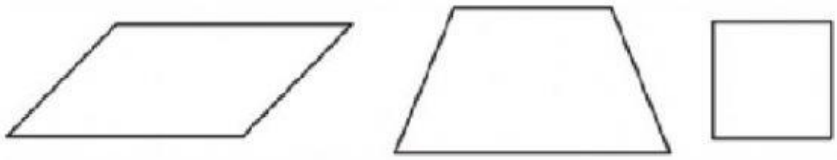

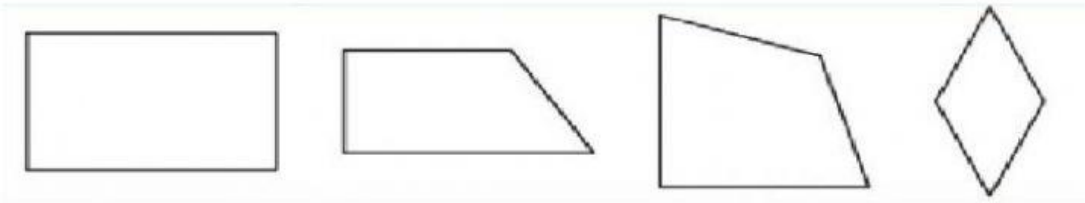

5.- De los anteriores, ¿cuales son paralelogramos? Elige SI o NO.

1.

2.

3.

4.

5.

6.

7.

6.- Calcula el perímetro de estas figuras y escribe la cantidad al lado de su nombre.

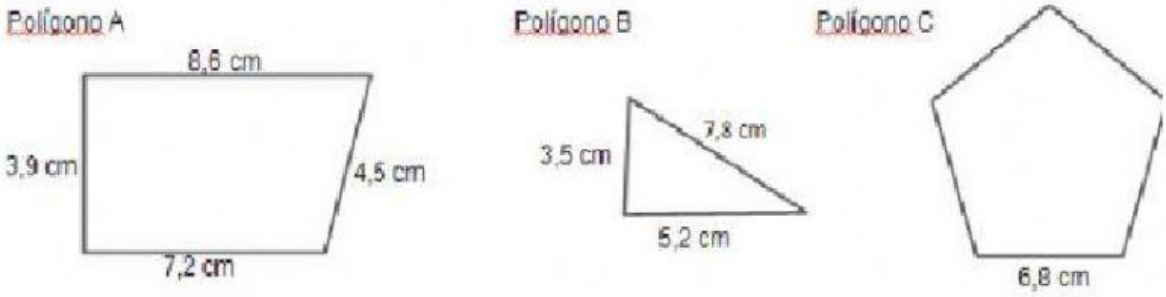

Pentágono cm Triángulo cm Trapecio cm

7.- Escribe círculo o circunferencia debajo de cada objeto. Cuidado con la tilde.

8.- Calcula la longitud de esta circunferencia. El radio mide 2 m.



L= ☐ m