Домашня робота 14.03

10

Знайдіть невідомі кути.
(Наведені нижче рисунки фігур виконано схематично.)

а.

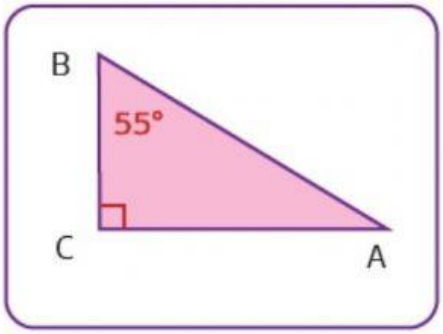

∠A = ____°

б.

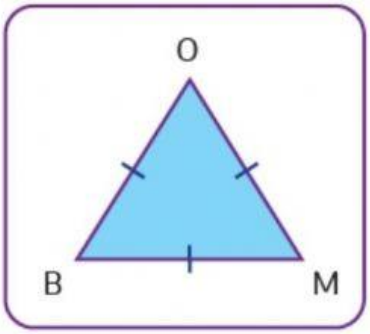

∠B = ____°

в.

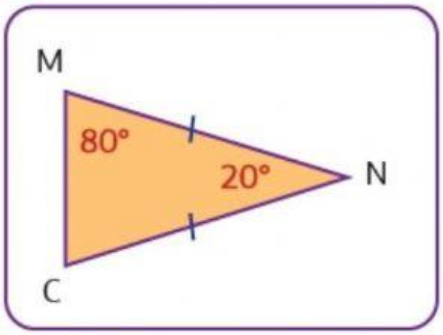

∠C = ____°

г.

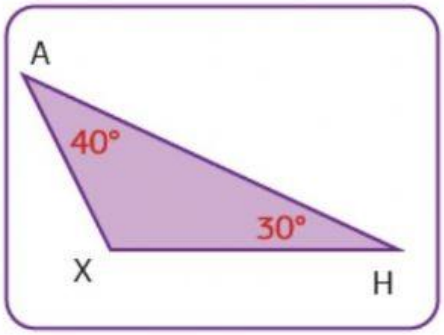

∠X = ____°

д.

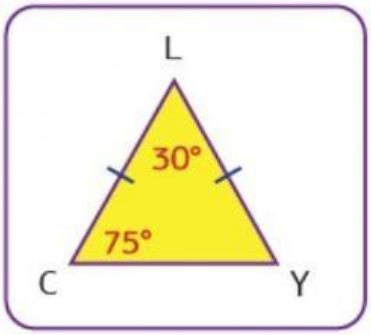

∠Y = ____°

е.

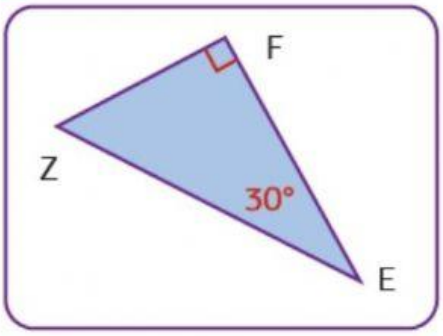

∠Z = ____°

Заповніть таблицю, знайшовши один із невідомих кутів трикутника POM.

∠P	90°		112°	60°		19°
∠O	30°	45°		60°	58°	
∠M		45°	34°		64°	95°

У прямокутному трикутнику ABC (∠C = 90°) кут A дорівнює 45°. Знайдіть градусну міру кута B.

Відповідь: кут B =_____°

LIVEWORKSHEETS