Secundaria Elizabeth
Seton

Nombre _____

ACTIVIDADES PARA APRENDER

1.- Enseguida se encuentran ubicadas varias figuras en el primer cuadrante del plano cartesiano, escribe los pares ordenados de donde está ubicada cada figura.

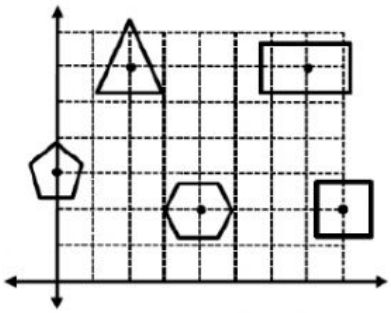

Pentágono (___, ___)

Triángulo (___, ___)

Cuadrado (___, ___)

Hexágono (___, ___)

Rectángulo (___, ___)

2.- Localiza los siguientes puntos en el plano cartesiano

A (3, 2)

B (5, 1)

C (4, 6)

D (0, 2)

E (2, 4)

F (6, 6)

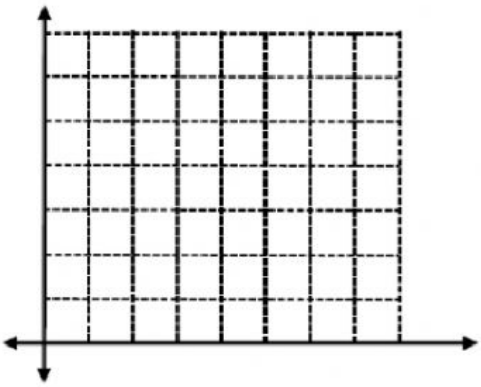

3.- Identifica los puntos que se piden del dibujo hecho en el plano cartesiano.

A (___, ___)

B (___, ___)

C (___, ___)

D (___, ___)

E (___, ___)

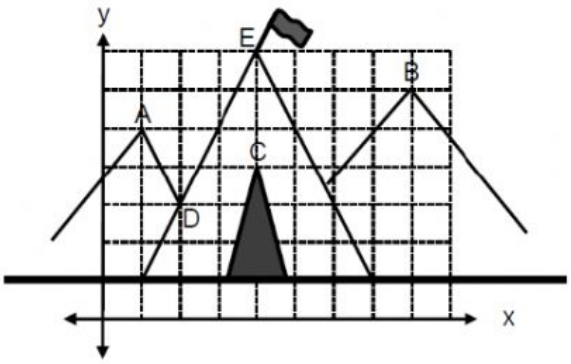

LIVEWORKSHEETS