PHIẾU ÔN TẬP CUỐI TUẦN 25

MỤC TIÊU

- ✓ Chu vi hình tam giác, chu vi hình tứ giác
- ✓ Chu vi hình chữ nhật, chu vi hình vuông

PHẦN 1: TRẮC NGHIỆM

Bài 1. Một mảnh giấy hình chữ nhật có chiều dài 15 cm, chiều rộng 8 cm. Tính chu vi mảnh vườn hình chữ nhật:

A. 38 cm B. 40 cm C. 43 cm D. 46 cm

Bài 2. Chu vi của hình tam giác DEG là:

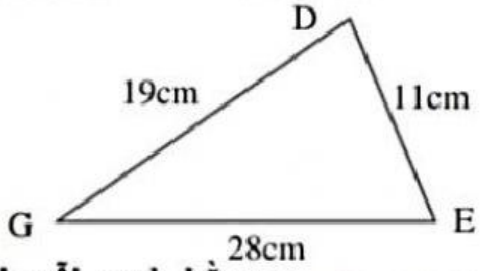

A. 58cm B. 38cm

C. 48cm D. 56cm

Bài 3. Một bồn hoa hình vuông có độ dài mỗi cạnh bằng 2018cm. Chu vi của bồn hoa đó là:

A. 8072 cm B. 8052 cm

C. 8042 cm D. 8054 cm

Bài 4. Một sân chơi hình tứ giác có độ dài mỗi cạnh lần lượt bằng 210m, 115m, 226m, 334m. Chu vi của sân chơi đó là:

A. 800m B. 805m C. 885m D. 865m

Bài 5. Biết EI = 4 cm; IF = 2 cm; FG = 3cm. Chu vi của hình chữ nhật EFGH trong hình dưới đây là:

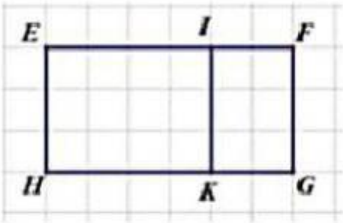

A. 18 cm B. 16 cm

C. 20 cm D. 12 cm

PHẦN 2: TỰ LUẬN

Bài 1: Số?

Chiều dài	Chiều rộng	Chu vi hình chữ nhật
7cm	4cm	(7 + 4) × 2 = 22 (cm)
9cm	5cm	

LIVEWORKSHEETS

21m	9m	
35m	8m	

Bài 2: Nối các hình sau với chu vi tương ứng:

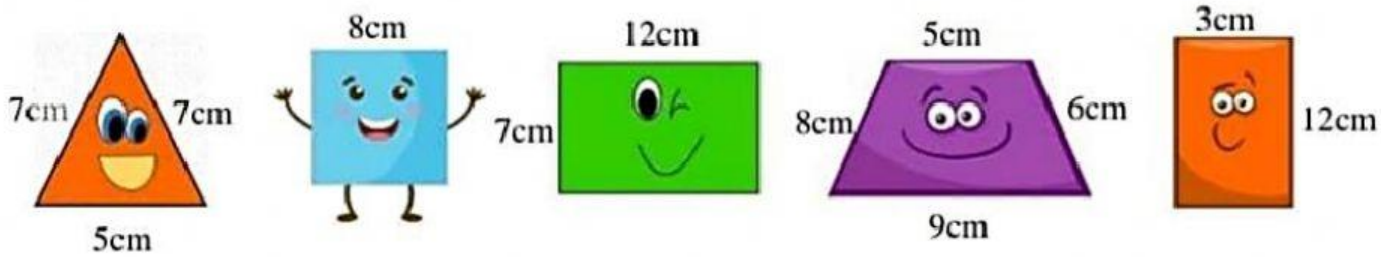

Bài 3: Cho hình vuông và hình chữ nhật có các kích thước như sau:

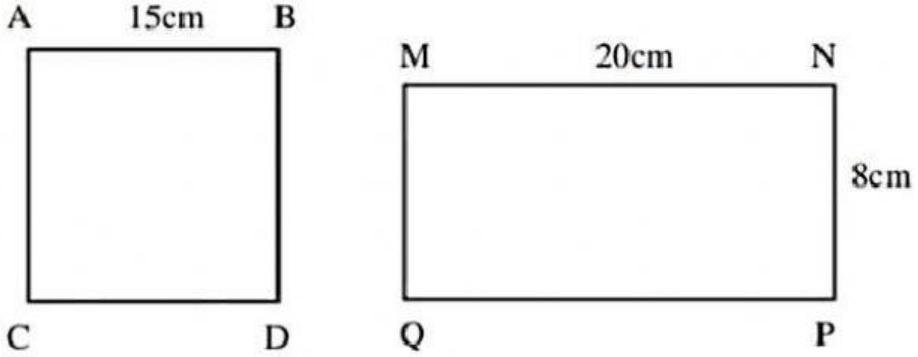

Với mỗi ý kiến sau, điền Đ trước ý đúng, S trước ý sai:

- [ ] a. Chu vi của hình vuông ABCD bằng chu vi của hình chữ nhật MNPQ.
- [ ] b. Chu vi của hình vuông ABCD bé hơn chu vi của hình chữ nhật MNPQ.
- [ ] c. Chu vi của hình vuông ABCD lớn hơn chu vi của hình chữ nhật MNPQ.
- [ ] d. Chu vi của hình vuông ABCD bằng 60cm.
- [ ] e. Chu vi của hình chữ nhật MNPQ bằng 58cm.

Bài 4: Một bàn ăn hình vuông có cạnh là 5dm 2cm. Tính chu vi của bàn ăn đó.

LIVEWORKSHEETS

Bài giải

Bài 7: Một hình chữ nhật có chiều rộng là 36cm, chu vi là 216cm. Tính chiều dài của hình chữ nhật đó.

Bài giải

Bài 8: Tính cạnh của một hình vuông, biết chu vi của hình vuông bằng chu vi của hình chữ nhật có chiều dài là 96cm, chiều rộng là 32cm.

Bài giải

LIVEWORKSHEETS