1- Fíjate en el tangram completo, ¿Qué pieza falta en cada figura?

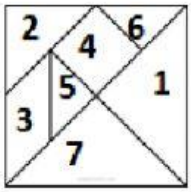

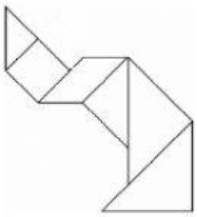

A- Falta.....

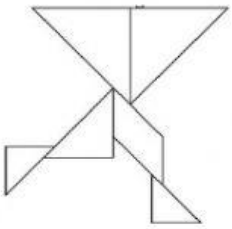

B- Falta.....

2- Completa los sumandos que faltan:

¡RECUERDA!
El orden de los sumandos no cambia el resultado.

A- 129 +.....= 345 + 129

B- 419 + 221= ..... + 419

C- ..... + 341= 341 + 234

D- 221 + 369 = 369 + ...

3- **Completa las series:**

96 → 91 → ☐ → ☐ → ☐ → ☐ → 66

52 → 57 → ☐ → ☐ → ☐ → ☐ → 82

4- Averigua qué números son:

Tiene 6 Centenas y 6 decenas.
Además, es menor que 664.

⇨ ☐ ☐ ☐ ☐

Tiene 5 Centenas y 9 decenas.
Además, es mayor que 595.

⇨ ☐ ☐ ☐ ☐

LIVEWORKSHEETS

5- Escribe el nombre del número <u>posterior:</u>

A- 659 → .....

B- 728 → .....

C- 747 → .....

6- Resuelve:

3 7 5	8 8 9	4 2 3	5 2 5
- 2 6 3	- 1 4 8	- 3 4 9	- 3 9 8
1 2 4	1 8 1	3 0	2 3
6 7 3	7 8 9	2 3	2 5
+ 1 6 1	+ 4 8	+ 4 9	+ 4 8

7- Completa y resuelve con la propiedad asociativa:

12 + **14** + 33= ..... + 33 = ...

24 + **31** + **40** = 24 + ... = ...

34 + **12** + 25 = ... + 25 = ...

21 + **52** + **18** = 21 + ... = ...

8- Indica si son polígonos.

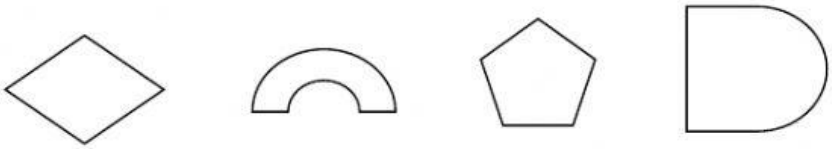

LIVEWORKSHEETS

9- Completa:

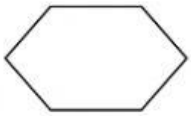

Lados: …....

Vértices:…....

Nombre: ……

Lados: …....

Vértices:…....

Nombre: ……

Lados: …....

Vértices:…....

Nombre: ……

10- Verdadero o falso.

Los rectángulos y los rombos son cuadrados porque tienen 4 lados. …….

Los círculos no tienen vértices. ……

Los polígonos tienen el mismo número de lados que de vértices. …….

Los polígonos están delimitados por líneas poligonales y curvas. ……..

11- Elige la operación que <u>NO</u> resuelve estos problemas.

A- En un equipo de fútbol hay 24 jugadoras. Si 3 son porteras, ¿Cuántas no son porteras?

B- En la granja del Álamo hay 10 cerdos, 14 cabras, 2 buhos y 6 caballos. ¿Cuántos animales de 4 patas hay?

LIVEWORKSHEETS