Діагностична робота №6

1. Оленка хоче купити ляльку, а Дмитрик іграшковий мопед. Допоможи їм визначити вартість запланованої покупки.

2. Розглянь таблицю відстаней між містами України. Дай відповідь на питання:

- Яка відстань від Вінниці до Києва? _____

- Яка відстань від Одеси до Вінниці?_____

- Яка відстань від Києва до Одеси?_____

	Вінниця	Київ	Одеса
Вінниця	-	266 км	424 км
Київ	266 км	-	476 км
Одеса	424 км	476 км	-

3. Ролики коштують 794 грн, а захисний шолом – на 419 грн дешевший. Яка вартість шолома?

А) 365 грн Б) 375 грн В 385 грн

4. Розглянь вивіски. Скільки годин триває робота кожного закладу у четвер?
Відповідь запиши в прямокутники.



5. Добери три значення *x*, що є розв'язками нерівності 325-x < 500

6. Виконай обчислення письмово

412+ 78 839+171 412-319

7. Відстань від Одеси до Херсона становить 201 км, від Одеси до Миколаєва 133 км, від Миколаєва до Херсона – 71 км. Яку відстань запланували проїхати туристи, рухаючись від Одеси до Херсона, а повертатися назад в Одесу через Миколаїв?

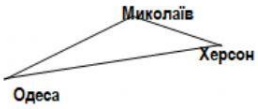

10. Розглянь діаграму. Дай відповіді на питання:

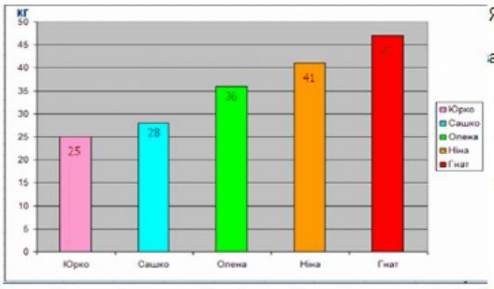

Яка маса тіла Юрка?_____

ажчий Сашко чи Оленка?_____

- На скільки кг?_____

- Хто важить 47 кг?_____

- На скільки кг Гнат важчий за Ніну?___

САМООЦІНЮВАННЯ

Постав ✓.

Завдання для мене були:

- ☐ дуже легкі
- ☐ легкі
- ☐ складні
- ☐ дуже складні
- ☐ не знаю

ОЦІНЮВАННЯ ВЧИТЕЛЕМ

- ++ має значні успіхи
- + демонструє помітний прогрес
- ✓ досягає результату з допомогою вчителя
- ! потребує значної уваги і допомоги

LIVEWORKSHEETS