Trường Tiểu học Hiến Nam

Họ và tên: .....

Cô: Thủy Lê

TUẦN 23

Kiến thức trọng tâm

- Khối trụ, khối cầu.
- Luyện tập chung.

1. Hình nào dưới đây là khối trụ?

2. Hình nào dưới đây là khối cầu?

3. Chọn đúng hình với tên gọi của chúng:

Khối trụ	Khối cầu	Khối lập phương	Khối khác

4. Điền "khối trụ", "khối cầu" thích hợp vào chỗ chấm:

* Sự khác nhau giữa khối trụ và khối cầu:

- ..... xếp chồng được lên nhau còn ..... thì không.
- ..... tròn không có mặt phẳng còn ..... có 2 mặt phẳng.
- ..... lăn được về mọi phía còn ..... chỉ lăn được về 2 phía.

LIVEWORKSHEETS

5. Đếm rồi điền số thích hợp vào ô trống:

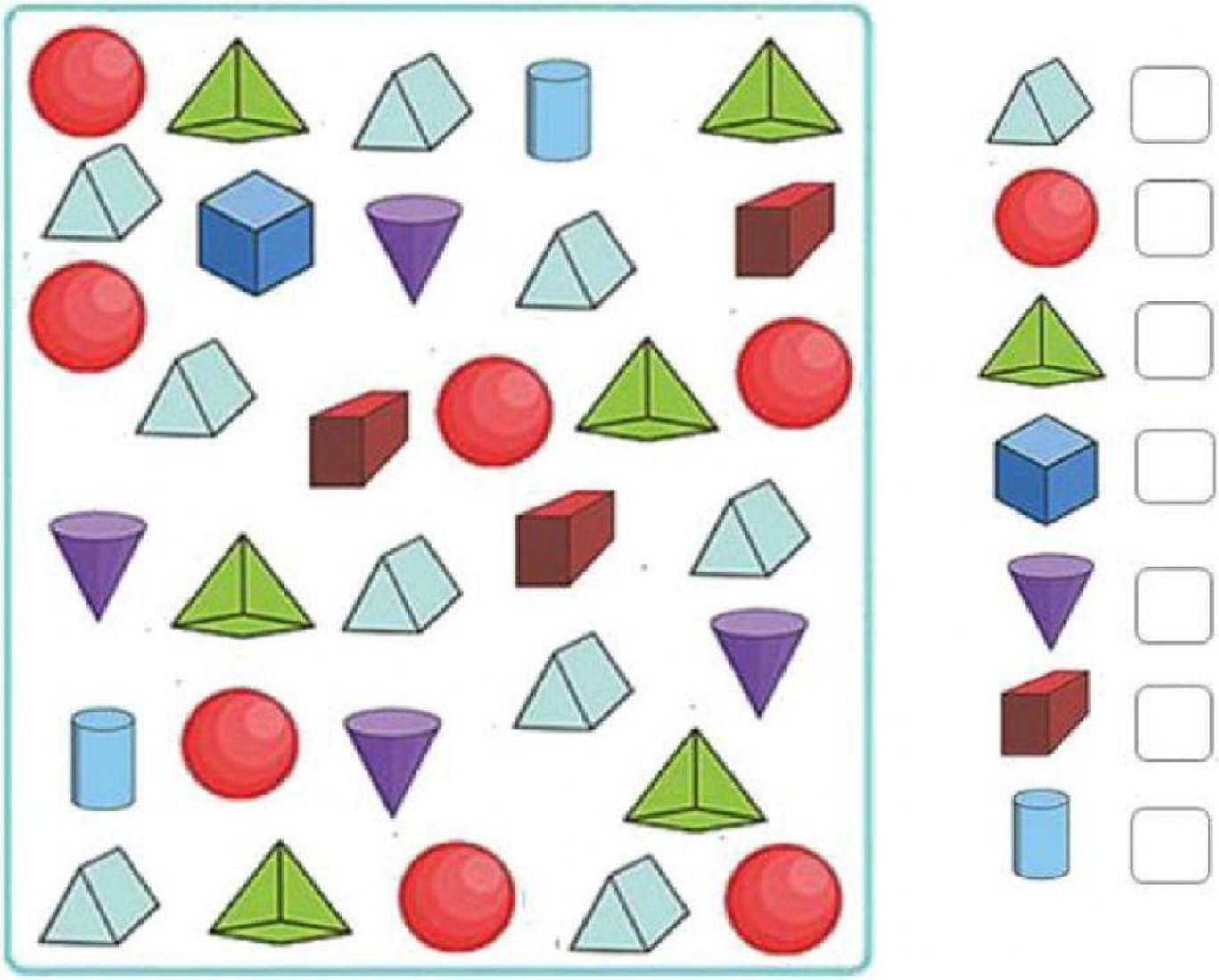

6. Quan sát tranh, điền số thích hợp vào chỗ chấm:

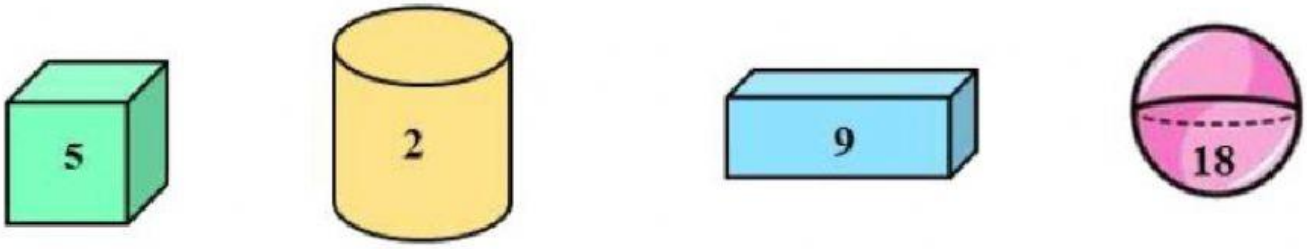

- Tổng của hai số ghi trên khối hộp chữ nhật và khối cầu là .....
- Hiệu của hai số ghi trên khối cầu và khối lập phương là .....
- Tích của hai số ghi trên khối lập phương và khối hộp chữ nhật là .....
- Thương của hai số ghi trên khối cầu và khối trụ là .....

LIVEWORKSHEETS

7. Tính:

45 cm : 5 = ...

16 kg : 2 = ...

20 dm : 5 = ...

20 cm : 5 cm = ...

5 cm x 7 = ...

2 dm x 9 = ...

20 phút x 2 = ...

20 phút : 2 phút = ...

8. Số ?

Số bị chia	16		20		10	18		45	
Số chia	2	5		5		2	2	5	5
Thương		3	4	5	5		10		7

9. Viết số thích hợp vào chỗ chấm:

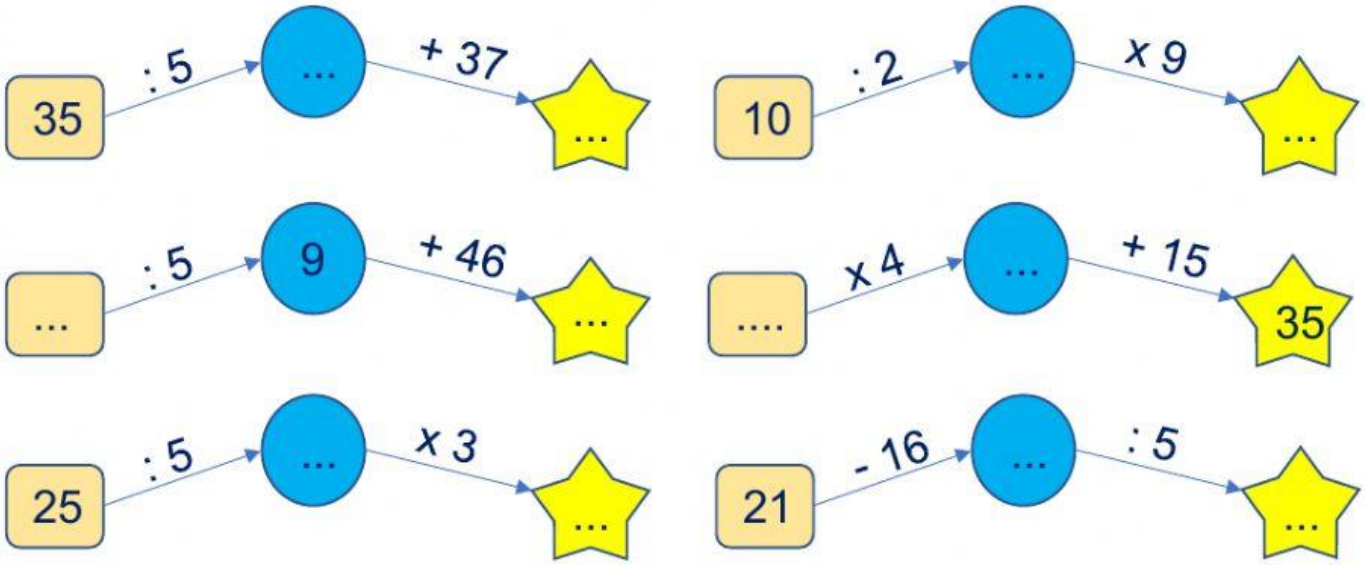

10. Điền số thích hợp vào chỗ chấm:

a) Mẹ mua một số quả táo. Mẹ chia số táo đó cho hai con, mỗi người 6 quả thì mẹ còn thừa 3 quả. Lúc đầu mẹ có ..... quả táo.

b) Mẹ mua 20 quả táo. Mẹ cho hai con, mỗi người 6 quả. Sau khi cho, mẹ còn lại ..... quả táo.

c) Mẹ mua 20 quả táo. Mẹ cho hai con, mỗi người được số táo như nhau thì mẹ còn lại 12 quả. Mẹ đã cho mỗi con ..... quả táo.

LIVEWORKSHEETS