Prueba escrita de Masa, Longitud y Capacidad

1 Expresa el peso de estos animales en kilos.



▶ 2 t y 150 kg = _____ kg



▶ 4 t y 50 kg = _____ kg



▶ 30 t y 12 kg = _____ kg

2 ¿Cuántos gramos son? Calcula y completa.

- medio kilo = _____ g
- un cuarto de kilo = _____ g
- tres cuartos de kilo = _____ g
- 12 kg = _____ g
- 2 kg y 3 g = _____ g
- 9 kg y 815 g = _____ g

3 Expresa en centilitros la cantidad de líquido que hay en cada recipiente.



2 ℓ y 4 dl | 9 dl y 8 cl | 4 ℓ y 7 cl | 12 ℓ y 45 dl

- jarra ▶ _____
- botella ▶ _____
- bidón ▶ _____
- garrafa ▶ _____

4 Expresa en la unidad indicada.

En decilitros

- 3 ℓ y 3 dl = _____
- 8 ℓ y 6 dl = _____
- 14 ℓ y 7 dl = _____

En centilitros

- 9 dl y 7 cl = _____
- 16 ℓ, 4 dl y 9 cl = _____
- 23 ℓ, 11 dl y 8 cl = _____

5 Escribe debajo de cada atleta su nombre.

_____ _____ _____ _____ _____

- Luis, que lleva calcetines, recorrió 1 km y 50 dam.
- Marcos, que tiene a Cris a su derecha, recorrió 10 hm y 700 m.
- Ana, que está entre Marcos y Pepe, recorrió 20.000 dm.
- Cris recorrió la mitad de metros que Ana.
- Pepe, que no usa gafas, recorrió un tercio de la distancia de Luis.

■ **Ahora, escribe el nombre de cada niño y los metros que ha recorrido.**

- _____ ▶ _____ m
- _____ ▶ _____ m
- _____ ▶ _____ m
- _____ ▶ _____ m
- _____ ▶ _____ m