ความเท่ากันทุกประการ

ความเท่ากันทุกประการของรูปสามเหลี่ยม

คำชี้แจง : ให้นักเรียนพิจารณารูปสามเหลี่ยมที่กำหนดให้ ว่าแต่ละคู่มีความสัมพันธ์กันแบบใด

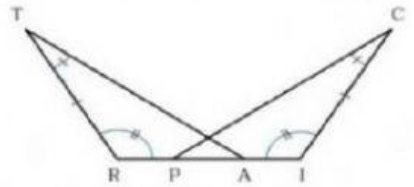

มีความสัมพันธ์แบบ.....

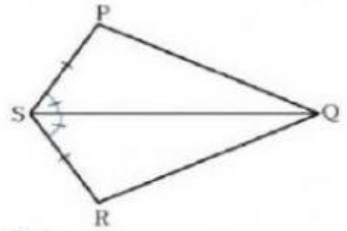

มีความสัมพันธ์แบบ.....

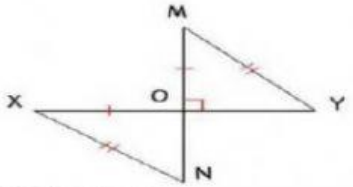

มีความสมพนธ์แบบ.....

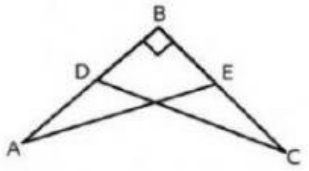

มีความสัมพันธ์แบบ.....

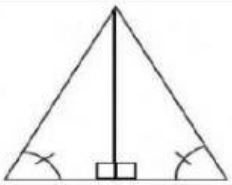

มีความสัมพันธ์แบบ.....

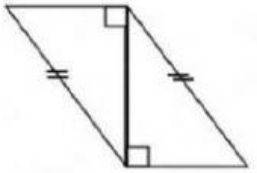

มีความสัมพันธ์แบบ.....

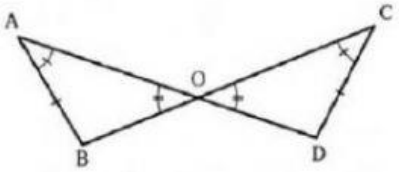

มีความสัมพันธ์แบบ.....

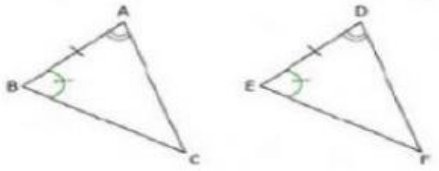

มีความสัมพันธ์แบบ.....

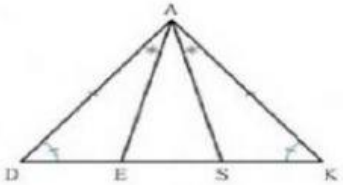

มีความสัมพันธ์แบบ.....

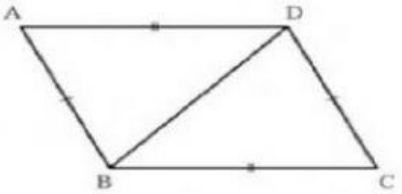

มีความสัมพันธ์แบบ.....

ชื่อ .....ชั้น.....เลขที่.....

LIVEWORKSHEETS