4

ORGANIZA LA INFORMACIÓN, ELIGE LA OPERACIÓN Y RESPONDE A LA PREGUNTA

En el grupo de 3º B tenemos una docena de lápices de colores por cada alumno, ¿Cuántos lápices hay en total?



¿Qué tres cosas se relacionan en el problema?

¿Qué me dan y qué me piden?

- Número de partes → →
- Valor de cada parte → →
- Total → →

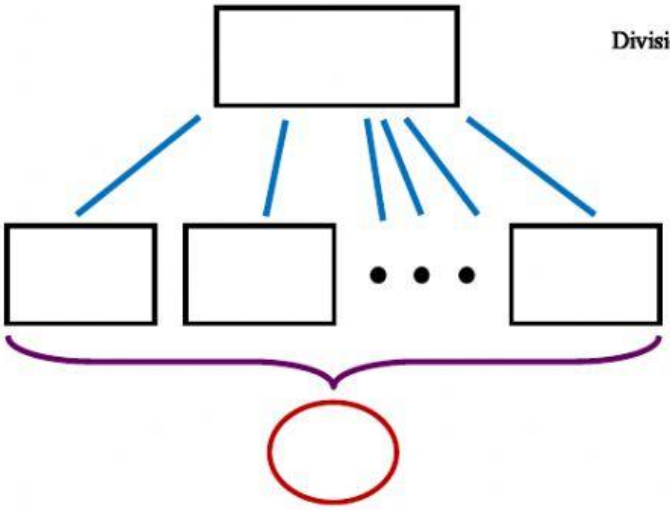

Multiplicación ☐

División ☐

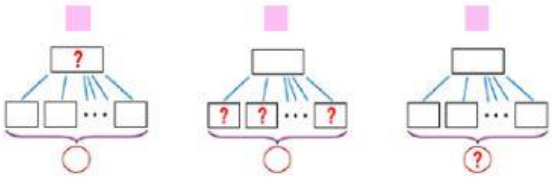

Elige _____

Respuesta:

LIVEWORKSHEETS