LATIHAN SOAL
SEKOLAH DASAR NEGERI JIMBARAN WETAN
Tahun Ajaran 2023

Nama : ..... Mata Pelajaran : Matematika
Kelas : VI (Enam) Hari/Tanggal : .....

Berilah tanda silang (x) pada huruf a, b, c, dan d pada jawaban yang benar!

1. 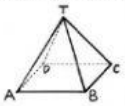

Nama bangun ruang disamping adalah ….
a. Limas Segitiga c. Kerucut
b. Limas Segiempat d. Prisma Segitiga

2. 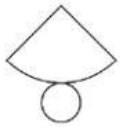
Gambar disamping merupakan selimut dari bangun ruang ….
a. Limas Segitiga c. Kerucut
c. Limas Segiempat d. Prisma Segitiga

3. Perhatikan tabel dibawah ini!

No.	Sifat - sifat Bangun Ruang
1.	Memiliki 2 rusuk
2.	Memiliki 2 sisi yaitu alas dan selimut
3.	Sisi alas dan tutupnya berbentuk lingkaran
4.	Jarak antara alas dan tutup disebut tinggi

Berdasarkan sifat - sifat yang disebutkan disamping sesuai dengan sifat bangun ….
a. Prisma Segitiga
b. Tabung
c. Kerucut
d. Limas Segiempat

4. Perhatikan gambar jaring - jaring dibawah ini!
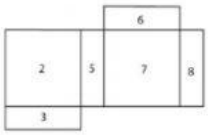

Jika nomor 7 merupakan alas, maka tutup terletak pada nomor ….
a. 2 b. 3 c. 5 d. 8

5. Gambar dibawah ini yang merupakan gambar bangun jaring - jaring bola adalah ….
a.
b. 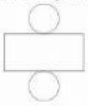
c. 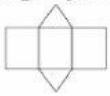
d. 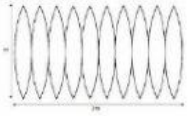

6. Bangun ruang kubus memiliki jumlah rusuk sebanyak ….
a. 1 b. 6 c. 10 d. 12

7. Perhatikanlah gambar bangun dibawah ini!
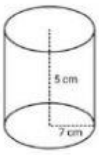

Luas selimut tabung disamping jika diketahui jari - jari 7 cm dan tinggi 5 cm adalah ….
a. 101 cm^2 b. 110 cm^2 c. 202 cm^2 d. 220 cm^2

8. 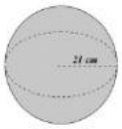

Perhatikanlah gambar bangun disamping ini!
Luas permukaan bola disamping jika diketahui jari-jarinya 21 cm adalah ….
a. 4.455 cm^2 c. 5.445 cm^2
b. 4.545 cm^2 d. 5.544 cm^2

9. Jika diketahui sebuah tabung memiliki tingginya 10 cm dan luas permukaannya 748 cm^2. maka jari - jari tabung tersebut adalah ….
a. 7 cm b. 10 cm c. 14 cm d. 28 cm

10. 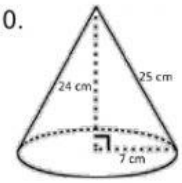

Perhatikan gambar disamping!
Luas permukaan bangun disamping adalah ….
a. 407 cm^2 c. 704 cm^2
b. 470 cm^2 d. 740 cm^2

LIVEWORKSHEETS