ELEMENTOS Y GRÁFICAS DE FUNCIÓN SENO Y COSENO

Observa las siguientes funciones e identifica los elementos de cada una y la gráfica que la representa.

Escribe si en la grafica correcta y no en la incorrecta

$$f(x) = 3\cos(5x + \frac{\pi}{2})$$

Amplitud	
Frecuencia	
Periodo	
Desface	
Fase	

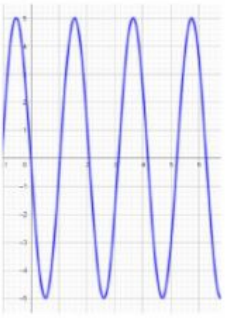

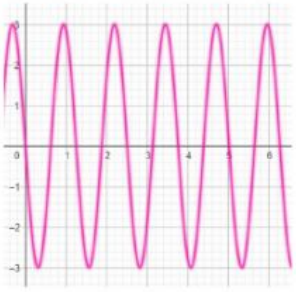

$$y = 2\text{sen}(x - \frac{\pi}{2})$$

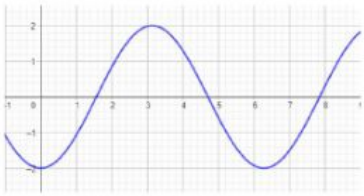

Amplitud	
Frecuencia	
Periodo	
Desface	
Fase	

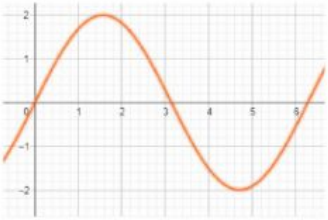

LIVEWORKSHEETS