Dešimtainės trupmenos 5 klasei (namų darbas)

1. Parašykite dešimtainėmis trupmenomis:

a) nulis sveikų ir viena dešimtoji;

b) trys sveiki ir trylika šimtųjų;

c) devyniolika sveikų ir dvi šimtosios;

d) trisdešimt keturi sveiki ir šeši šimtai keturiasdešimt penkios tūkstantosios;

e) devyniasdešimt keturi sveiki ir dvidešimt septynios tūkstantosios.

2. Koks skaičius turėtų būti įrašytas vietoj langelių, kad lygybė būtų teisinga:

a) $0{,}1 = \frac{\square}{10}$; b) $3{,}2 = 3\frac{2}{\square}$; c) $1{,}23 = 1\frac{\square}{100}$; d) $10{,}04 = 10\frac{4}{\square}$;

e) $4{,}135 = 4\frac{\square}{1\,000}$; f) $3{,}246 = 3\frac{246}{\square}$; g) $0{,}041 = \frac{\square}{1\,000}$; h) $14{,}005 = 14\frac{\square}{\square}$?

3. Kuri iš trupmenų lygi 0,125?

A $\frac{125}{100}$ **B** $\frac{125}{1\,000}$ **C** $\frac{125}{10\,000}$ **D** $\frac{125}{100\,000}$

4. Kuri trupmena lygi trupmenai 0,08?

A 0,80 B 0,008 C 0,0800 D 0,8000

5. Pažymėkite, kuri lygybė teisinga?

A $\frac{1}{5} = 0{,}5$ **B** $\frac{1}{5} = 1{,}5$ **C** $\frac{1}{5} = 0{,}2$ **D** $\frac{1}{5} = 0{,}25$

6. Parašykite dešimtaine ir paprastąja trupmenomis, kuri kvadrato dalis yra nuspalvinta.

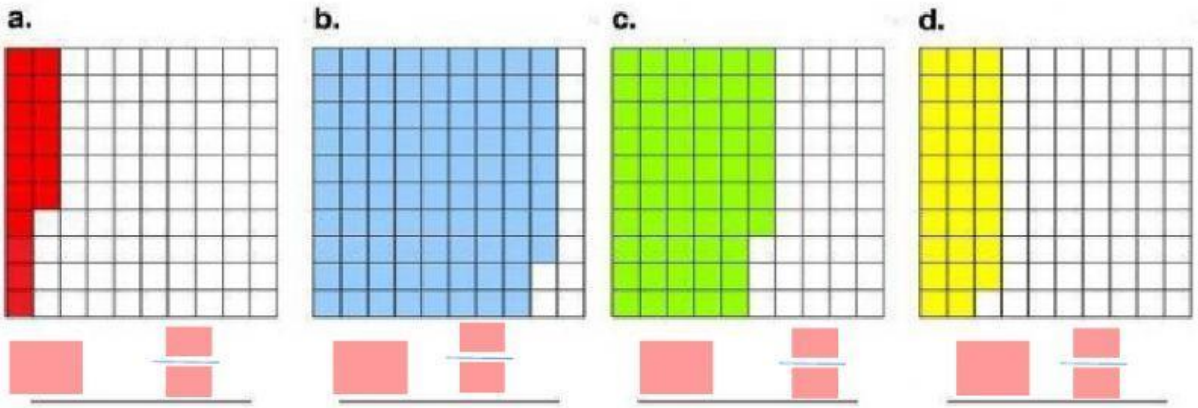

LIVEWORKSHEETS

7. Skaičių spindulyje pažymėkite trupmenas (nuneškite trupmenas ir padėkite skaičių spindulyje):

a) 0,2; 0,3; 0,6; 1,1;



b) $\frac{1}{2}$; 1,9; $1\frac{1}{5}$; 0,1.

8. Parašykite trupmenas, kurios atitinka skaičių spindulyje pažymėtus taškus.

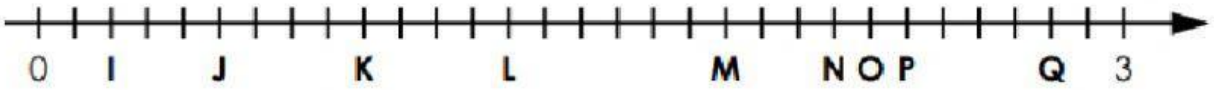

I	_____	L	_____	O	_____
J	_____	M	_____	P	_____
K	_____	N	_____	Q	_____

9. Parašykite, kuris taškas atitinka pavaizduotas trupmenas.

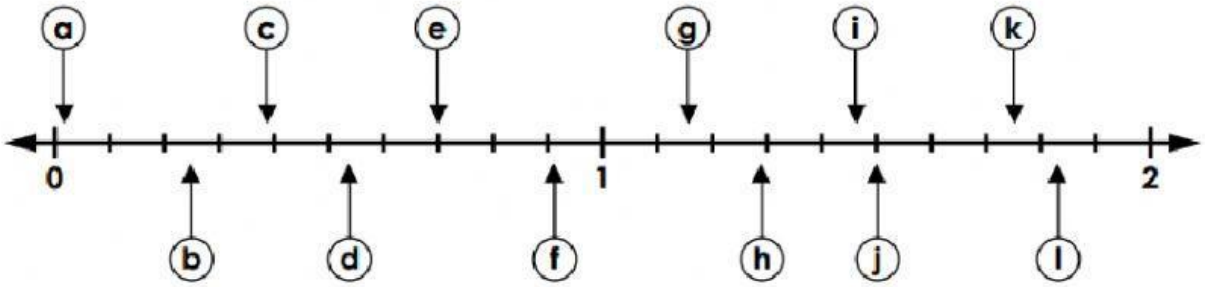

0.38	c	1.16	_____	1.75	_____	0.54	_____
0.70	_____	1.47	_____	0.02	_____	1.50	_____
1.29	_____	0.25	_____	1.83	_____	0.91	_____

LIVEWORKSHEETS

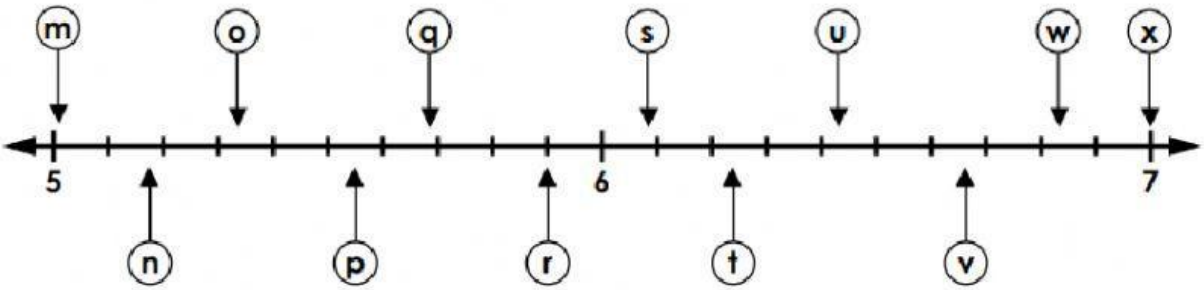

5.90 _____	5.34 _____	6.43 _____	5.55 _____
6.67 _____	6.08 _____	5.01 _____	7.00 _____
5.17 _____	6.83 _____	5.69 _____	6.24 _____

Įsivertinkite:

Užduotys buvo labai lengvos ir jas atlikau greitai.

Reikėjo pagalvoti, bet viskas pavyko be pagalbos.

Reikėjo prisiminti taisykles ir paklausti patarimo, bet viską dabar suprantu.

Man buvo per sunku, kitą pamoką paklausiu, ko nesupratau.

LIVEWORKSHEETS