ДОСЛІДЖУЄМО КВАДРАТ

26 Знайди значення виразів.

I варіант	II варіант	III варіант
47 + 8 = □□	27 − 9 = □□	18 + 6 = □□
43 − 6 = □□	68 + 5 = □□	93 − 7 = □□
55 + 8 = □□	36 − 8 = □□	36 + 5 = □□
74 − 7 = □□	47 + 5 = □□	74 − 7 = □□
27 + 9 = □□	22 − 9 = □□	55 + 8 = □□
32 − 4 = □□	56 + 6 = □□	87 − 9 = □□

27 Розв'яжи задачу.

- На галявині виросло 14 лисичок і 8 сироїжок, а білих грибів на 7 менше, ніж лисичок і сироїжок разом. Скільки білих грибів виросло на галявині?



Задача

Склади і розв'яжи обернену задачу, щоб шуканим у ній було число 7.

Задача



28 Які висновки можна зробити з того, що $MPKB$ — квадрат? Закінчи речення.

Усі кути —
Усі сторони —

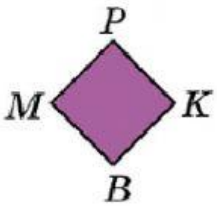

LIVEWORKSHEETS