CENTRO TECNOLÓGICO DE PANAMÁ

TÉCNICO EN ENFERMERÍA

PARCIAL #3

NOCIONES DE ANATOMÍA Y FISIOLOGÍA HUMANA

ENF. 104

Nombre: _____ **Profesora:** Yaritzel Bethancourt

Cédula: _____

Fecha: _____ **Calificación obtenida:** _____/100

I. PARTE. Escoja la mejor respuesta. Coloque en el recuadro la letra correspondiente a la respuesta correcta.

1. Consiste en grupos de células, tejidos y órganos que vigilan las superficies corporales y los compartimientos líquidos internos y reaccionan ante la presencia de sustancias potencialmente nocivas
   a. Sistema urinario.
   b. Sistema linfático.
   c. Sistema digestivo.
   d. Sistema respiratorio.
2. Son sitios donde tiene lugar la diferenciación y maduración de los linfocitos
   a. La medula ósea y el timo.
   b. Los ganglios linfáticos.
   c. El bazo y las amígdalas.
3. Son pequeños órganos en forma de frijol que funcionan como centros de acumulación de la linfa
   a. Tejido linfático.
   b. Ganglios linfáticos.
   c. Conductos colectores.
4. Los vasos linfáticos drenan un líquido entre transparente y blanquecino llamado
   a. Acido gástrico.
   b. Líquido intersticial.
   c. Linfa.
5. Son funciones del sistema linfático
   a. Drenaje de líquido intersticial.
   b. Transporte de grasas.

LIVEWORKSHEETS

c. Respuesta inmunitaria.
d. Solo a y b son correctas.
e. Todas son correctas.

6. Son aquellas células que elaboran los anticuerpos para luchar contra virus, bacterias y toxinas
   a. Linfocitos.
   b. Linfocitos B.
   c. Linfocitos T.
7. Son aquellas células que destruyen las propias células del cuerpo que han sido infectadas por virus
   a. Linfocitos.
   b. Linfocitos B.
   c. Linfocitos T.
8. Filtra y destruye las células envejecidas y dañadas, además contribuye evitando las infecciones produciendo glóbulos blancos
   a. El páncreas.
   b. El timo.
   c. Las amígdalas.
   d. El bazo.
9. Conjunto de los órganos y músculos que se encarga de captar el oxígeno
   a. Sistema urinario.
   b. Sistema linfático.
   c. Sistema digestivo.
   d. Sistema respiratorio.
10. Se trata de un conducto situado en el cuello que comunica la boca con el esófago y las fosas nasales con la laringe
    a. Boca.
    b. Laringe.
    c. Faringe.
    d. Tráquea.
11. Es otro órgano tubular del sistema respiratorio que recibe el aire de la faringe y lo lleva hasta la tráquea
    a. Boca.
    b. Laringe.
    c. Faringe.
    d. Tráquea.
12. Está encargada de hacer llegar el aire hasta los bronquios. Su composición es membranosa y cartilaginosa
    a. Boca.
    b. Laringe.
    c. Faringe.

LIVEWORKSHEETS

d. Tráquea.

13. Son el centro del sistema respiratorio, son dos órganos ubicados dentro de la caja torácica
    a. Bronquios.
    b. Bronquiolos.
    c. Alveolos.
    d. Pulmones.

14. Son unas estructuras pequeñas en forma de sacos en las que se producen los intercambios gaseosos
    a. Bronquios.
    b. Bronquiolos.
    c. Alveolos.
    d. Pulmones.

15. Comprende la función principal del sistema respiratorio
    a. Inspiración y espiración.
    b. Ventilación pulmonar.
    c. Eliminación de dióxido de carbono.

16. Es una serie de órganos huecos unidos en un tubo largo y retorcido que va desde la boca hasta el ano
    a. El tubo digestivo.
    b. El aparato digestivo.
    c. El tracto gastrointestinal.

17. Forman parte del intestino delgado
    a. El duodeno y el yeyuno.
    b. El apéndice y el colon.
    c. El íleon y el recto.

18. Produce un jugo digestivo que tiene enzimas que descomponen químicamente los carbohidratos, grasas y proteínas
    a. Hígado.
    b. Páncreas.
    c. Vesícula biliar.

19. Produce un jugo digestivo llamado bilis que ayuda a digerir las grasas y algunas vitaminas
    a. Hígado.
    b. Páncreas.
    c. Vesícula biliar.

20. Comprende una serie de órganos, tubos, músculos y nervios que trabajan en conjunto para producir, almacenar y transportar orina
    a. Sistema urinario.
    b. Sistema linfático.
    c. Sistema digestivo.

LIVEWORKSHEETS

d. Sistema respiratorio.

21. Se produce cuando los alimentos que contienen proteínas, tales como la carne, el pollo y ciertos vegetales, se degradan en el cuerpo
    a. Potasio.
    b. Sodio.
    c. Urea.

22. Su función es eliminar los desechos líquidos de la sangre en forma de orina
    a. la vejiga.
    b. La uretra.
    c. Los riñones.
    d. Uréteres.

23. Son dos tubos estrechos que llevan la orina de los riñones a la vejiga
    a. La vejiga.
    b. La uretra.
    c. Los riñones.
    d. Uréteres.

24. Es un órgano hueco triangular ubicado en el abdomen inferior, esta sostenidas por ligamentos unidos a otros órganos y a los huesos de la pelvis
    a. La vejiga.
    b. La uretra.
    c. Los riñones.
    d. Uréteres.

25. Este tubo permite que la orina se expulse del cuerpo cuando el cerebro envía todas las señales a los músculos de la vejiga.
    a. La vejiga.
    b. La uretra.
    c. Los riñones.
    d. Uréteres.

LIVEWORKSHEETS

II. PARTE. LOCALIZACIONES ANATÓMICAS.

1. Localice los órganos y ganglios que conforman el sistema linfático

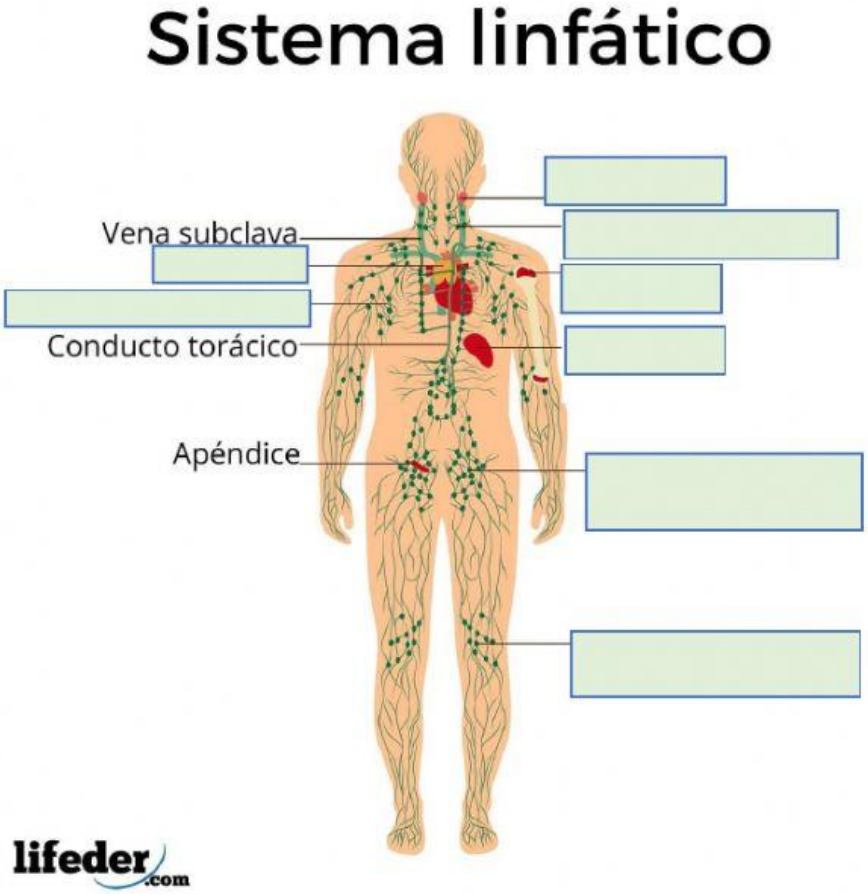

LIVEWORKSHEETS

2. Localice los órganos que corresponden al sistema urinario.

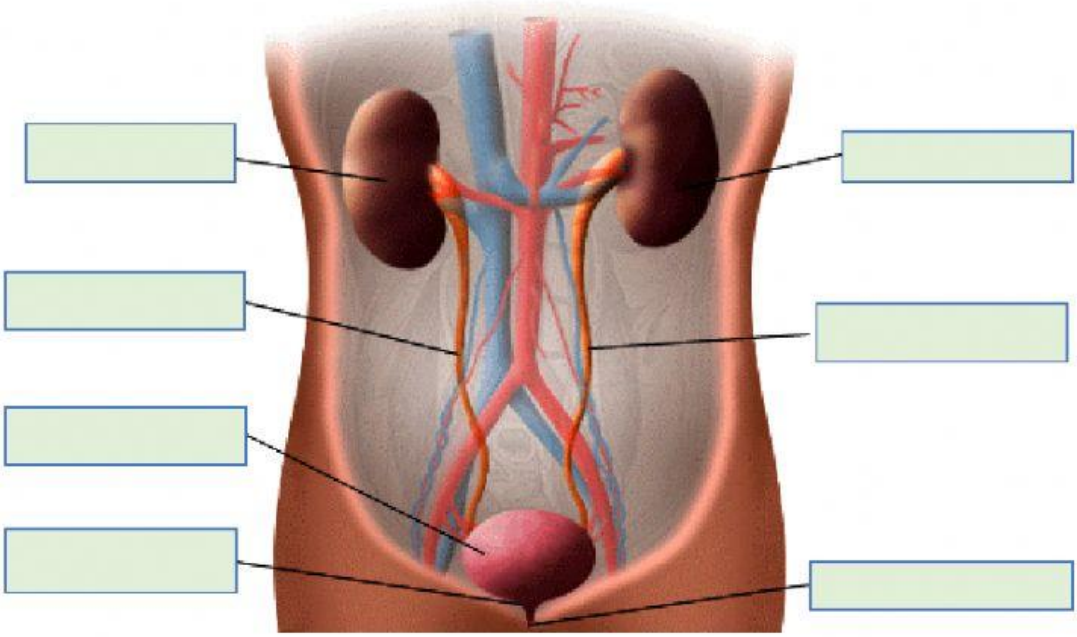

3. Localice las partes que corresponden al sistema respiratorio.

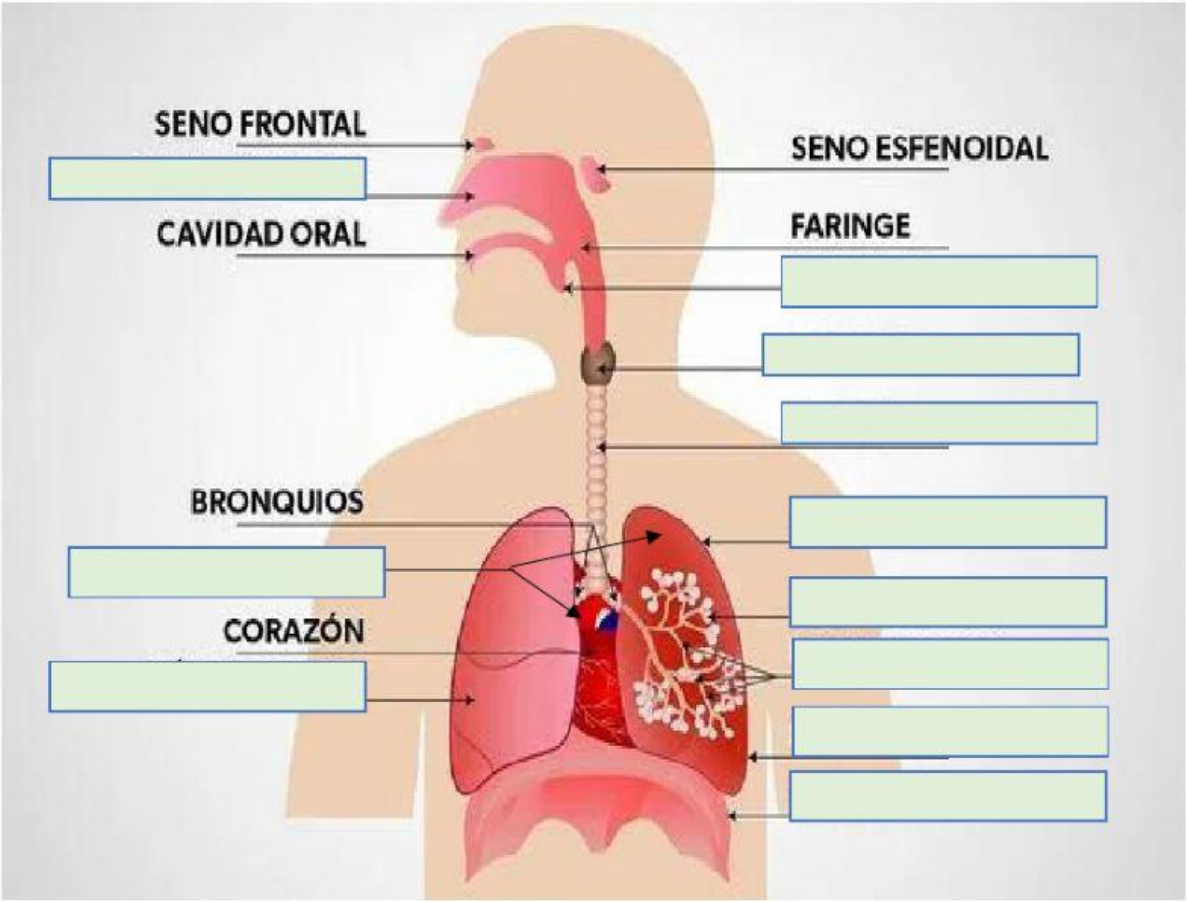

LIVEWORKSHEETS

4. Localice las partes que corresponden al sistema digestivo.

sistema digestivo

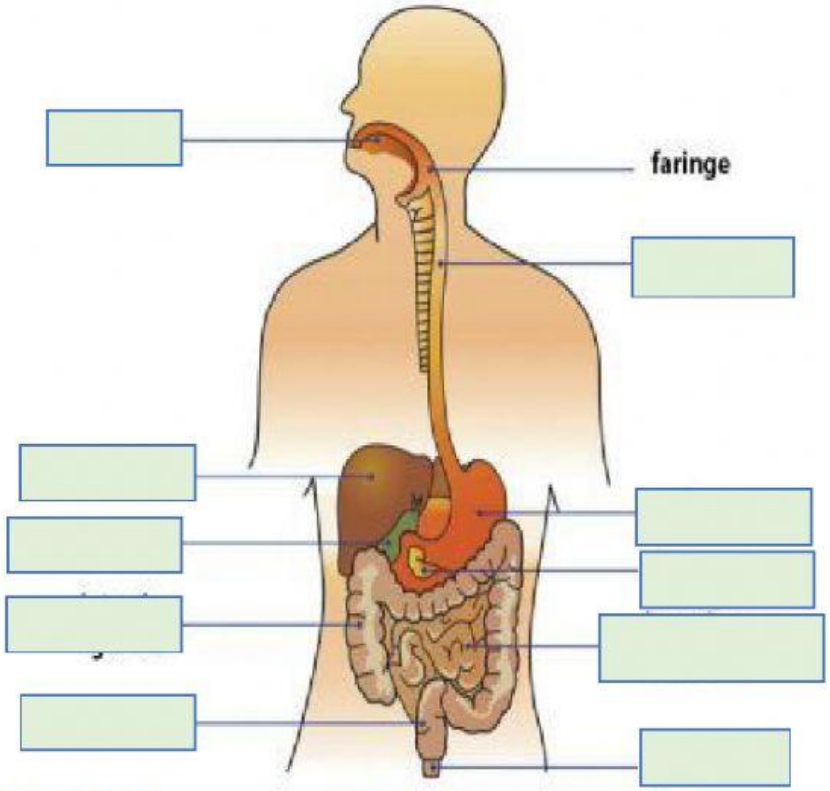

UNCOMO

LIVEWORKSHEETS