PROBLEMES DE PERÍMETRES

1. Per a separar les ovelles de les vaques, un granger vol col·locar una tanca en una part de la seva granja. Un dels costats de la tanca té 12 cm, el segon 11 cm i el tercer 13 cm. Quin és el perímetre total de la tanca?

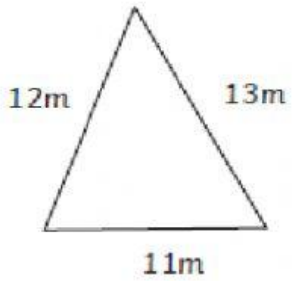

2. Omar vol mesurar el perímetre de la seva habitació. El pis és un quadrat exacte i un dels seus costats mesura 4 m. Quin és el perímetre d'Omar?



3. Andreu ha fet un pastís rectangular i per adornar-lo, vol posar una cinta al voltant del seu perímetre. Utilitzant un regla per mesurar cada costat del pastís, Any escriu el següent: 24 cm,14 cm, 24 cm i 14 cm. Quanta cinta

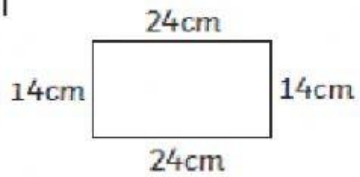

4. Elsa vol recórrer el perímetre del patí rectangular de la seva escola. Els dos costats més llargs mesuren 80 m, mentre que els dos curts mesuren 35 m cadascun. Quina distància haurà de córrer?

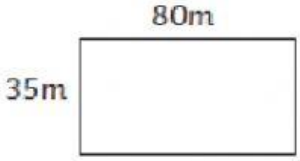

5. Joan té un tanc de peixos hexagonal. Vol unes quantes plantes aquàtiques per pegar-les al voltant del perímetre del tanc. Tots els costats mesuren 15 cm cadascun. Quants centímetres haurà de comprar per a enganxar al voltant del a tanca?

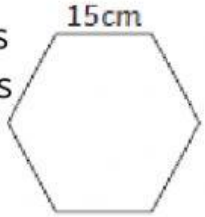

6. Marcia vol mudar-se de pis i necessita tancar dues capses amb cinta adhesiva. Les dues capses tenen la mateixa mida i cada costat mesura 60 cm. Quants centímetres de cinta adhesiva necessitarà per tancar les dues capses?

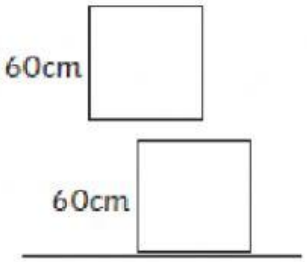

LIVEWORKSHEETS