Trường Tiểu học Hiến Nam

Họ và tên: .....

Cô: Thủy Lê

TUẦN 18

- Ôn tập phép cộng, phép trừ trong phạm vi 100.
- Ôn tập về hình học và đo lường.

Bài 1. Khoanh vào đáp án đúng:

1. Số lớn nhất có hai chữ số khác nhau là số nào?

A. 98 B. 99 C. 90 D. 100

2. Tìm số liền trước số tròn chục lớn nhất có hai chữ số.

A. 90 B. 91 C. 99 D. 89

3. Phép tính 25 + 17 - 18 có kết quả bằng bao nhiêu?

A. 35 B. 24 C. 32 D. 39

4. Tính: 56 kg – 28 kg + 9 kg = ?

A. 27 kg B. 37 C. 36 kg D. 37 kg

5. Kết quả của phép tính 12 + 58 + 30 là bao nhiêu ?

A. 90 B. 100 C. 70 D. 88

6. Mẹ Nam nặng 56 kg. Bố Nam nặng hơn mẹ Nam 9kg. Các em hãy giúp Nam tính số cân nặng của bố bạn ấy nhé!

A. 65 kg B. 62 kg C. 47 kg D. 65

7. Nam có 35 viên bi. Rô bốt có ít hơn Nam 8 viên bi. Hỏi Rô bốt có bao nhiêu viên bi?

A. 25 viên bi B. 43 viên bi C. 27 viên bi D. 41 viên bi

8. Cho dãy số: 41 ; 36 ; 31 ; 26 ; 21; ... . Số cần điền vào chỗ chấm là số nào?

A. 20 B. 16 C. 15 D. 17

9. Điền số thích hợp điền vào chỗ chấm: ….. + 32 = 46 + 4.

A. 82 B. 20 C. 81 D. 18

10. Trong phép tính : 63 – 28 = 35 , số 28 được gọi là gì?

A. Hiệu B. Số trừ C. Số hạng D. Số bị trừ

LIVEWORKSHEETS

11. Nam và My xách nước tưới cây trong vườn trường. Nam xách đầy xô 8 l, My xách đầy xô 5 l. Hỏi hai bạn xách được tất cả bao nhiêu lít nước?

A. 3 *l* B. 12 *l*

C. 13 *l* D. 13

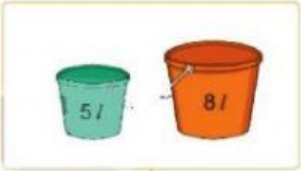

12. Số hạng thứ nhất là số nhỏ nhất có hai chữ số. Số hạng thứ hai là 59. Tổng của hai số là bao nhiêu?

A. 49 B. 69 C. 50 D. 48

13. Hình vẽ sau có bao nhiêu điểm, bao nhiêu đoạn thẳng?

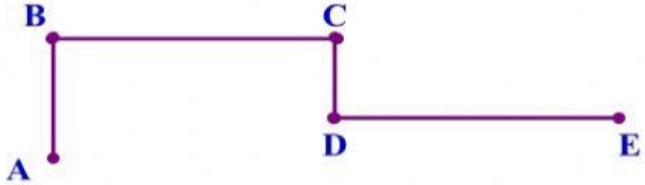

A. 5 điểm và 3 đoạn thẳng B. 4 điểm và 4 đoạn thẳng

C. 5 điểm và 4 đoạn thẳng C. 4 điểm và 5 đoạn thẳng

14. Hình bên có mấy hình tứ giác?

A. 2 hình B. 3 hình

C. 4 hình D. 5 hình



15. Lớp 2A có 36 học sinh, trong đó có 2 chục học sinh nữ. Hỏi lớp 2A có bao nhiêu học sinh nam?

A. 56 học sinh B. 34 học sinh C. 16 học sinh D. 38 học sinh

16. Trong vườn có 45 cây ổi, số cây ổi ít hơn số cây na là 18 cây. Hỏi trong vườn có tất cả bao nhiêu cây na?

A. 63 cây na B. 27 cây na C. 62 cây na C. 62 cây ổi

17. Bạn kiến vàng bò từ A đến D (như hình vẽ). Tính độ dài đoạn đường bạn kiến vàng phải bò.

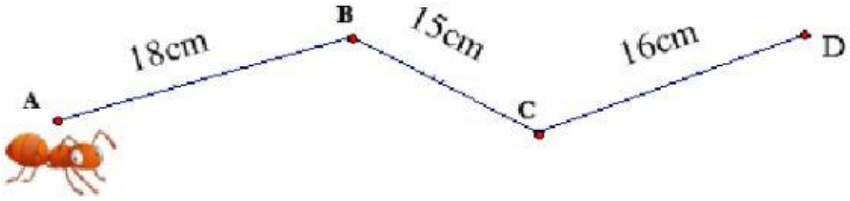

A. 49 B. 31 cm C. 49 cm D. 33 cm

LIVEWORKSHEETS

18. Bố mẹ đi làm, Nam ở nhà học bài. Nhìn đồng hồ, Nam thấy đã đến giờ nấu cơm. Vậy Nam nấu cơm lúc mấy giờ?

A. 10 giờ 3 phút B. 10 giờ 30 phút

C. 10 giờ 15 phút D. 3 giờ 15 phút

19. Tìm số thích hợp cho nhụy hoa.

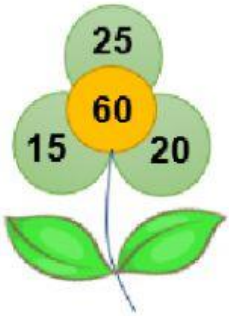



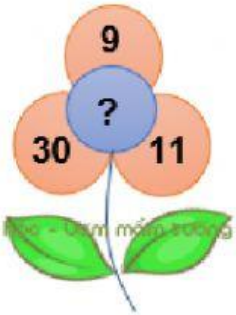

A. 50 B. 51 C. 10 D. 40

20. Mai đi học về lúc 16 giờ 30 phút. Mẹ đi làm về lúc 5 giờ chiều. Vậy ai về sớm hơn?

A. Mẹ và Mai cùng về. B. Mẹ về sớm hơn Mai.

C. Mai về sớm hơn mẹ. D. Mẹ về trước Mai.

Bài 2: Nối hai phép tính có cùng kết quả.

22 - 4	19 + 11	17 + 5	45 - 7
41 - 19	30 - 12	29 + 9	14 + 16

Bài 3: Đúng ghi Đ, sai ghi S.

36	46	85	6	57	65
+ 28	+ 38	+ 7	+ 84	+ 3	+ 28
64	74	92	90	87	83 .....

Bài 4: Tính:

a) 42 kg + 9 kg - 15 kg = ... b) 98 - 27 + 12 = ...

LIVEWORKSHEETS

Bài 5: Điền số thích hợp vào ô trống.

** Hình vẽ bên:*

a) Có tất cả ..... điểm.

b) Có ..... bộ ba điểm thẳng hàng.

c) Có ..... đoạn thẳng.

d) Có ..... hình tam giác.

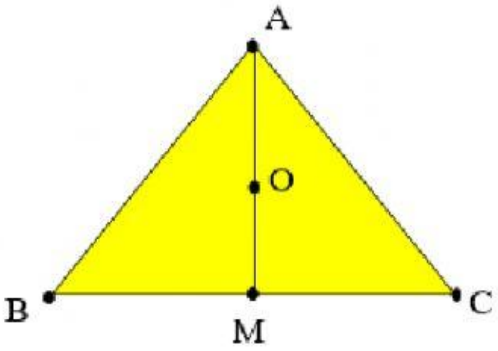

Bài 6: Điền số thích hợp vào ô trống:

4 9	□6	3□	2 7
+ □6	+ 5□	+ □8	+ 5□
7□	8 5	9 4	□3

Bài 7: Điền *nhẹ hơn* , *nặng hơn* hoặc *nặng bằng* vào chỗ chấm thích hợp:

1 kg bông ..... 1 kg sắt

1 túi gạo 2 kg ..... 1 túi rau 3 kg

Bài 8: Trong đồng hồ dưới đây, khi kim dài chạy qua số 4, số 5 đến số 6 thì lúc này đồng hồ chỉ mấy giờ?

.....*giờ*.....*phút*

Bài 9: Tìm cá cho mèo bằng cách nối phép tính với kết quả đúng.

LIVEWORKSHEETS

Bài 10: Đúng ghi Đ, sai ghi S vào ô trống.

Bạn Long nhẹ hơn bạn Thư. ☐

Tổng hai xô nước là 15*l*. ☐

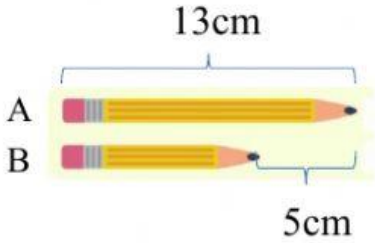

Bút chì B dài 9cm. ☐

Chúc các em
hoàn thành tốt bài kiểm tra!

LIVEWORKSHEETS