Nome: .....

Frações unitárias mais usuais

Exercícios

1 - Marque a alternativa correta sobre frações usuais:

a)	Uma fração é composta por um denominador e produto;
b)	O denominador implica quantas partes foram divididas ao todo;
c)	O numerador indica quantas partes foram divididas ao todo;
d)	A parte debaixo da fração corresponde ao numerador

2 - Preencha o espaço em branco respondendo a seguinte situação: a pizza abaixo foi dividida em 8 pedaços, sendo que foi comido 1. Qual é a fração que representa a parte que foi comida? (basta somente a fração)

R - _____

LIVEWORKSHEETS

3 - Ligue os desenhos as frações que representam as partes pintadas

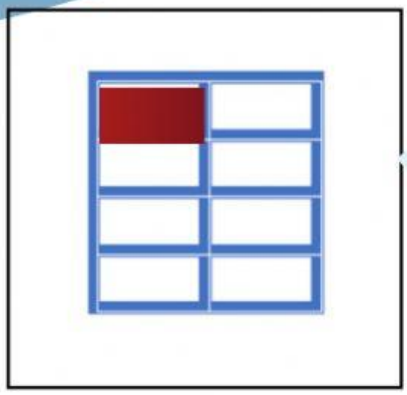



1/8

1/5

1/6

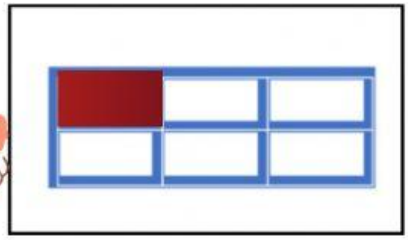

1/2

1/5

1/6

LIVEWORKSHEETS