PRACOVNÍ LIST – PROCENTA

Úkol č. 1: Doplň následující věty:

- Jedno procento vyjadřuje jednu _____ celku.
- Značíme ho ____.
- 50 % celku můžeme taky nazývat „jedna _____“.

Úkol č. 2: Vyber z následující mřížky odpovídající hodnotu:

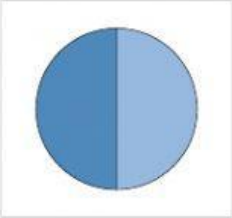

25 %	60 %	50 %	75 %

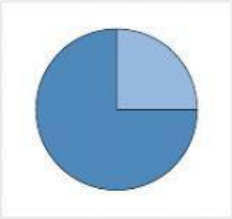

25 %	60 %	50 %	75 %

Úkol č. 3: Zaškrtni políčka vět, které jsou pravdivé:

- ☐ 25 % je to stejné jako $\frac{3}{4}$.
- ☐ 10 % ze sta je 10.
- ☐ Jedno promile se rovná jednomu procentu.
- ☐ 1 % ze 400 je 40.
- ☐ 30 % z 900 je 270.
- ☐ Pro výpočet procent používáme dvojčlenku.
- ☐ 20 % z 360 je 72.

LIVEWORKSHEETS

Úkol č. 4: Šipkami spoj grafy s hodnotami (světle modrá část = hodnota):

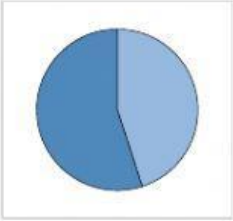

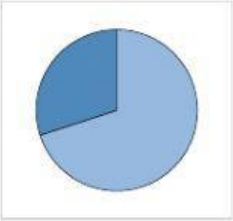

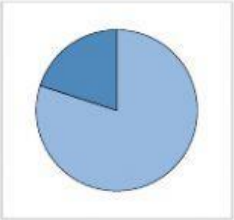

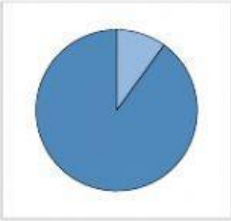

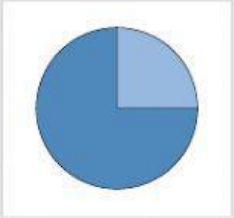

10 %
45 %
25 %
80 %
70 %

Úkol č. 5: Spočítej a zaokrouhli na desetiny:

- 5 % ze 44 je _____.
- Základ, když 10 % je 25. _____.
- 45 % z 553 = _____.
- 28 % z 340 = _____.

Barbora Plačková

LIVEWORKSHEETS