PHIẾU ÔN TẬP CUỐI HỌC KÌ 1
MÔN TOÁN

I. PHẦN TRẮC NGHIỆM:

Câu 1:

a) Nối:

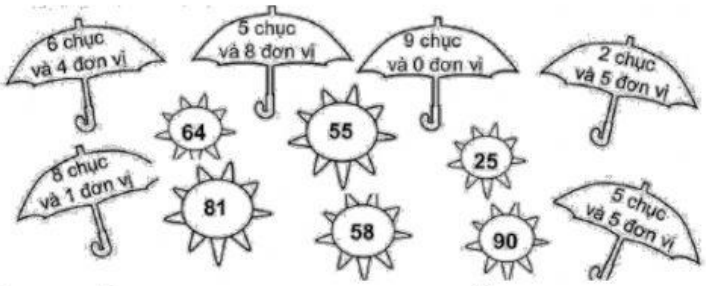

b) Sắp xếp các số sau theo thứ tự từ lớn đến bé: 66; 99; 69; 96

A. 66; 99; 69; 96 B. 69; 99; 96; 66

C. 99; 96; 66; 69 D. 99; 96; 69; 66

Câu 2:

a) Điền số thích hợp vào chỗ chấm: 3dm5cm = ... cm

A. 35 B. 53 C. 8 D. 2

b) Hình dưới đây có bao nhiêu hình tam giác?

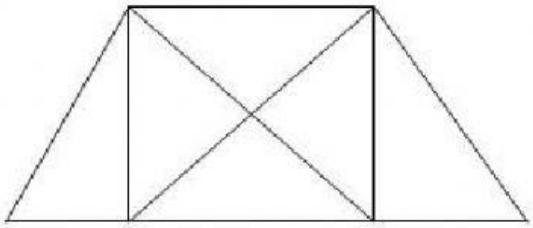

A. 10 B. 11 C.12 D. 13

Câu 3:

Tính:

a) 3 + 58 = ...

A. 88 B. 58 C. 61 D. 81

b) Điền số thích hợp vào chỗ chấm để hoàn thành phép tính.

35 + ... = 10 + 70

A. 25 B. 35 C. 45 D. 55

II. TỰ LUẬN:

LIVEWORKSHEETS

Câu 4: **Đặt tính rồi tính:**

34 + 18 **91 - 6**

Câu 5: **Biểu đồ tranh sau đây biểu thị số lượng đồ trang trí Noel của gia đình bạn Na.**

Quả châu	
Quả thông	
Hộp quà nhỏ	

Số?

- Gia đình Na chuẩn bị được ……. hộp quà.
- Tổng số quả châu và quả thông là…… đồ vật.

Câu 6: **Điền dấu >, <, = vào chỗ trống:**

a) 80 ……. 99 – 19

b) 54 + 18 …… 69 + 3

LIVEWORKSHEETS

Câu 7:	**Điền số thích hợp vào chỗ chấm:** **Con gà trống cân nặng ..... kg** **Chiếc ba lô nặng ..... kg.** 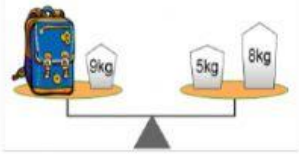
Câu 8:	**Điền vào chỗ trống thích hợp:** 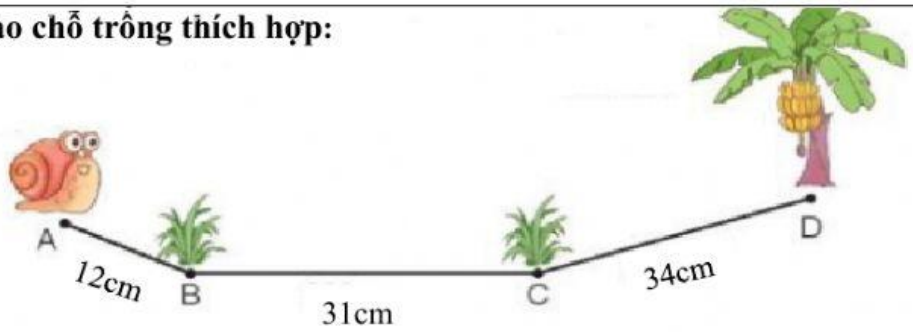 - Để đến được cây chuối, ốc sên phải đi đoạn đường gấp khúc gồm ..... đoạn thẳng. - Để đến được cây chuối, ốc sên phải đi quãng đường dài: ..... cm
Câu 9:	**Linh cân nặng 22kg, Vy nặng 26kg, Trang nặng 18kg, Hạnh nặng 24kg. Cả bốn bạn đều muốn đi thuyền qua sông, tuy nhiên chuyến đầu tiên do thuyền đã chở hàng hóa nên chỉ chở thêm được 40kg nữa. Theo em, hai bạn nào sẽ được đi qua sông trước, vì sao?** ....
Câu 10:	**Trong sự kiện chạy Fun Run, Khối 2 có 47 học sinh tham gia. Khối 3 có 35 học sinh tham gia. Hỏi cả hai khối có bao nhiêu học sinh tham gia chạy?** **Bài giải**

LIVEWORKSHEETS