Діагностична робота з математики №3

Іде зима, настануть холоди, То будем до живого дбайливими.

1. Комашки ховалися від холоду в землю. Розташуй іменовані числа в порядку зростання

На 1 м

на 3 см

на 3 дм

2. Вибери з кошика одиницю довжини, потрібну для кожної нерівності.

* * *

9 дм > 10 … 4 … = 4 м 2 м > 2 ...

3.

4. Дятлик рахує, допоможи йому. Знайди:

- суму іменованих чисел 6дм 6см і 3дм 2см
- різницю іменованих чисел 8м 5дм і 3м 1дм

5. Білочка і їжачок взялися лічити відстані. Виправ помилки звірят. Напиши поруч з помилковими правильні відповіді

2м 2 дм – 2 дм = 2 м
2дм 2 см – 1 дм =1дм 2см
7 дм 5 см – 4 дм = 3дм 5см

2 м 2 дм + 4 дм =2м 6дм
1 дм 5 см + 2 дм 3 см =3дм 2см
3 м 1 дм + 1 м 3 дм = 6м 4дм

Відзнач V хто з них допустив менше помилок.

Розв'яжи задачі. Запиши тільки розв'язок та відповідь.

Задача 5

LIVEWORKSHEETS

Мураха Лі приніс 23 ягоди до мурашника, мураха Пін – 72 ягоди. А мурашка Мік стільки, скільки Лі та Пін разом. Скільки ягід приніс Мік?

Відповідь: Мік приніс ягід.

Задача 6.

Бобри запасали корм.
Бобер Бовть приніс 5 гілок, Хлюп – 11 гілок, Плюсь – 10 гілок. Скільки всього гілок запасли бобри?

Відповідь : всього бобри запасли гілок.

Обери короткий запис до задач

Задача 5

*

Задача 6

*

*

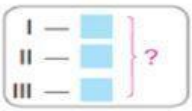

*

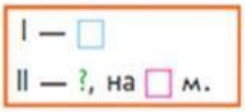

*

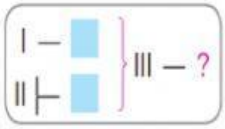

7.

Горобчик впіймав найменше двоцифрове парне число комах. Обведи це число на хмаринці.

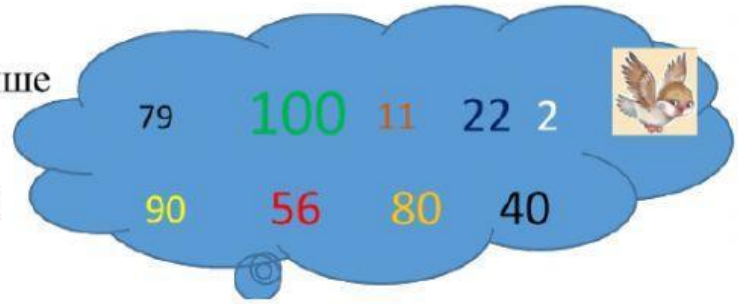

LIVEWORKSHEETS

Самооцінювання

Мій настрій

Завдання для мене були:

- ☐ Дуже легкі
- ☐ Легкі
- ☐ Не знаю
- ☐ Складні
- ☐ Дуже складні

Чи достатньо мною докладено зусиль ?

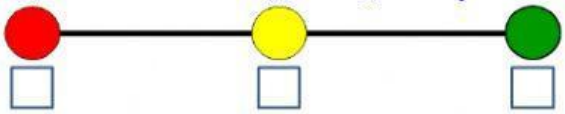

LIVEWORKSHEETS