Trường Tiểu học Hiến Nam

Họ và tên: .....



Cô: Thủy Lê

TUẦN 14

- Luyện tập chung
- Điểm, đoạn thẳng, đường thẳng, đường cong, ba điểm thẳng hàng.
- Đường gấp khúc, hình tứ giác.

Bài 1. Đánh dấu vào ý trả lời đúng cho mỗi câu hỏi sau:

1. 100 – 17 + 8 = ……., số cần điền vào chỗ chấm là:

   a. 91 b. 81 c. 92 d. 25

2. Biết 43 – y = 27, y =……. , số cần điền vào chỗ chấm là:

   a. y = 17 b. y = 16 c. y = 26 d. y = 70

3. 7 chục - 7 đơn vị = ……, số cần điền vào chỗ chấm là:

   a. 77 b. 63 c. 0 đơn vị d. 0 chục

4. Cho dãy số: 50, 45, 40, 35, ….. , số tiếp theo là:

   a. 30 b. 36 c. 34 d. 40

5. 1 ngày ☐ 46 giờ - 22 giờ. Dấu cần điền vào ô trống là:

   a. = b. > c. < d. không có

6.





Hình vẽ trên có số đoạn thẳng là:

a. 1 b. 2 c. 3

7.



Hình vẽ trên có số đoạn thẳng là:

a. 6 b. 8 c. 4 d. 10

LIVEWORKSHEETS

Bài 2. Trong hình vẽ dưới đây:

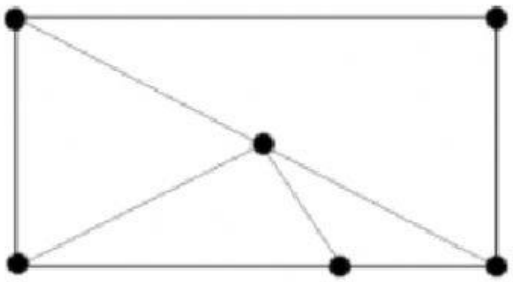

- Có ..... điểm.
- Có ..... đoạn thẳng.
- Có ..... hình tam giác.
- Có ..... hình tứ giác.

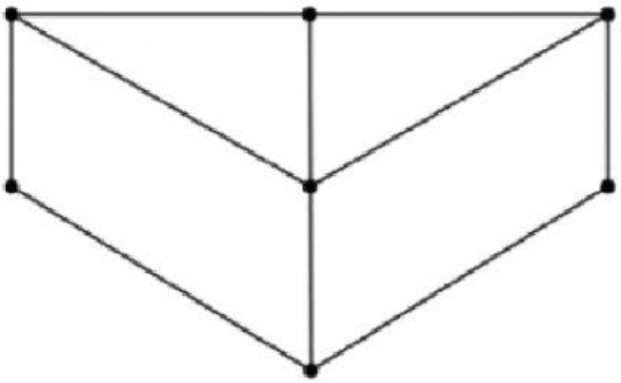

- Có ..... điểm.
- Có ..... đoạn thẳng.
- Có ..... hình tam giác.
- Có ..... hình tứ giác.

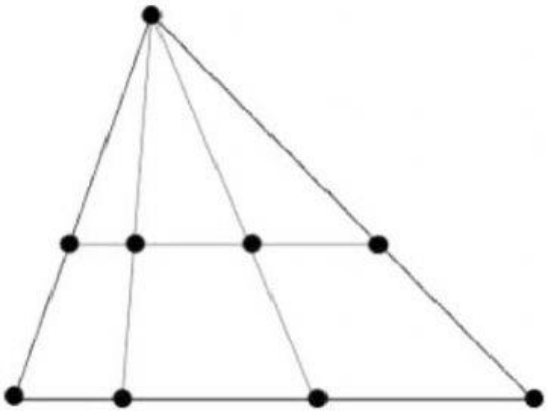

- Có ..... điểm.
- Có ..... đoạn thẳng.
- Có ..... hình tam giác.
- Có ..... hình tứ giác.
- Số bộ ba điểm thẳng hàng là:.....

Bài 3. Số?

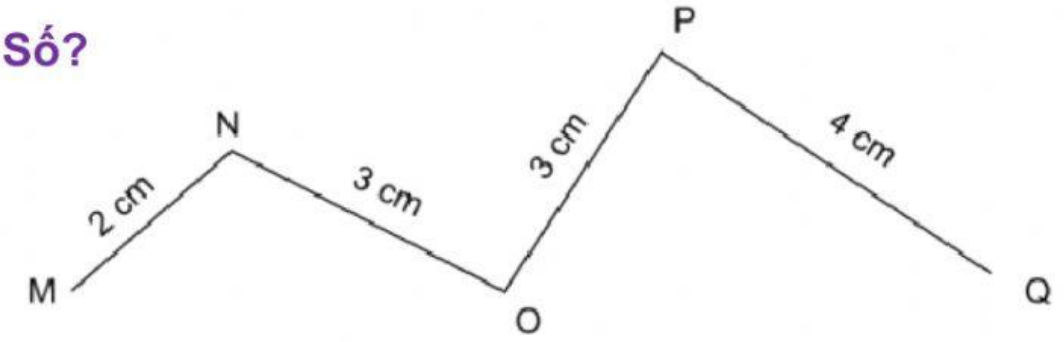

- Trong hình vẽ trên:
  - + Có ..... đường gấp khúc gồm 2 đoạn thẳng.
  - + Có ..... đường gấp khúc gồm 3 đoạn thẳng.
  - + Độ dài đường gấp khúc MNOPQ là ..... cm.

LIVEWORKSHEETS