Прізвище, ім'я _____ **клас** _____

Практична робота 2

Вимірювання відстаней на місцевості і карті

1. Визначте, як найкраще відобразити запропоновані об'єкти.

Будинки на вулиці _____, автошляхи України _____, форма Землі_____, країни Європи _____, село Інгулка _____, земна вісь _____, Атлантичний океан _____, магазин «Маяк» на вашій вулиці _____, дитячі садки м. Миколаїв _____, Балабанівський ліс _____, Інгульський міст у Миколаєві ___, кліматичні пояси _____, області України_____.

2. Який фрагмент плану має найбільше зменшення?

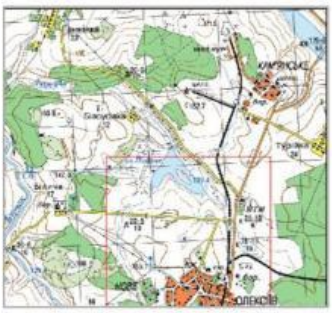

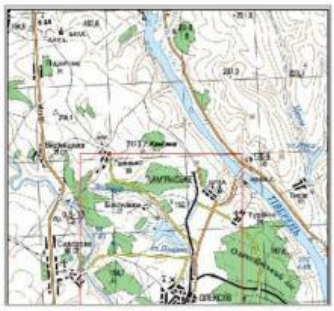

3. Відстань на місцевості становить 1000 метрів. З'єднайте стрілками масштаб – відстань у вигляді відрізка, що відповідає вибраному масштабу.

В 1 см 500м	4 см
В 1 см 100 м	2 см
В 1 см 250 м	10 см

4. На плані місцевості та карті виміряні відстані лінійкою, розрахуйте відстань на місцевості, використовуючи масштаб. Відповіді запишіть під малюнком.

LIVEWORKSHEETS

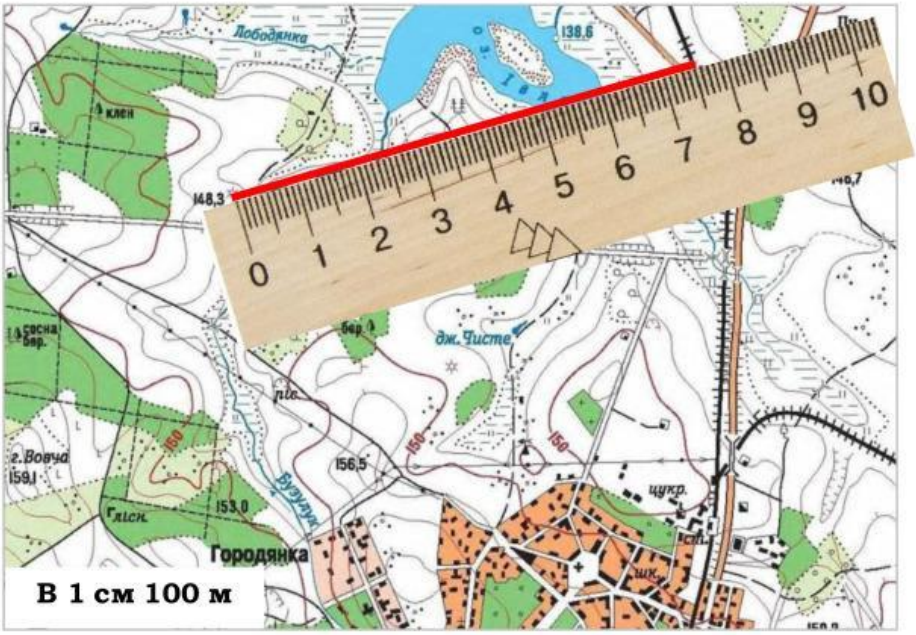

М

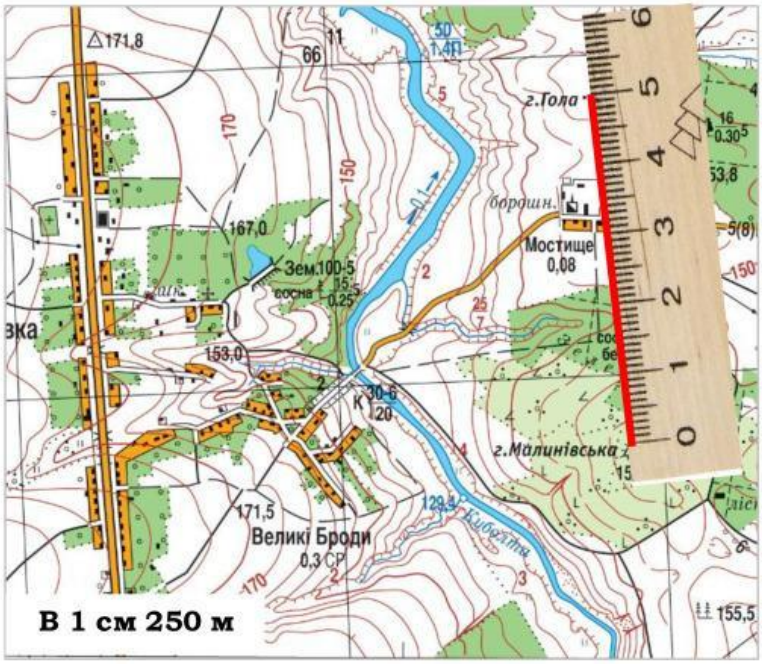

М

КМ

LIVEWORKSHEETS

5. *З'єднай малюнок з його умовним знаком на плані місцевості*

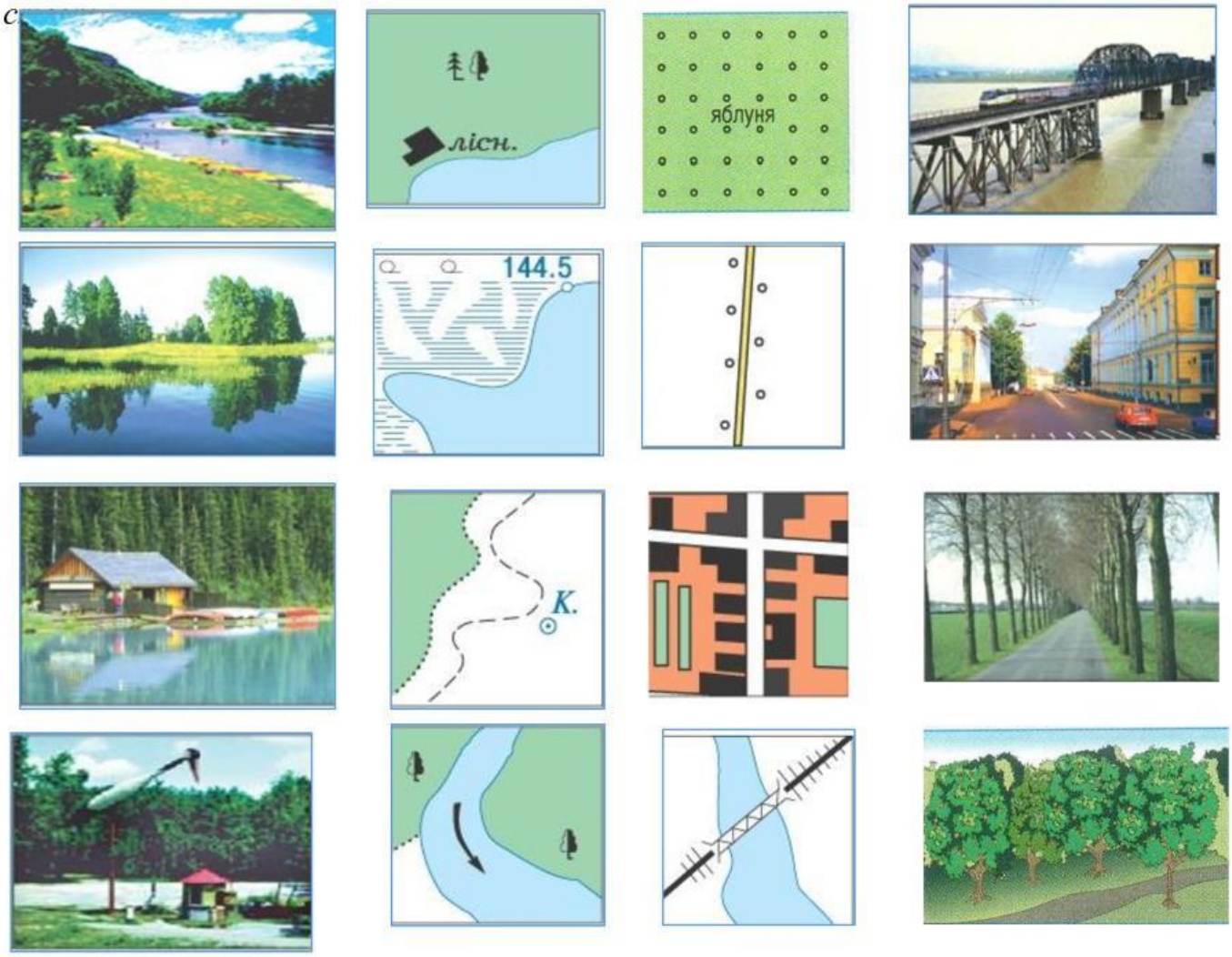

6. За описом місцевості склади план (перенеси умовні знаки, орієнтуючись за сторонами горизонту).

1. На північному заході росте мішаний ліс. 2. У північній частині лісу стоїть будинок лісника. 3. На півдні є озеро, на північних берегах якого ростуть кущі. 4. З озера на заході витікає річка. 5. На північному сході видніється якесь місто. 6. На півдні від міста побудована електростанція. 7. Від східного берега озера до міста йде дорога. По обидві сторони дороги росте фруктовий сад.

LIVEWORKSHEETS



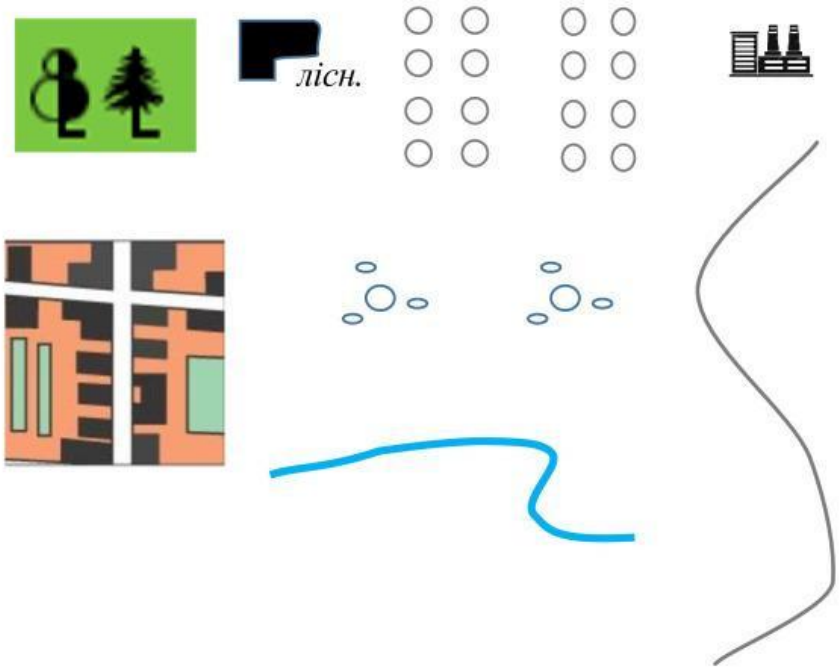

LIVEWORKSHEETS

Увага! 1. Після закінчення роботи натисніть **Finish!**

2. У вікні, яке з'явилося, натисніть на конверт (відправити вчителю).

3. У наступному вікні впишіть у рядок своє прізвище, ім'я.

4. Далі натисніть «Send» (відправити).

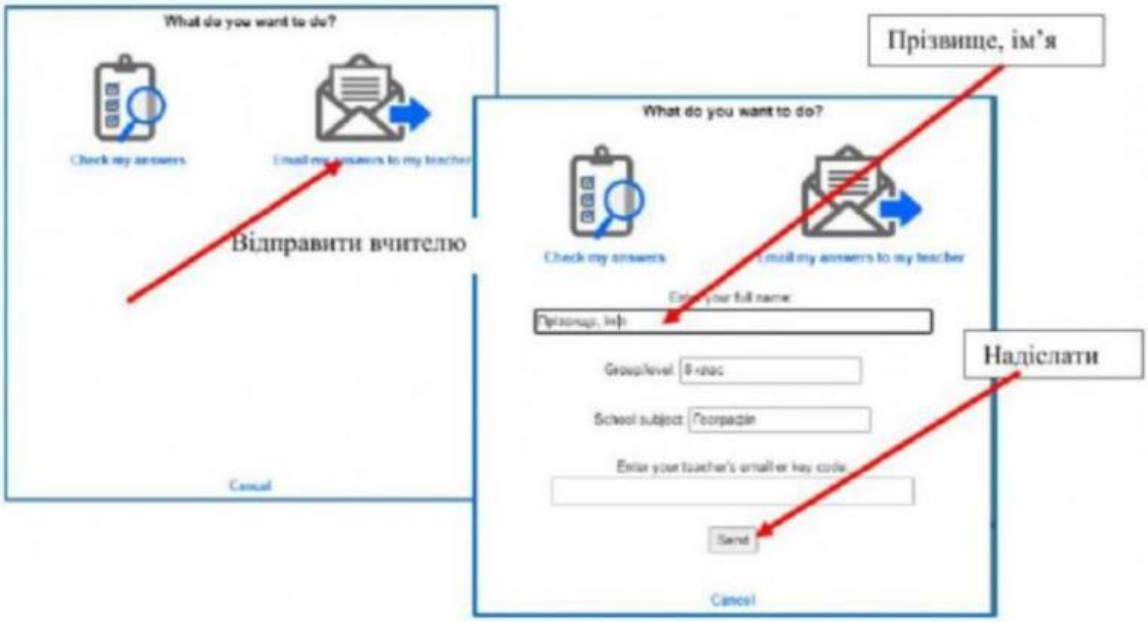

LIVEWORKSHEETS