Трикутники.

1. Як називається відрізок АК трикутника АВС, якщо ВК=СК

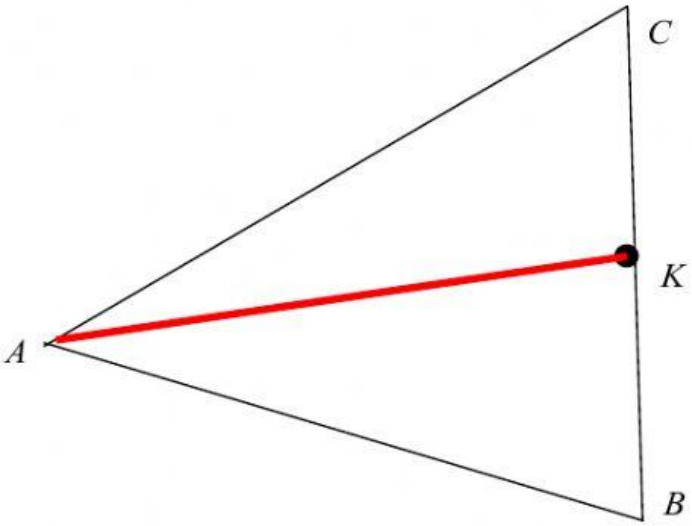

Відповідь.

2. Як називається відрізок ВМ трикутника АВС, якщо $\angle ABM = \angle CBM$

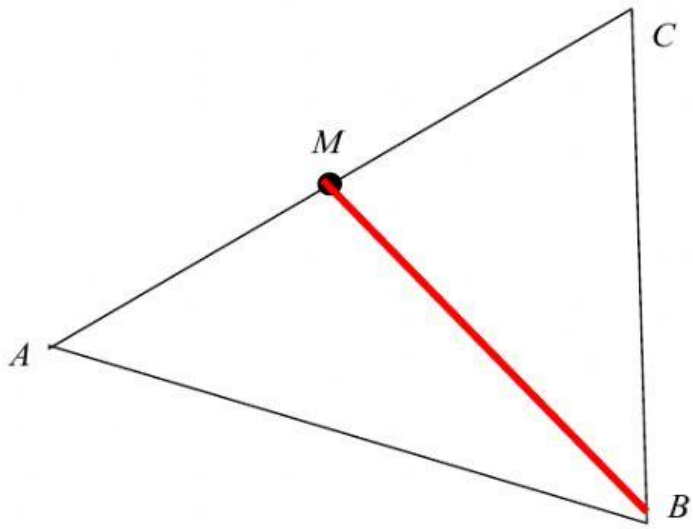

Відповідь.

LIVEWORKSHEETS

3. Як називається відрізок CP трикутника ABC, якщо $CP \perp AB$

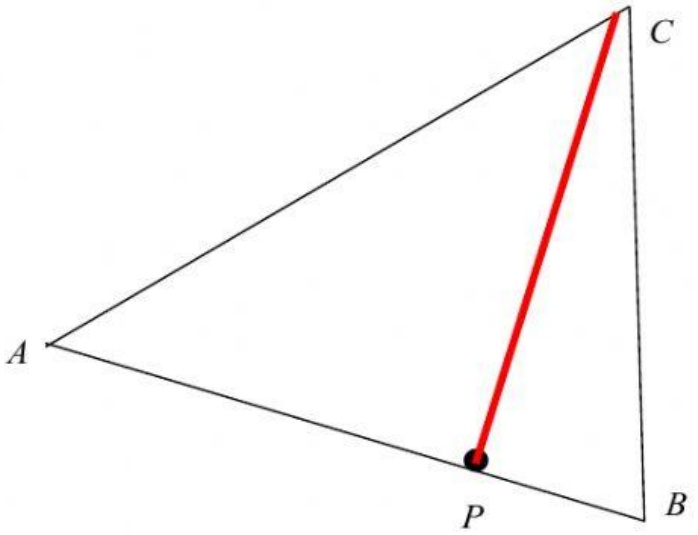

Відповідь.

4. Відомо, що трикутники $\Delta ABC = \Delta A_1B_1C_1$. Визначити довжину сторони AB, якщо $A_1B_1 = 7см$

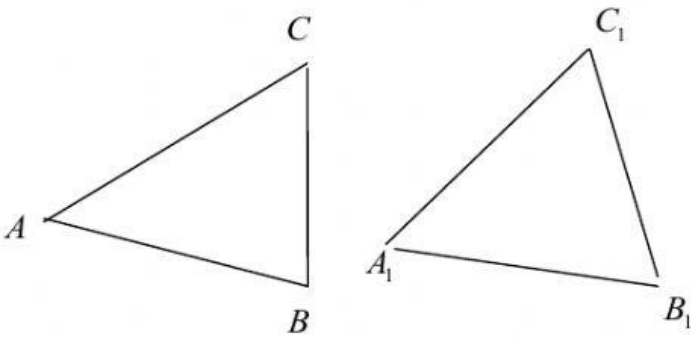

Відповідь.

LIVEWORKSHEETS

5. Відомо, що трикутники $\Delta ABC = \Delta A_1B_1C_1$. Визначити градусну міру кута А, якщо $\angle A_1 = 70°$

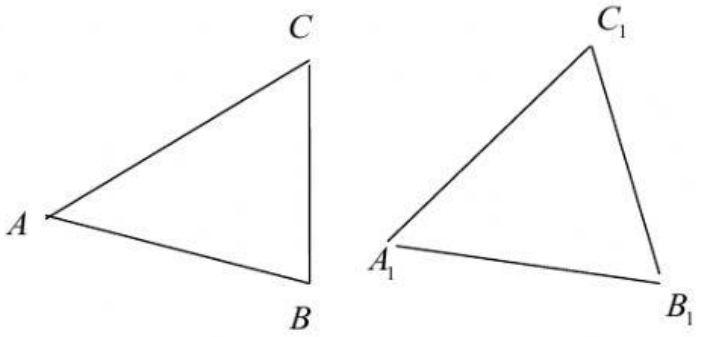

Відповідь.

6. Відомо, що трикутники $\Delta ABC = \Delta A_1B_1C_1$. Визначити периметр $\Delta A_1B_1C_1$, якщо $P_{\Delta ABC} = 60см$

Відповідь.

7. На малюнку зображено прямокутний трикутник АВС з прямим кутом С. Визначити градусну міру кута А, якщо $\angle B = 60°$.

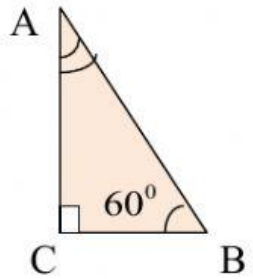

Відповідь.

8. Знайти сторону рівностороннього трикутника, периметр якого 21 см.

Відповідь

9. Чи може у трикутнику бути два тупих кута?

LIVEWORKSHEETS

Відповідь

10. Чи рівні трикутники, що зображені на рисунку.

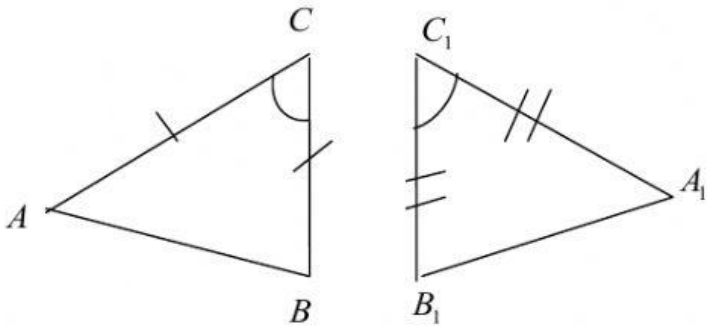

Відповідь

LIVEWORKSHEETS