

LEMBAR KERJA PESERTA DIDIK

S E L

OLEH :

NAMA SISWA:

LIVEWORKSHEETS

Tujuan:
Setelah mengamati organel sel hewan dan sel tumbuhan, siswa dapat menganalisis keterkaitan struktur organel sel hewan dan sel tumbuhan dengan ungsinya.

1. Tarik nama organel sel dibawah ini dan letakkan pada kotak yang sesuail

Nukleolus Nukleus Membran sel

Retikulum Endoplasma Mitokondria Badan golgi

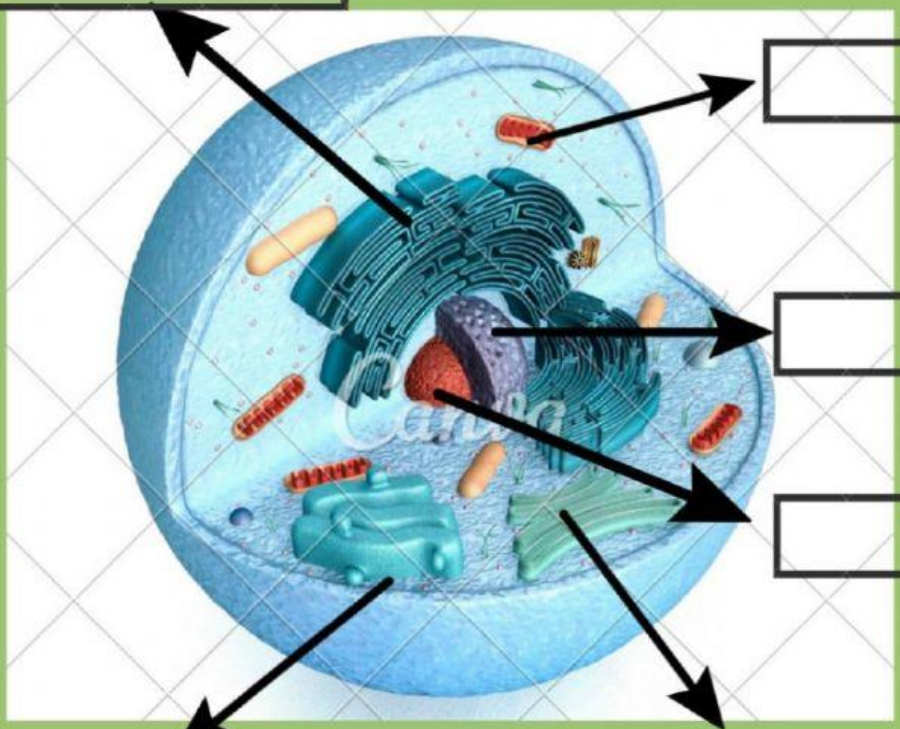

LIVEWORKSHEETS

2. Berilah keterangan pada sel tumbuhan berikut ini !

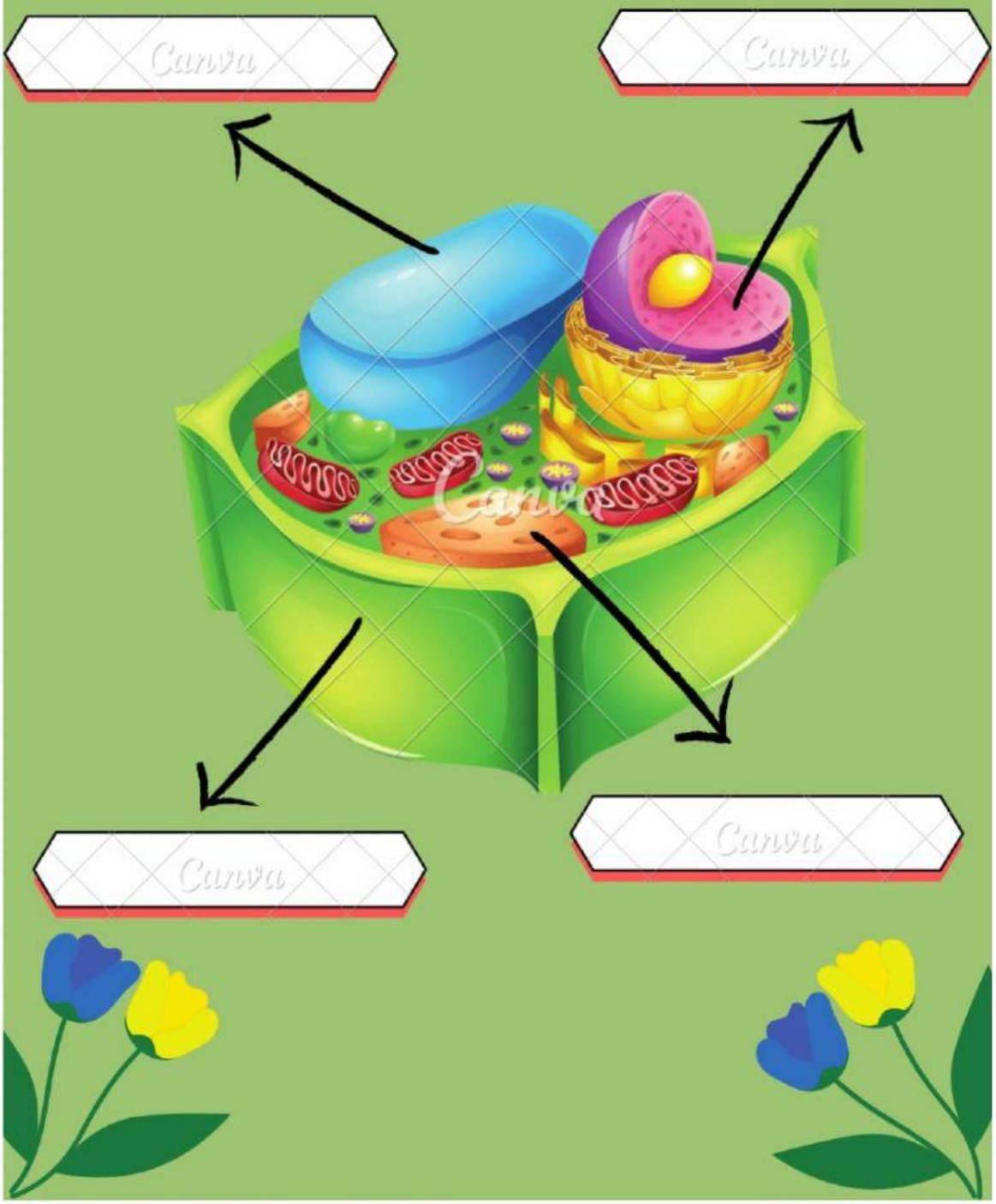

LIVEWORKSHEETS

3. Hubungkan dengan tanda panah organel sel dengan fungsinya

MITOKONDRIA	☐	☐	TEMPAT TERJADINYA FOTOSINTES
RIBOSOM	☐	☐	PENCERNAAN INTRASEL
NUKLEUS	☐	☐	TEMPAT RESPIRASI SEL
KLOROPLAS	☐	☐	MENGATUR AKTIVITAS SEL
LISOSOM	☐	☐	SINTESIS PROTEIN

LIVEWORKSHEETS