Lembar Kerja Peserta Didik

5. Hubungkan pernyataan yang sesuai!

Luas Permukaan Balok	**p x l x t**
Volume Balok	**4 (p x l x t)**
Keliling Balok	**2 (pl + pt + lt)**

6. Tariklah sifat yang sesuai dengan pernyataan!

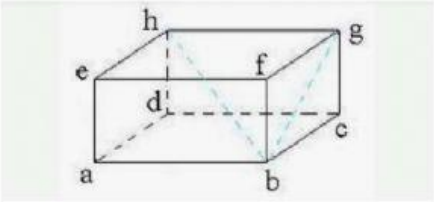

BALOK

Sisi	Titik susdut	Rusuk

12	**6**	**8**

LIVEWORKSHEETS

Lembar Kerja Peserta Didik

7. Jawablah soal dengan berbicara, mengeklik pada gamabar di bawah!

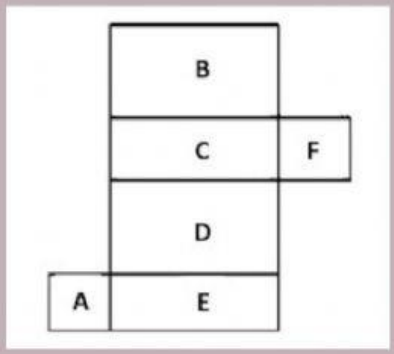

Sebutkan 3 pasang sisi yang saling berhadapan jika D menjadi alas balok.

8. Baca terlebih dahulu soal,lalu Klik gambar di bawah! apakah yang kamu dengar benar atau salah?

Jika nomor 5 adalah alas balok, maka atap balok adalah nomor ....

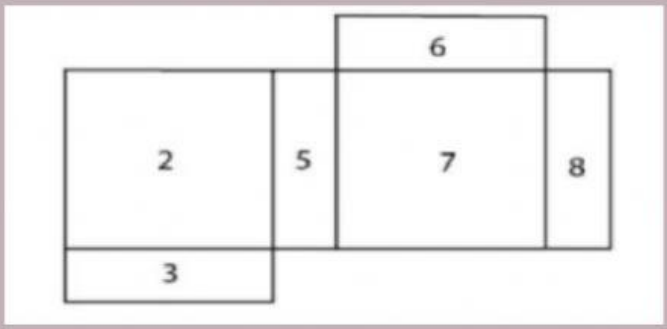

Benar

Salah

LIVEWORKSHEETS

Lembar Kerja Peserta Didik

Nama : Kelas :

9. Berilah tanda ceklis pada kotak yang menunjukan dari sifat sifat balok

Memiliki 4 buah diagonal ruang dan 12 buah diagonal bidang	
Memiliki Alas dan Tutup yang berbentuk lingkaran	
Memiliki 8 buah titik sudut dan seluruhnya siku - siku	
Jarak antara lingkaran tutup dan lingkaran alas disebut dengan tinggi tabung	
Memiliki 12 buah rusuk dan 6 pasang rusuk tersebut berhadapan samaa panjang	
Memiliki 6 Buah Bidang sisi yang berbentuk Persegi Panjang dan 3 pasang sisi yang saling Kongruen	
Jaring Tabung berupa 1 buah persegia pnjang dan 2 buah lingkaran	
Bidang Tegak Tabung itu berupa lengkungan yg disebut juga dengan selimut tabung	

LIVEWORKSHEETS

Lembar Kerja Peserta Didik

10. Carilah kata yang bewarna merah pada pernyataan yang merupakan sisi balok di gambar

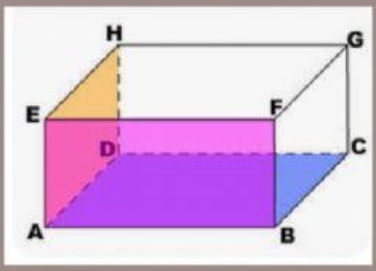

- Sisi Alas = ABCD
- Sisi Depan = ABFE
- Sisi Atas = EFGH

K	A	I	S	I	T
D	E	P	A	N	D
J	M	P	L	N	B
O	A	T	A	S	F
G	N	M	S	P	E
J	I	K	M	D	A

LIVEWORKSHEETS

Lembar Kerja Peserta Didik

Nama : Dwi Nisa Oktarisa
Nim : 2020206046
Kelas : Matematika 2
Fakultas : FITK Uin Raden Fatah Palembang
Jurusan : Pendidikan Matematika
Dosen Pengampu : Harisman Nizar, M.Pd.

LIVEWORKSHEETS