Colegio Fray Luis de León
4º de primaria

Nombre: _____

1.- En una tienda de chocolate se venden, durante toda la semana que permanece abierta, 623 Kg de chocolate. Si cada kilo de chocolate vale 5 euros ¿cuánto dinero sacarán cada día, suponiendo que se vendan la misma cantidad todos los días?

OPCIÓN A

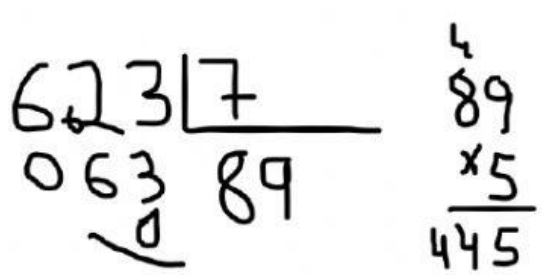

Solución: Ganan 445 euros al día

OPCIÓN B

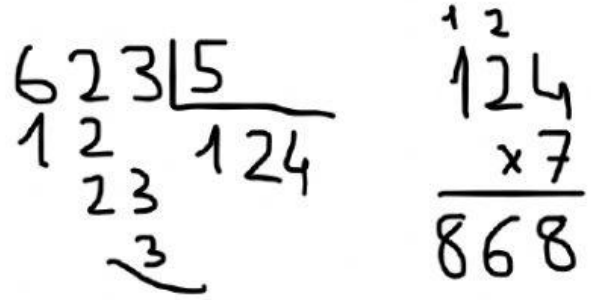

Solución: Ganan 868 euros al día

¿Cuál es la opción correcta?

2.- En un partido Unai mete 134 goles, en otro 256 goles y en el último 82 goles. Si el VAR le ha anulado la mitad de los goles. ¿Cuántos goles válidos ha metido?

OPCIÓN A

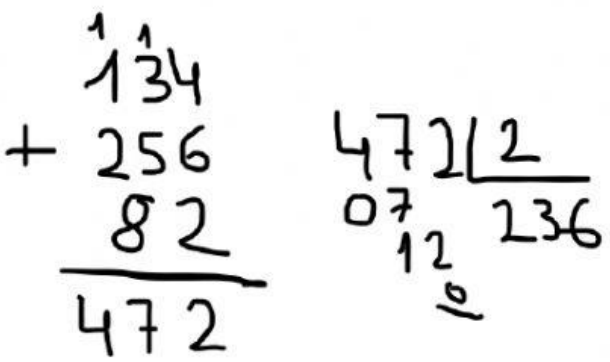

Solución: Ha marcado 236 goles válidos

OPCIÓN B

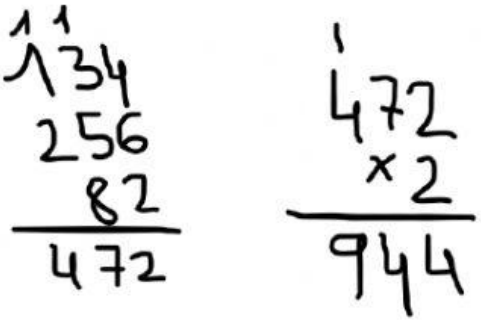

Solución: Ha marcado 944 goles válidos

¿Cuál es la opción correcta?

LIVEWORKSHEETS