COLEGIO
SAN ANTONIO IHM

FICHA DE TRABAJO

5TO GRADO DE PRIMARIA

1.- Coloca una V si la afirmación es verdadera o una F si la afirmación es falsa.

a.- Al embarazo se le conoce también como gestación.

b.- El embarazo es el período de tiempo comprendido entre la menstruación y el nacimiento.

c.- Durante el embarazo, el bebé crece y se desarrolla dentro de la vagina de la madre.

d.- Las células divididas forman una bola que flota en el útero durante unas dos o tres semanas.

e.- El embarazo comienza cuando la bola de células se adhiere a la pared del útero.

2.- Completa las oraciones con la palabra adecuada.

a.- Una vez que el embrión se encuentra en el útero iniciará su _____

b.- Se estima que el embarazo dura, 40 _____ pero el bebé puede nacer sin problemas desde la semana _____

c.- Al óvulo fecundado se le llama _____

d.- El parto pasa por: _____

3.- Une según convenga

Fase de dilatación

Fase de expulsión

Fase de alumbramiento

Las contracciones ayudan al descenso de la cabeza del bebé.

Una vez que ha salido el bebé y después de una breve pausa vuelven las contracciones para expulsar la placenta

Las contracciones del útero hacen que el cuello uterino se dilate hasta permitir el paso del cuerpo del bebé.

LIVEWORKSHEETS

4.- Coloca el nombre a cada fase del parto

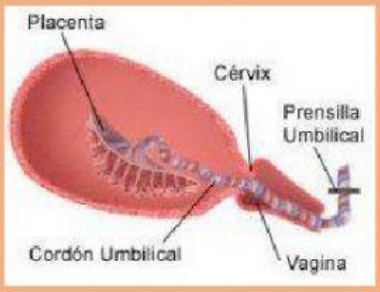

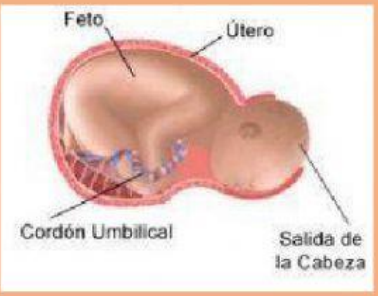

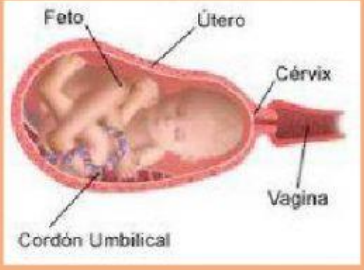

5.- Une de manera adecuada

1.
El espermatozoide entra en contacto con la corona radiada

2.
Se introduce en la zona pelúcida

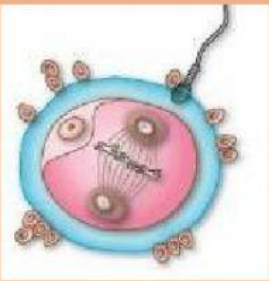

3.
La cabeza del espermatozoide penetra en el óvulo a traves de la membrana plasmática

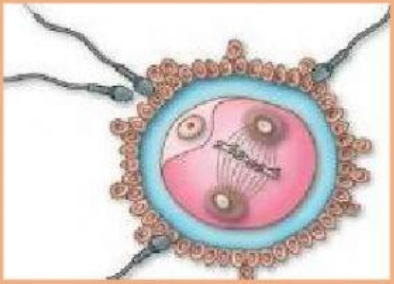

LIVEWORKSHEETS

6.- Ordena las etapas del embarazo de manera adecuada

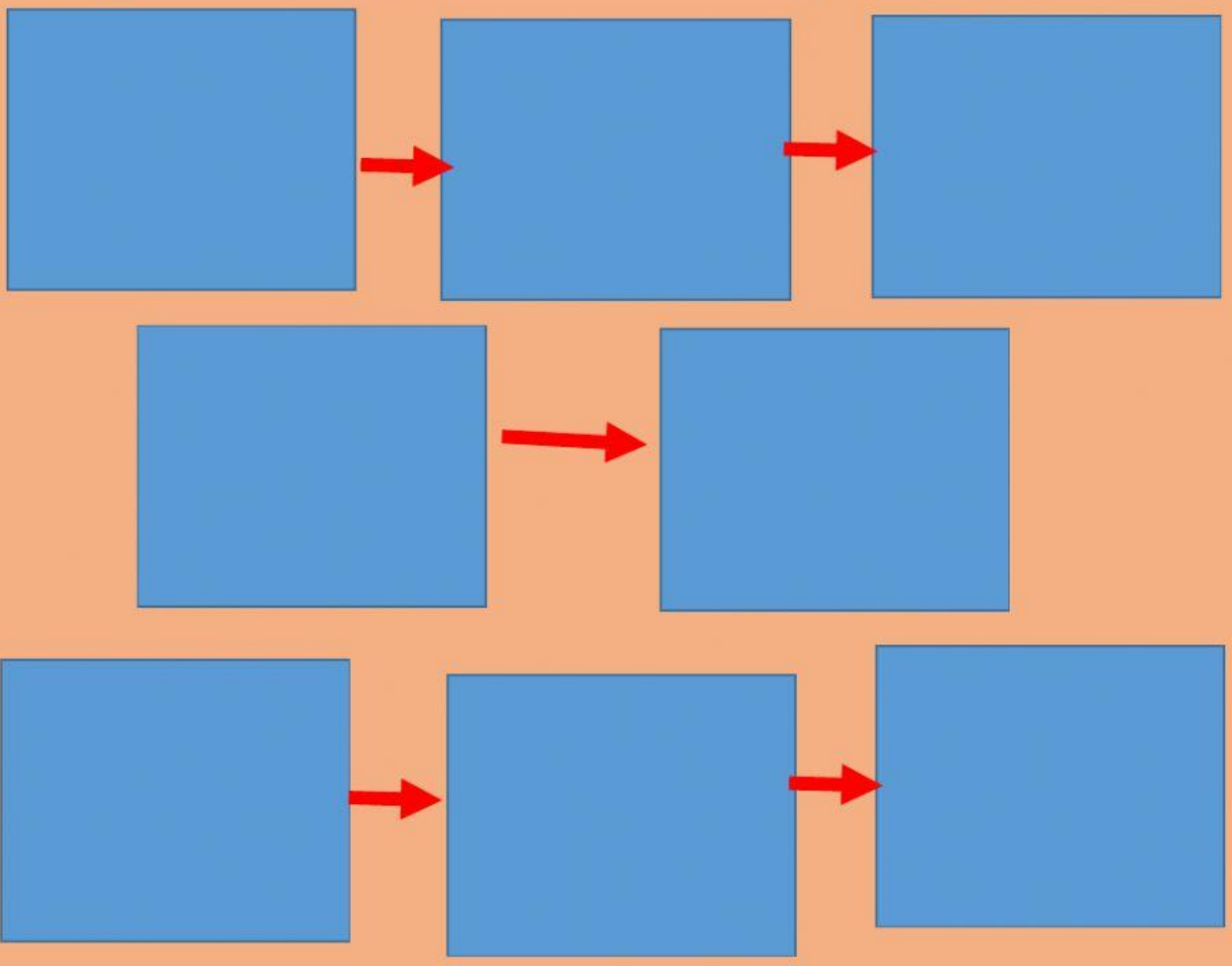

LIVEWORKSHEETS