L5

Matemática

M2

8

DOCENTE: MARIO ERNESTO ROSALES

CUADERNO VIRTUAL

SÉPTIMO GRADO

LIVEWORKSHEETS

DOCENTE: MARIO ROSALES

Nombre: **Sección:**

OCTAVO GRADO

1. ANGULOS OPUESTOS POR EL VERTICE

INDICACIÓN GENERAL: Escribe la respuesta correcta en el lugar correspondiente.

i) Determina la medida de los ángulos que se indican en cada literal.

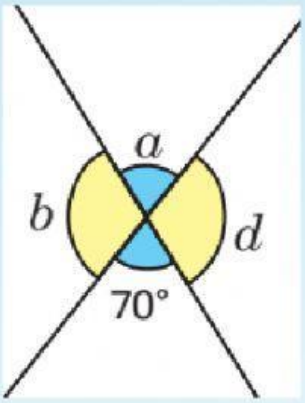

$\sphericalangle a$ = _____°

$\sphericalangle d$ = _____°

$\sphericalangle b$ = _____°

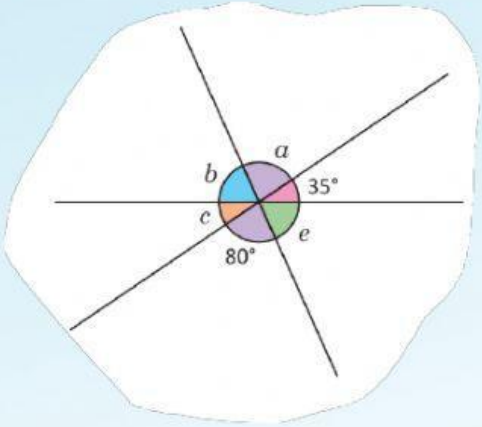

$\sphericalangle e$ = _____°

$\sphericalangle c$ = _____°

$\sphericalangle b$ = _____°

$\sphericalangle a$ = _____°

2. ANGULOS CORRESPONDIENTES X ANGULOS ALTERNOS

INDICACIÓN GENERAL: Elige la respuesta correcta.

i) Para cada uno de los siguientes literales **elige** la respuesta que muestre correctamente a los ángulos internos, externos, alternos internos, alternos externos y correspondientes.

a)

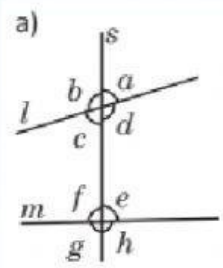

Ángulos internos: _____

Ángulos externos: _____

Ángulos alternos internos: _____

Ángulos alternos externos: _____

Ángulos correspondientes: _____

)

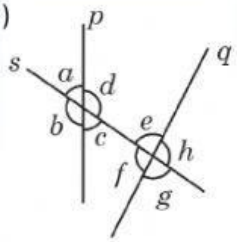

Ángulos internos: _____

Ángulos externos: _____

Ángulos alternos internos: _____

Ángulos alternos externos: _____

Ángulos correspondientes: _____

MATEMÁTICA

LIVEWORKSHEETS

DOCENTE: MARIO ROSALES

OCTAVO GRADO

3. CARACTERIZACIÓN DE LOS ANGULOS CORRESPONDIENTES

INDICACIÓN GENERAL: Escribe la respuesta correcta en el lugar correspondiente.

i) Dado que l ∥ m. **Determina** el valor de x

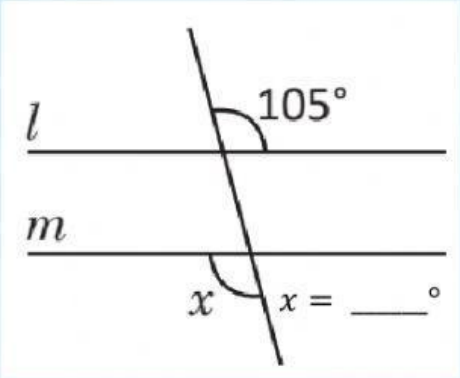

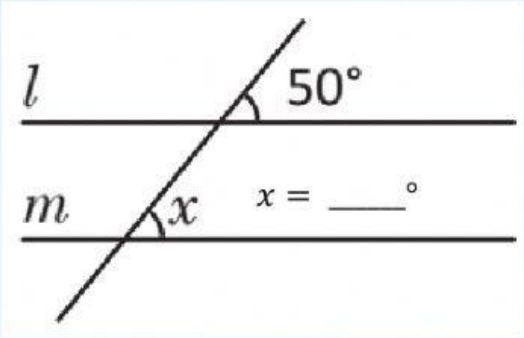

4. CARACTERIZACIÓN DE LOS ANGULOS ALTERNOS

INDICACIÓN GENERAL: Responde según se te indique.

i) Dado que l ∥ m, **elige** la opción que identifique los pares de ángulos alternos internos y alternos externos y **escribe** sus respectivas medidas.

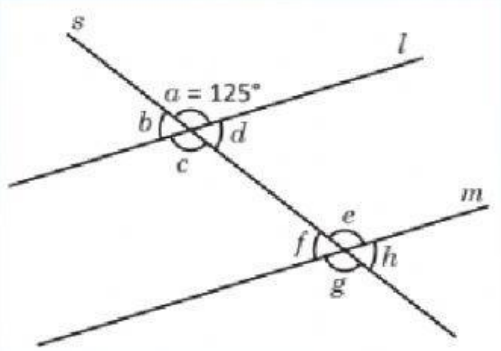

Ángulos alternos internos: _____

Ángulos alternos externos: _____

$\sphericalangle b$ = ____° $\sphericalangle c$ = ____°

$\sphericalangle d$ = ____° $\sphericalangle g$ = ____°

$\sphericalangle f$ = ____° $\sphericalangle e$ = ____°

$\sphericalangle h$ = ____°

MATEMÁTICA

LIVEWORKSHEETS

ii) **Elige** la opción que te muestre cuáles rectas son paralelas y aquella que justifique tu respuesta

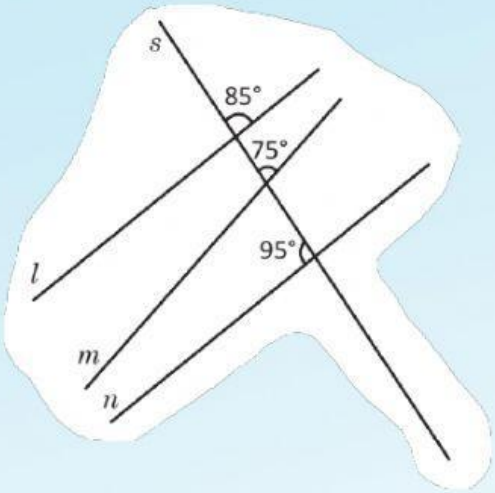

Las rectas paralelas son _____ porque _____.

LIVEWORKSHEETS