Рабочий лист 5 кл_Текстовая информация

1) Соотнесите понятие с его определением

фрагмент	документ	строка	абзац	символ	слово

	произвольная последовательность символов, ограниченная специальными символами конца абзаца
	произвольная последовательность символов
	произвольная последовательность символов между левой и правой границами документа
	любой текст, созданный с помощью текстового редактора
	цифра, буква, знак препинания
	произвольная последовательность символов, ограниченная с 2 сторон служебными символами

2) Определи истинные высказывания, которые соответствуют картинке слева

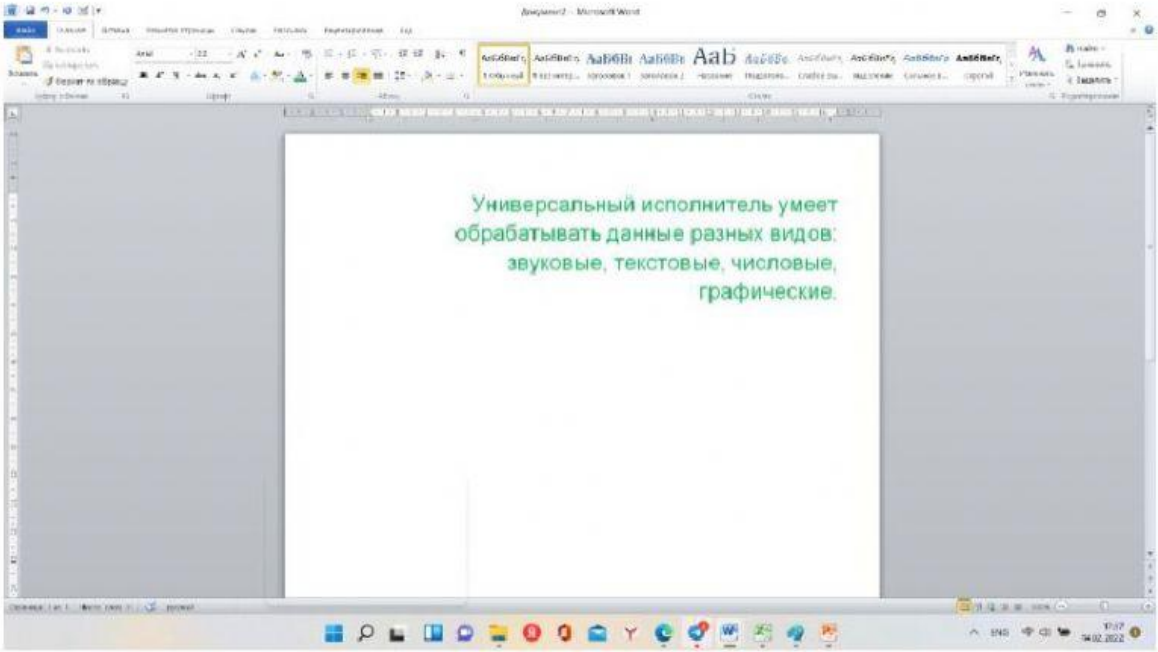

A) Выравнивание текста -по ширине

B) Размер шрифта - 22, написание - обычное

C) Цвет шрифта - зеленый

D) Выравнивание текста - по правому краю

E) Размер шрифта - 22, написание - курсив

F) Цвет шрифта - черный

LIVEWORKSHEETS

3) По диаграмме, определите, кто из животных имеет наибольшую продолжительность жизни

Ответ:

_____

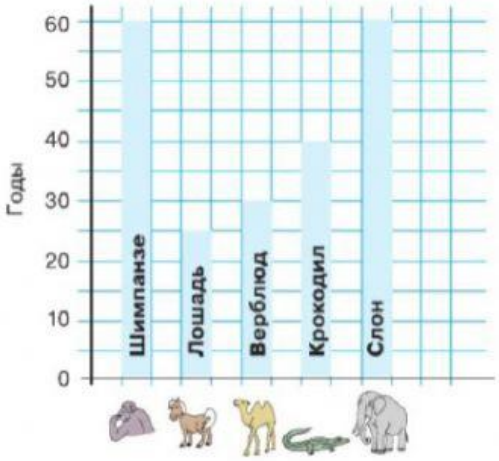

4) Известно, что физически здоровый человек 80% всей информации получает с помощью органов зрения, 10% - с помощью органов слуха, 5, 3 и 2% приходятся соответственно на органы обоняния, осязания и вкуса. Какой это вид диаграммы и чего на ней не хватает? Обведите верные ответы

A Столбчатая диаграмма	B Линейная диаграмма
C Круговая диаграмма	D 5% - Осязание
E 3% - Обоняние	F 5% - Обоняние

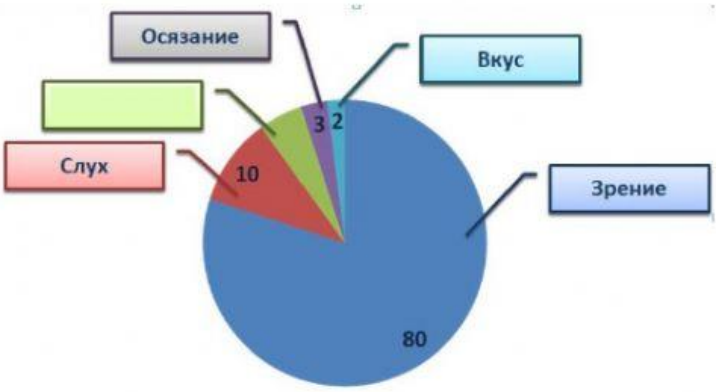

LIVEWORKSHEETS