LEMBAR KERJA PESERTA DIDIK

SISTEM PENCERNAAN MANUSIA

Disusun Oleh:
Sinta Putrianingtyas
(4001417003)

Untuk Kelas VIII
SMP/MTs
SEMESTER 1

Identitas

Nama :

Kelas :

No.Absen :

LIVEWORKSHEETS

LKPD SISTEM PENCERNAAN MANUSIA

UNNES

KOMPETENSI DASAR

3.5 Menganalisis sistem pencernaan pada manusia, gangguan yang berhubungan dengan sistem pencernaan, serta upaya menjaga kesehatan sistem pencernaan

4.5 Menyajikan hasil penelusuran informasi tentang gangguan sistem pencernaan atas upaya menjaga sistem pencernaan

INDIKATOR PENCAPAIAN KOMPETENSI

3.5.1 Menganalisis berbagai bahan makanan
3.5.2 Mengidentifikasi bahan makanan melalui uji bahan makanan
3.5.3 Mengurutkan organ-organ sistem pencernaan
3.5.4 menjelaskan fungsi masing-masing organ sistem pencernaan
3.5.5 mengidentifikasi enzim-enzim sistem pencernaan
3.5.6 Mengidentifikasi berbagai penyakit sistem pencernaan

Silahkan Simak Video berikut ini sebelum memulai mengerjakan e-LKPD

Silahkan Tulisan Pendapat Kalian Mengenai Video Tersebut!

LIVEWORKSHEETS

LKPD SISTEM PENCERNAAN MANUSIA

UNNES

Perhatikan jenis-jenis makanan berikut ini, tentukanlah kandungan yang terkandung didalam makanan tersebut?

klik tanda panah kecil dibawah untuk memilih jawaban yang benar.





LIVEWORKSHEETS

LKPD SISTEM PENCERNAAN MANUSIA

UNNES

KEGIATAN 1

"Jodohkan Fungsi Ku"

Penyerapan air	1
Makanan dicerna secara mekanik	2
Pengeluaran feses	3
Pencernaan kimiawi oleh HCL	4
Penyerapan sari-sari makanan	5
Penyaluran Makanan	6

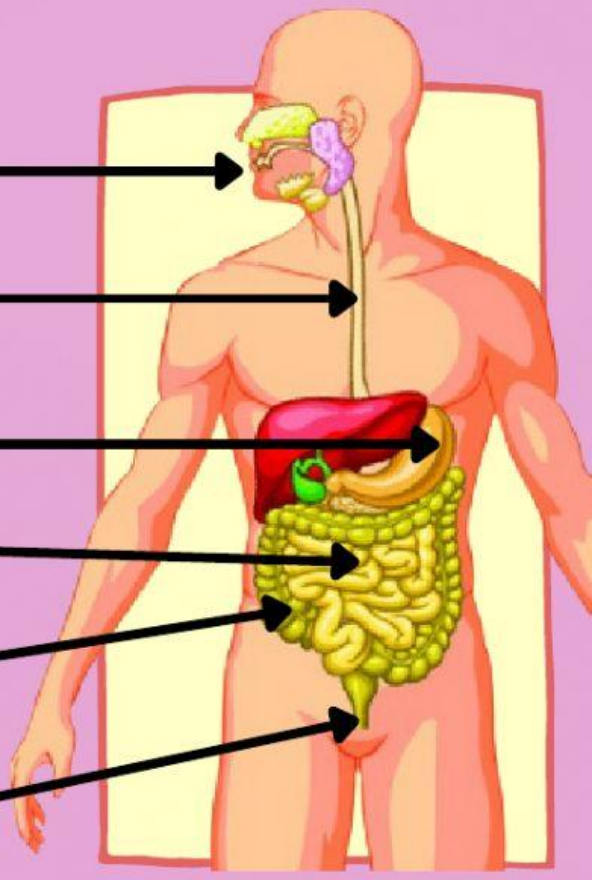

Proses pencernaan ada 2 macam yaitu proses pencernaan secara mekanik dan proses pencernaan secara kimiawi. Jelaskan perbedaannya!

MEKANIK	KIMIAWI

LIVEWORKSHEETS

LKPD SISTEM PENCERNAAN MANUSIA

UNNES

Bagaimanakah alur Proses Pencernaan? Coba Lengkapi lah diagram alir berikut !

Silakan sesuaikan pilihan di bawah ini pada diagram alir diatas!

- Kerongkongan
- Usus Besar
- Usus Halus
- Mulut
- Lambung
- anus

LIVEWORKSHEETS

LKPD SISTEM PENCERNAAN MANUSIA

Gangguan yang terjadi akibat infeksi virus paramyxovirus yang menyerang kelenjar liur (kelenjar parotis) di dalam mulut disebut...

Gangguan yang disebabkan karena peradangan yang terjadi pada usus atau apendiks yang merupakan organ berbentuk kantong kecil dan tipis, berukuran sepanjang 5 hingga 10 cm yang terhubung pada usus besar disebut.....

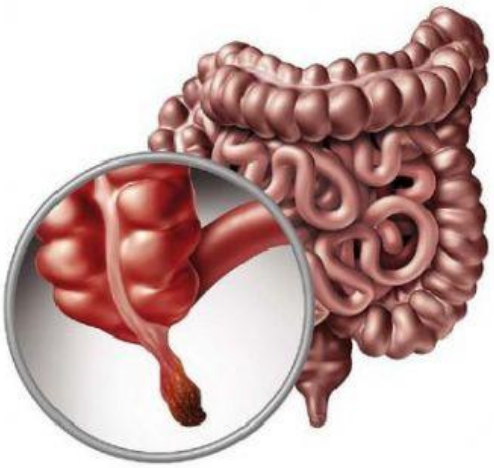

Penyakit pada organ mulut yang disebabkan karena kurangnya vitamin C disebut...

LIVEWORKSHEETS