A. 加一加，把正确答案的字母填进空格里。（4%）

a 648　　b 721　　c 91　　d 816

1
```
   34
    6
+  51
```

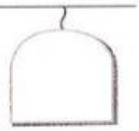

2
```
   81
  302
+ 265
```

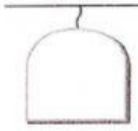

3
```
  307
  253
+ 161
```

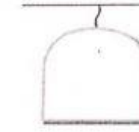

4
```
  459
  281
+  76
```



B. 写出竖式，然后减一减。（ 3% ）

1. 637 - 8 = 6 ~~3~~ ~~7~~ - 8	2. 756 - 9 = 7 ~~5~~ ~~6~~ - 9	3. 480 - 13 = 4 ~~8~~ ~~0~~ - 1 3

C. 写出竖式，算一算。（ 2% ）

1. 72 - 13 - 26 = ~~7~~ ~~2~~ - 1 3 - 2 6	2. 98 + 33 + 27 = 9 8 + 3 3 + 2 7

LIVEWORKSHEETS

D. 填一填 （ 12% ）

1
a $8 \div 4 = \square$
b $2 \times \square = 8$
c $4 \times \square = 8$

2
a $15 \div 5 = \square$
b $3 \times \square = 15$
c $5 \times \square = 15$

3
a $18 \div 2 = \square$
b $2 \times \square = 18$
c $9 \times \square = 18$

4
a $50 \div 10 = \square$
b $5 \times \square = 50$
c $10 \times \square = 50$

E. 在空格内，填写 2 的乘法表。 （ 5% ）

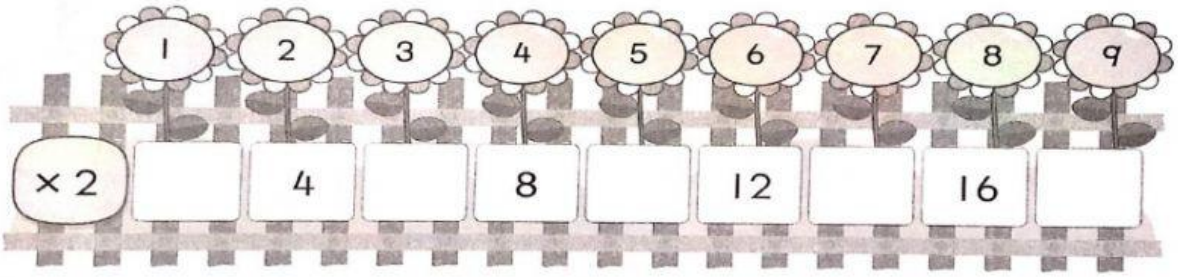

F. 填一填。 （ 9% ）

	30	5	35	10	15	45	25	40	20
÷ 5									

LIVEWORKSHEETS

G. 根据数轴，写出除法算式和答案。（2%）

1

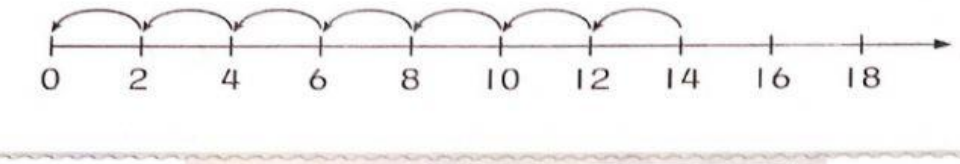

除法算式：

2

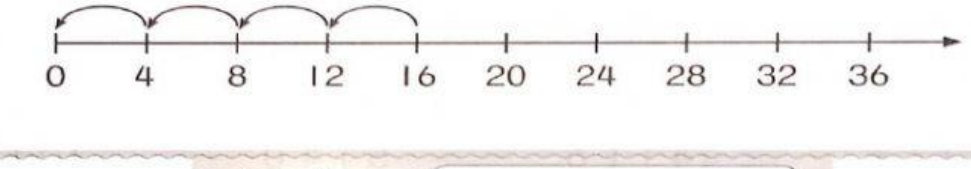

除法算式：

H. **根据乘法算式，选出一个正确的答案。（ 4% ）**

1	9 × 4	30	32	36	2	8 × 5	20	40	60
3	6 × 2	10	12	14	4	3 × 10	3	13	30

I. **把正确的加法算式和乘法算式，连一连。（ 3% ）**

1.	2 + 2 + 2 + 2 + 2 = 10	5 × 2 = 10
2.	2 + 2 + 2 + 2 = 8	4 × 5 = 20
3.	5 + 5 + 5 + 5 = 20	4 × 2 = 8

LIVEWORKSHEETS

J. 用竖式完成除法。 （ 2% ）

1. 42 ÷ 7 =

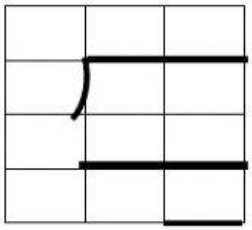

2. 21 ÷ 7 =

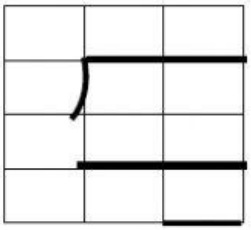

K. 用竖式完成有余数的除法。 （ 2% ）

9 ÷ 2 = 4 余 1

$$2\overline{)\,9}\quad 4,\ 8,\ 1\text{(余)}$$

1. 12 ÷ 5 =

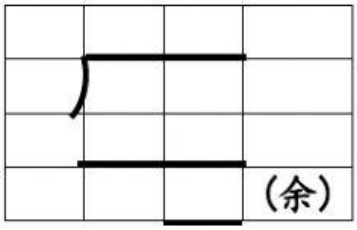

2. 20 ÷ 3 =

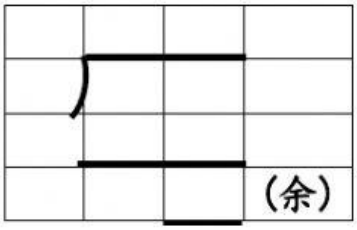

L. 填一填。 （ 2% ）

1. 15 ÷ 3 = ☐

2. 18 ÷ 6 = ☐

M. 算一算。 （ 2% ）

1. 6 ÷ 1 = ◯

2. 0 ÷ 6 = ◯

LIVEWORKSHEETS

N. 钱币上显示的图案是什么？圈一圈。（ 3% ）

1



油棕	椰树

2



大汉山	神山

3



乌龟	海龟

O. 圈出正确的币值。 （ 3% ）

1. 	RM67.10 RM6.80
2. 	RM81 RM8.10
3. 	RM35.70 RM35.25

P. 完成有关钱币题目。（ 1%）

下图显示万发钱包里的钱。



(a) 钱包里有多少钱？ [1 分]

_____

LIVEWORKSHEETS

Q. 圈出正确的答案。（ 6% ）

1.

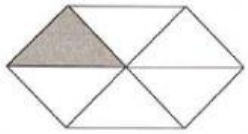

五分之一　六分之一

2.



$\frac{4}{9}$　$\frac{4}{5}$

3.



三分之一　三分之二

4.

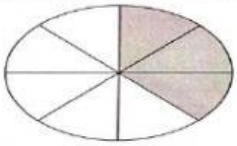

$\frac{3}{8}$　$\frac{5}{8}$

5.

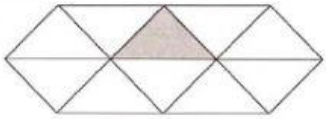

九分之一　十分之一

6.

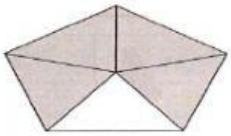

$\frac{4}{5}$　$\frac{1}{4}$

R. 圈出正确的答案。（ 6% ）

1



0.3　0.5　0.6

2

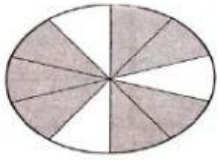

0.4　0.5　0.7

3



0.8　0.7　0.5

4



0.9　0.7　0.4

5



0.6　0.5　0.4

6

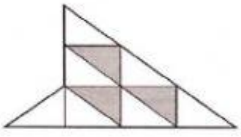

0.7　0.2　0.3

LIVEWORKSHEETS

S. 写出分数的数字或文字。（ 4% ）

1) $\frac{5}{9}$		2) $\frac{1}{7}$	
3) $\frac{9}{10}$		4) $\frac{2}{5}$	

T. 画线连一连。 （ 6% ）

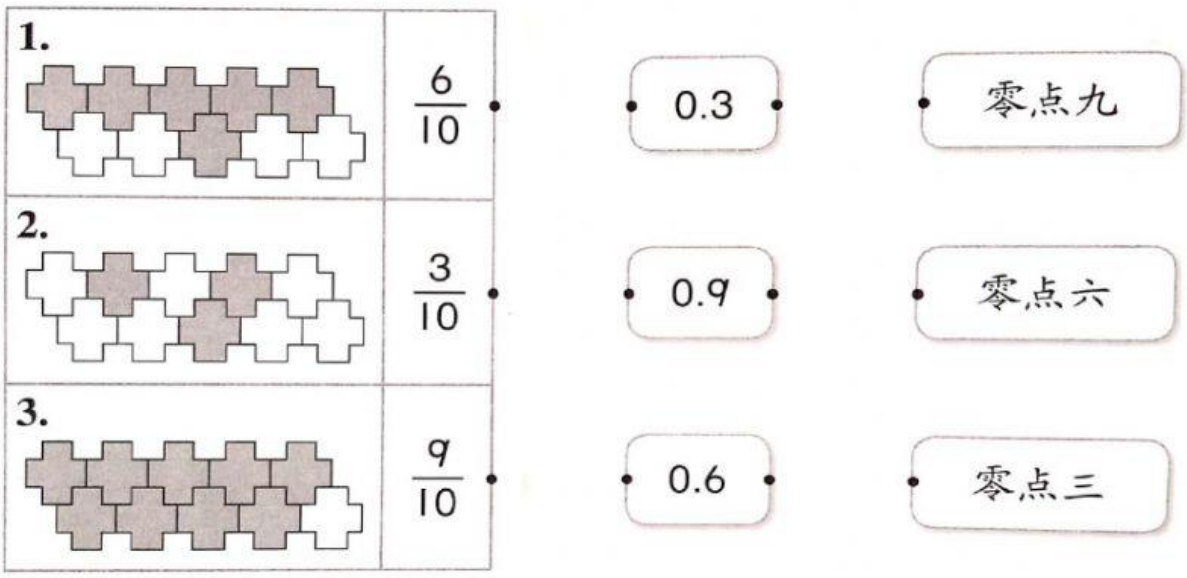

U. 完成有关分数与小数的习题。（ 2% ）



(a) 写出涂黑部分的分数。 [1 分]

(b) 把 1(a) 项的答案写成小数。 [1 分]

LIVEWORKSHEETS

V. 比一比，再较大的分数画 √ 。（ 6% ）

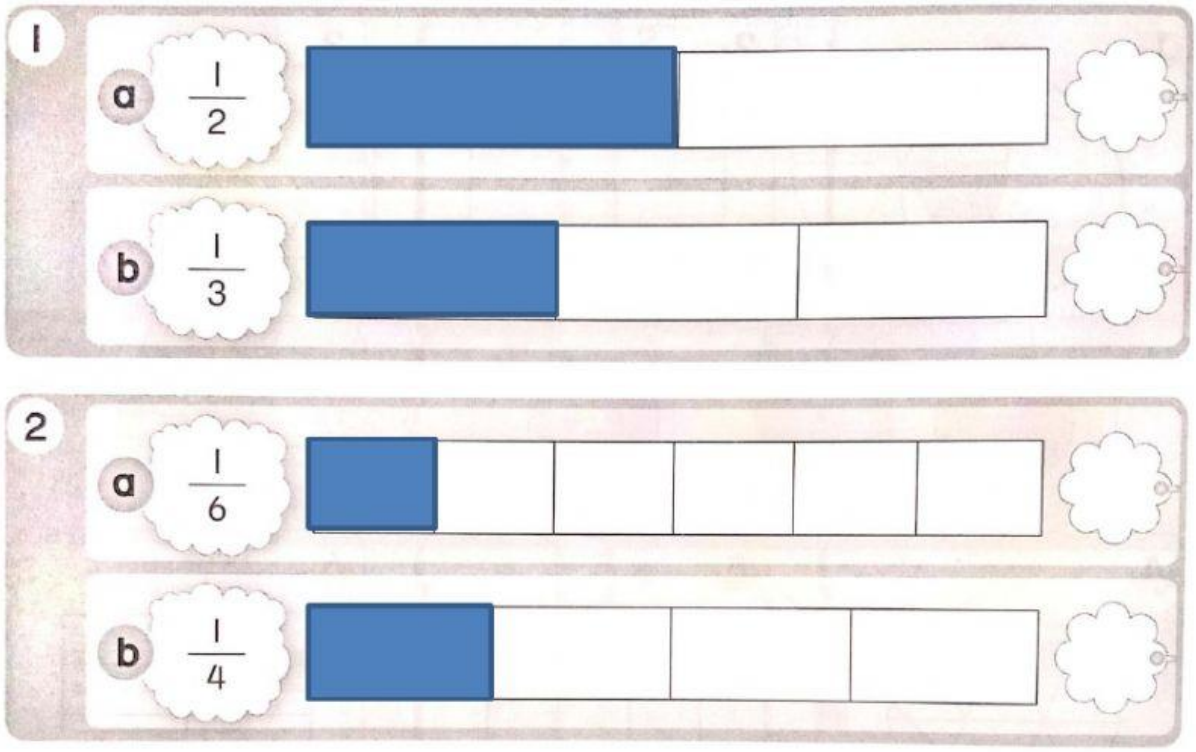

W. 完成下列有关小数的题目。（ 4% ）

下图显示一个被分成几个相等部分的长方形。



（a）长方形的[ ]涂上红色，[ ]涂上黄色，

[0.3]的涂上蓝色。[4 分]

LIVEWORKSHEETS

X. 根据图意选出正确的算式。 （ 1% ）



每个碟子平均可放多少个糕点？

$20 \div 5 = 4$ ☐　　$5 \div 20 = 4$ ☐

Y. 根据图意完成连减法 和 除法算式。 （ 3% ）



妈妈买了 15 个包子，一次蒸 5 个，要多少次才能蒸完所有的包子？

连减法：

$15 - 5 = 10$

☐

☐

除法算式：☐

Z. 根据图意，编写故事。 （ 3% ）



小雯和弟弟收集了一些汽水罐拉环以换取轮椅。姐姐收集了 ☐ 个，弟弟收集了 ☐ 个。他们共收集了 ☐ 个汽水罐拉环。

$$\begin{array}{r} 2\ 8\ 9 \\ +\ 1\ 4\ 7 \\ \hline \\ \hline \end{array}$$

LIVEWORKSHEETS