CEIP ISABEL LA CATÓLICA - MATEMÁTICAS -
5º DE PRIMARIA - RELACIÓN DE ÁNGULOS

NOMBRE:

FECHA:

1. Observa el siguiente mapa y completa:

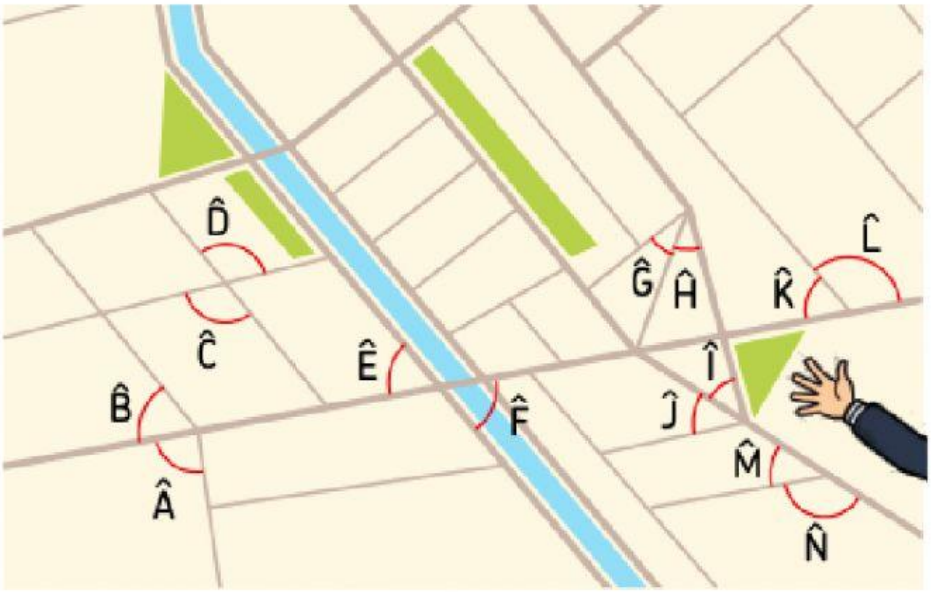

a) Los ángulos Â y B̂ son ..... .

b) Los ángulos Ĉ y D̂ son ..... .

c) Los ángulos Ê y F̂ son ..... .

d) Los ángulos Ĝ y Ĥ son ..... .

e) Los ángulos Î y Ĵ son ..... .

f) Los ángulos K̂ y L̂ son ..... .

g) Los ángulos M̂ y N̂ son ..... .

2. Relaciona los elementos en las columnas.

CONSECUTIVOS

Tienen un lado común y el otro en una misma recta.

ADYACENTES

Tienen el mismo vértice y los lados en prolongación.

OPUESTOS POR EL VÉRTICE

Tienen el mismo vértice y un lado común.

LIVEWORKSHEETS

3. Escribe cómo son los siguientes ángulos:

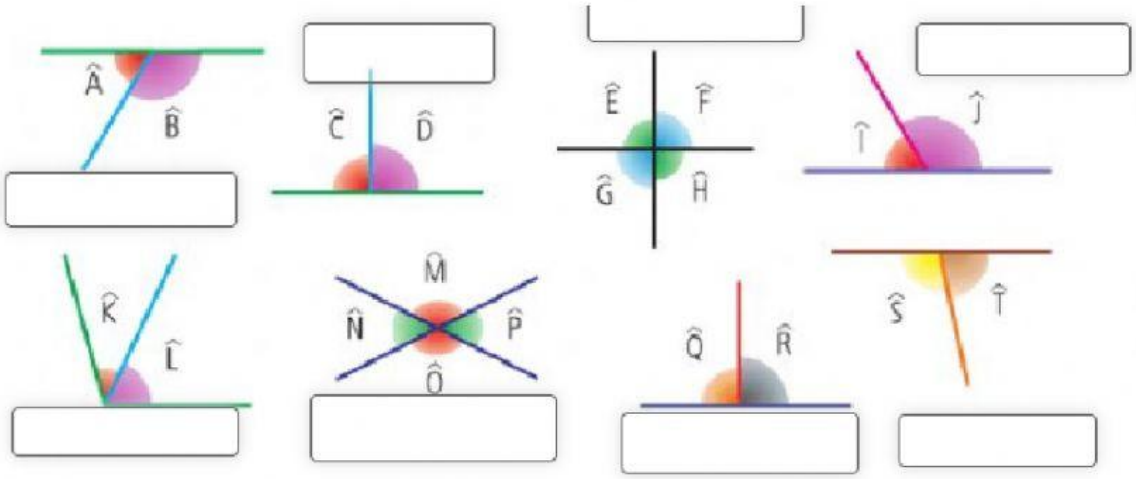

4. Indica cómo son los siguientes ángulos:

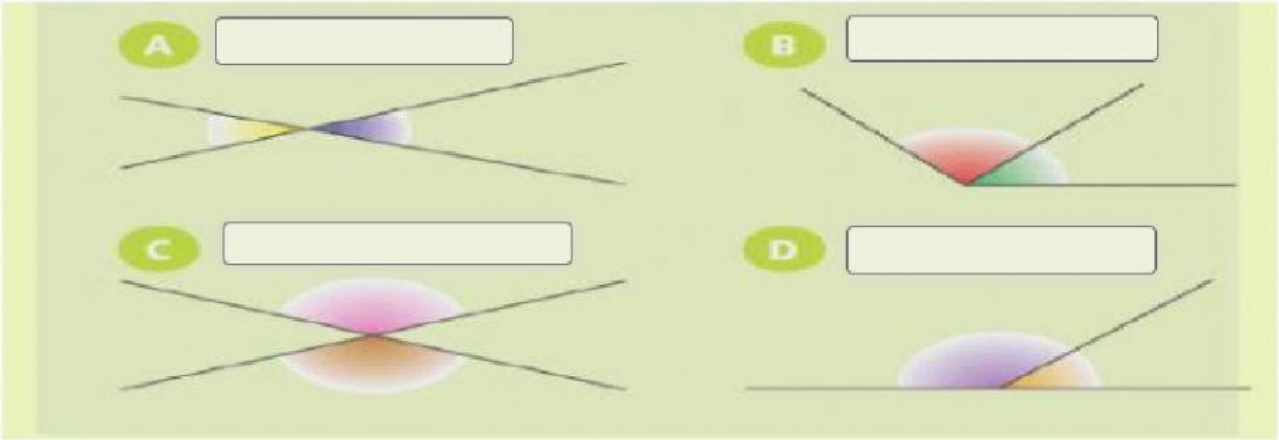

LIVEWORKSHEETS