UNIDAD EDUCATIVA "REPUBLICA FEDERAL SUIZA"
EVALUACIÓN PRIMER PARCIAL ESTUDIOS SOCIALES

Nombre: ..... **Tercer Año Básico**

REACTIVO DE SELECCIÓN
LEA Y ESCOJA LA RESPUESTA CORRECTA

1.Los puntos cardinales nos ayudan a:

A) Orientarnos en un lugar
B) Perdernos en el espacio
C) Conocer sitios turísticos



2. ¿Cuál es el punto de referencia más importante para orientarnos?

A) La luna
B) El sol
C) Nuestros brazos

3. Es un instrumento creado por los chinos que tiene una aguja imantada y señala siempre al norte.

A) Brújula
B) Radio
C) Rosa de los vientos

4. Es una figura que señala los puntos cardinales.

A) Rosa de los vientos
B) Cronómetro
C) Reloj

5. Elije la afirmación correcta con respecto al sol.

A) Sale por el norte y se oculta por el oeste
B) Sale por el este y se oculta por el sur
C) Sale por el este y se oculta por el oeste

6. Son representaciones de áreas pequeñas y se usa para representar un espacio como si lo miráramos desde arriba.

A) Plano
B) Mapa
C) Esfera

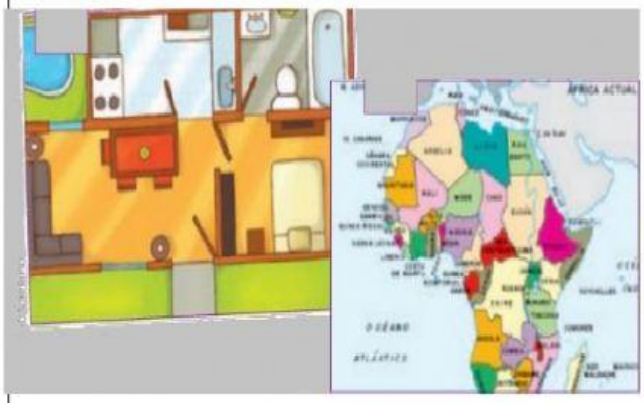

LIVEWORKSHEETS

7. Marque con una X la imagen que mejor representa a un mapa







8. Son representaciones gráficas de una palabra o de una idea, que se usan como elementos representativos de los mapas y planos.

A) Simbología
B) Pupitres
C) Escalas

9. Mapa que muestra el relieve, cerros, volcanes, ríos, cordilleras

A) Mapa físico
B) Mapa climático
C) Mapa económico

10. Si encuentras estos símbolos en un plano, significan que son:
Escribe en el recuadro lo que significan.

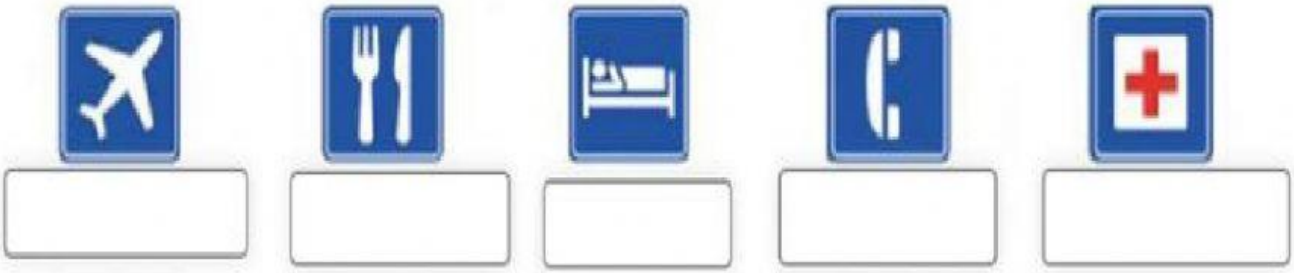

11. Ubica los puntos cardinales y los puntos colaterales en la Rosa de los vientos

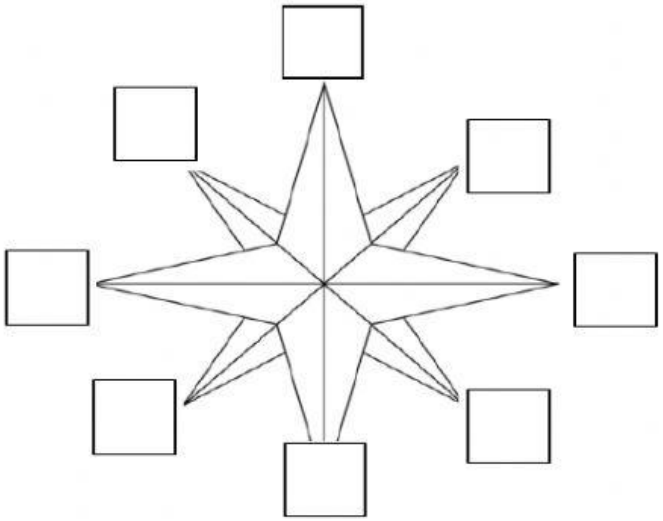

LIVEWORKSHEETS

12. Escribe los elementos que tienen los mapas y planos

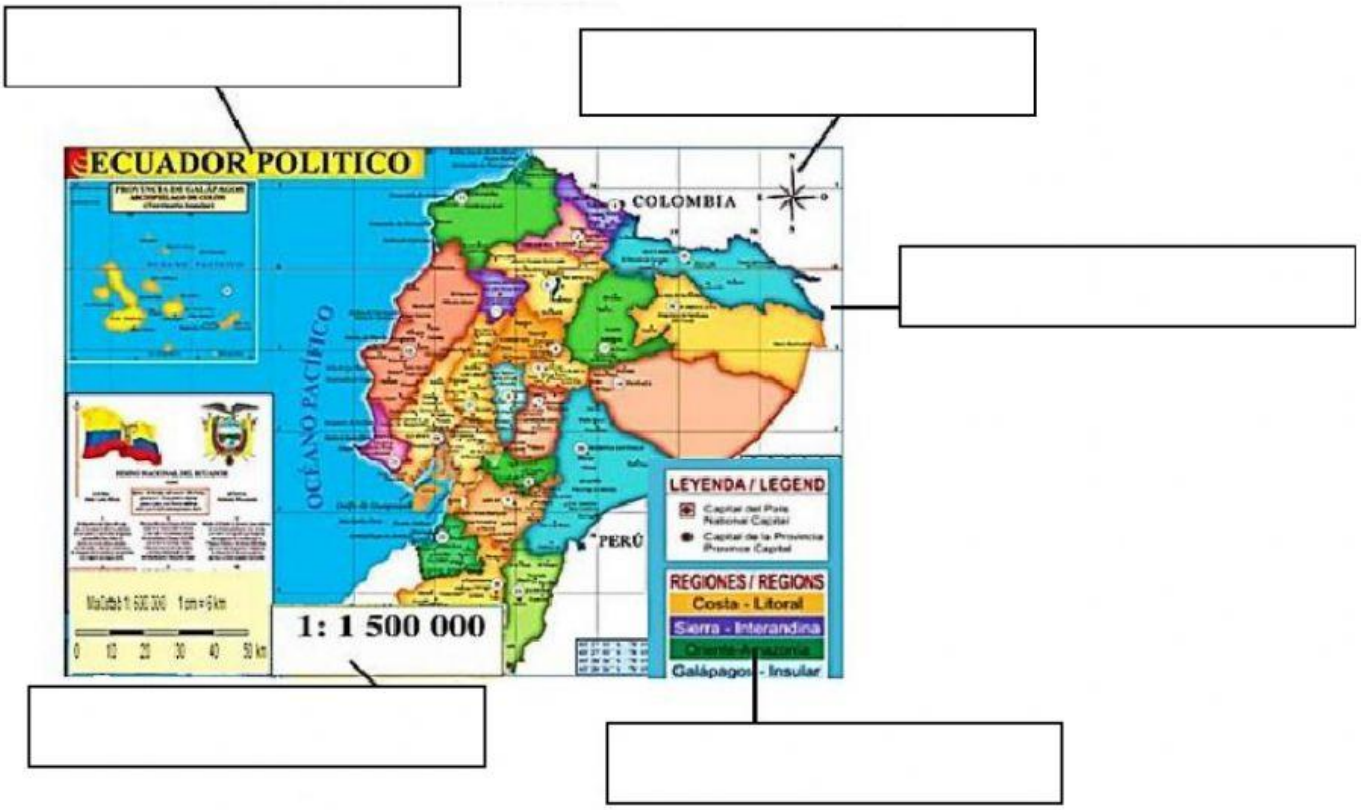

13. Observa con atención la imagen y escribe V si es verdadero y F si es falso.

- El supermercado está cerca de la tienda ( )
- El cine está a un lado del museo ( )
- En este barrio no hay una piscina ( )
- El restaurante está lejos del centro comercial ( )
- En este plano hay una estación de tren ( )



LIVEWORKSHEETS