FICHA MATES TEMA 11

1. **Expresa en la unidad que se indica:**

Expresa en la unidad que se indica.

En m^2

- 4 dam^2 y 17 m^2
- 4 hm^2, 1,2 dam^2 y 5,6 m^2

En hm^2

- 32 dam^2 y 78 m^2
- 1,2 km^2, 6,9 dam^2 y 8,9 m^2

2. **Observa el dibujo y calcula cuantos metros cuadrados mide cada parcela. Después contesta.**

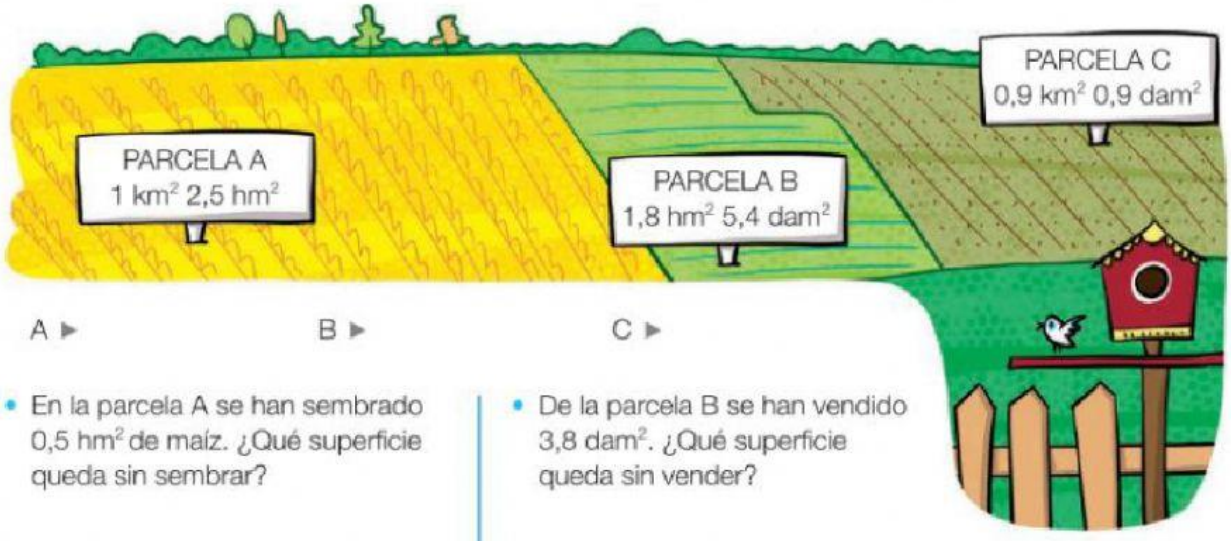

A ▶ B ▶ C ▶

- En la parcela A se han sembrado 0,5 hm^2 de maíz. ¿Qué superficie queda sin sembrar?
- De la parcela B se han vendido 3,8 dam^2. ¿Qué superficie queda sin vender?

3. Calcula, ordena y une con flechas de menor a mayor: