Evaluare/recapitulare populația Terrei

1. Analizați graficul de mai jos și identificați anul în care populația Terrei a atins cifra de 5 miliarde de locuitori. Alegeți anul potrivit din lista propusă

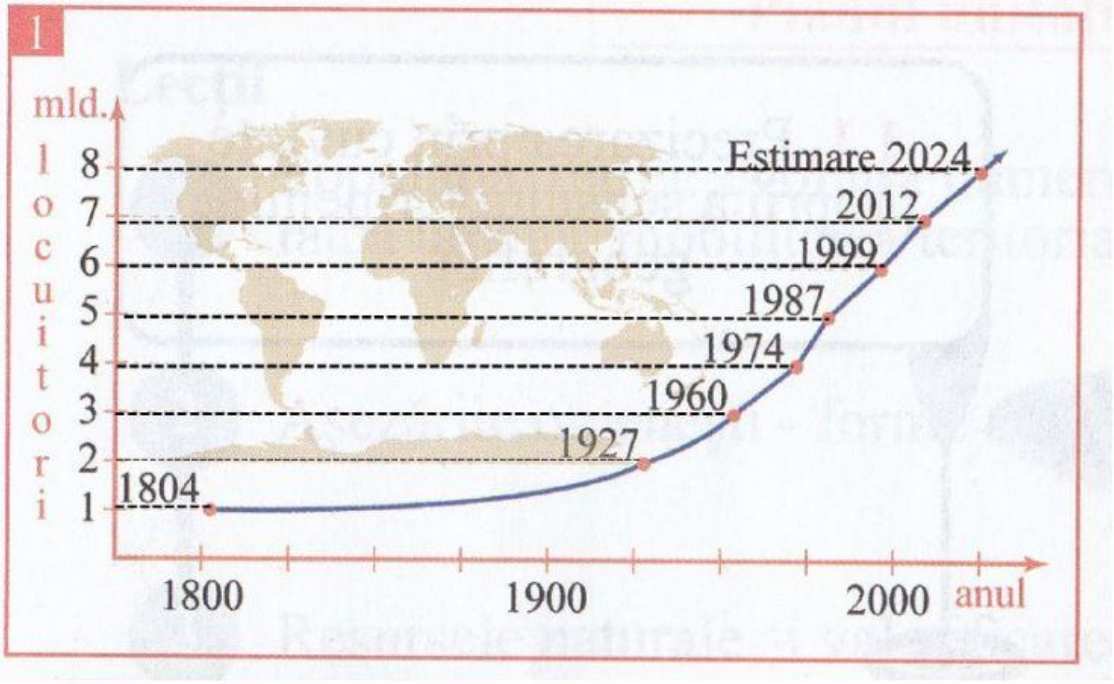

2. Analizați schița de hartă de mai jos și identificați care sunt continentele care vor avea creștere/descreștere a numărului de locuitori. Continentul cu cea mai mare creștere a numărului de locuitori se numește

Continentul unde populația o să scadă numeric se numește
Alegeți varianta corectă din lista propusă.



LIVEWORKSHEETS

3. Sporul natural este definit într-un mod corect în varianta _____ în imaginea de mai jos.

A

SPORUL NATURAL=NATALITATEA-MORTALITATEA

B

SPORUL NATURAL=MORTALITATEA-NATALITATEA

4. Analizați reprezentarea grafică de mai jos și identificați cel mai populat continent _____ și cel mai puțin populat continent _____

Alegeți varianta corectă din lista propusă din fiecare căsuță de mai sus.

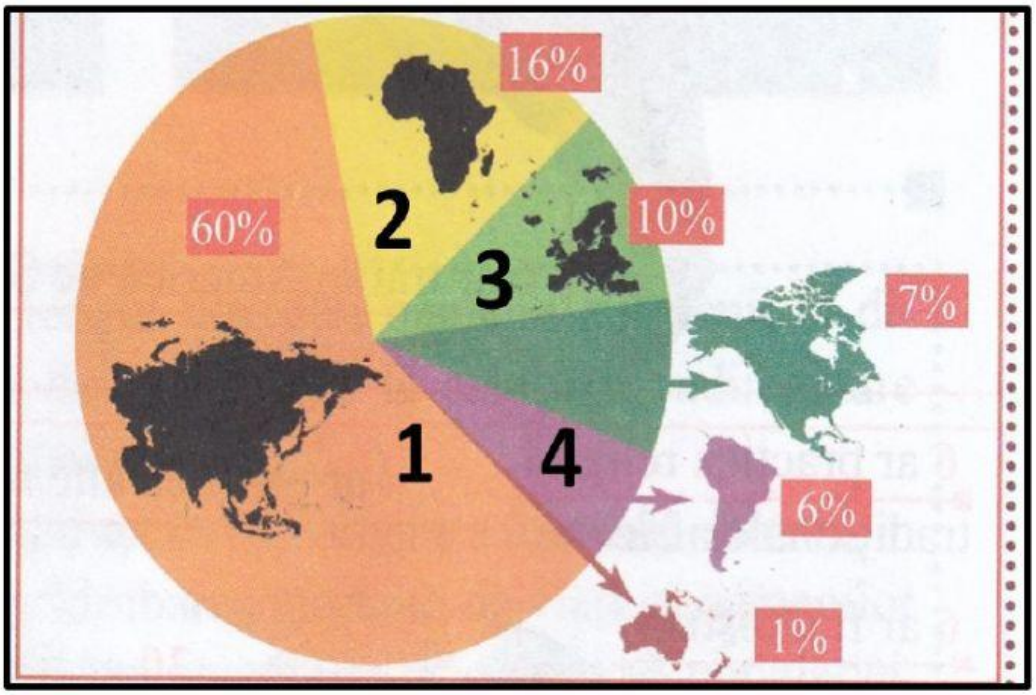

LIVEWORKSHEETS

5. Dacă într-o țară se nasc într-un an 100 000 de persoane și mor 70 000, sporul natural este de _____ locuitori.

6. Analizați cele două variante din imaginea de mai jos. Densitatea populației se calculează ca în varianta reprezentată cu litera _____

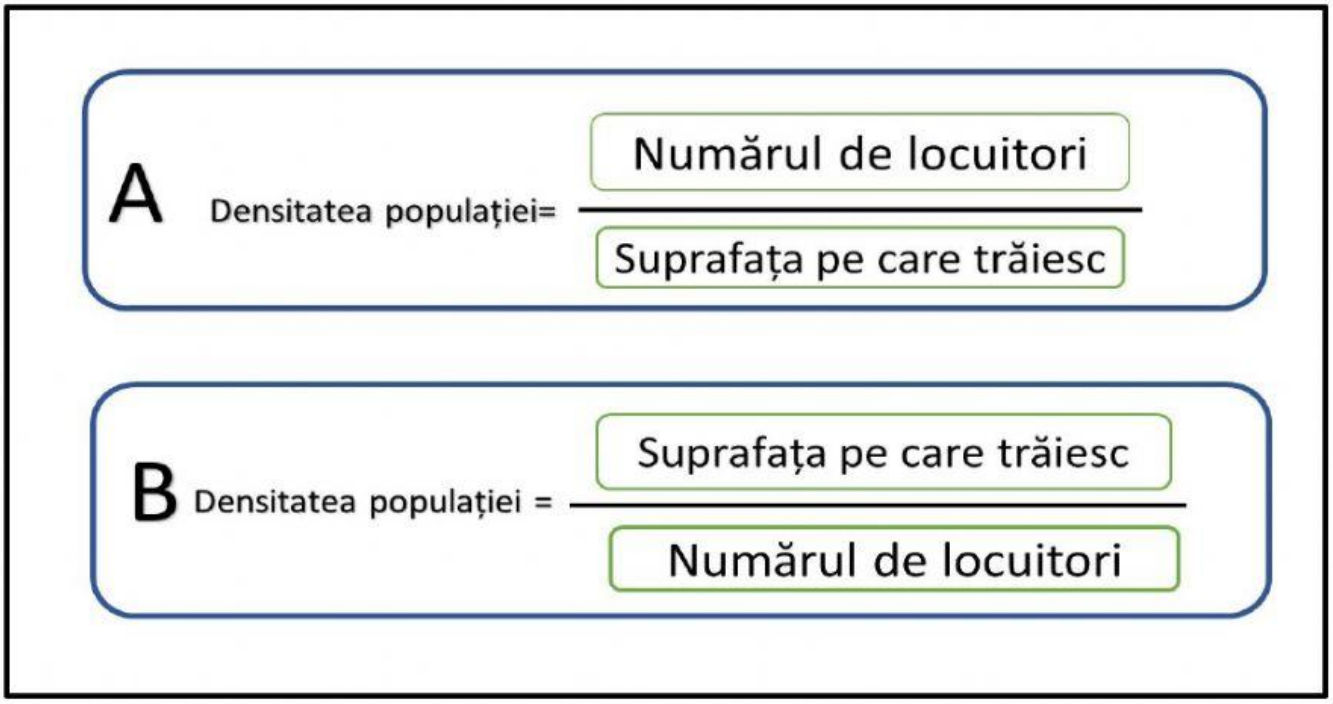

7. Dacă într-o localitate sunt 50 000 de locuitori, care trăiesc pe 100 de km², densitatea populației este _____ locuitori/km².

8. În fișa de mai jos există: în coloana A 4 termeni legați de mobilitatea populației, iar în coloana B, definițiile acestor termeni. Trasați săgeți între termeni și definițiile fiecăruia, după ce citiți cu atenție tot.

A	B
1 imigrare	sosirea într-un oraș, regiune sau o țară străină a unei populații (persoană sau grup) venite din altă parte **a**
2 migrație	deplasarea zilnică (sau la alte intervale de timp) a populației din localitatea de domiciliu în altă localitate, pentru a merge la lucru sau la școală **b**
3 emigrare	plecarea populației (persoană sau grup) din localitatea de domiciliu în altă localitate, regiune, stat **c**
4 navetism	deplasarea populației (persoană sau grup) dintr-un stat spre alt stat sau dintr-un oraș spre alt oraș, cu schimbare de domiciliu (temporar sau definitiv) **d**

LIVEWORKSHEETS