PHIẾU BÀI TẬP

BÀI 7

CÁC CUỘC CÁCH MẠNG CÔNG NGHIỆP THỜI KÌ CẬN ĐẠI

LIVEWORKSHEETS

BÀI TẬP 1

Hãy sắp xếp lại các mốc thời gian với những thành tựu cơ bản trong cuộc cách mạng công nghiệp lần thứ nhất



Con thoi bay



Máy kéo sợi Gien-ni

Máy kéo sợi sức nước



Máy hơi nước Giêm Oát



Máy dệt hơi nước

1784 1785 1764

1769 1733

LIVEWORKSHEETS

BÀI TẬP 2

Chọn đáp án đúng

CÂU 1: CUỘC CÁCH MẠNG CÔNG NGHIỆP LẦN THỨ NHẤT DIỄN RA VÀO THỜI GIAN, ĐỊA ĐIỂM NÀO ĐẦU TIÊN?

1.

- Thế kỉ XVII, bắt đầu ở Anh
- Thế kỉ XVII, bắt đầu ở Pháp
- Thế kỉ XVIII, bắt đầu ở Anh

CÂU 2: NHỮNG TIẾN BỘ VỀ KĨ THUẬT CHỦ YẾU DIỄN RA TRONG CÁC NGÀNH NGHỀ NÀO?

2.

- Ngành dệt, luyện kim, giao thông vận tải
- Y tế, xây dựng, đóng tàu
- Giao thông vận tải, ngành dệt, đóng tàu

LIVEWORKSHEETS

BÀI TẬP 2

Chọn đáp án đúng

CÂU 3: TÁC ĐỘNG TIÊU CỰC MÀ CUỘC CÁCH MẠNG KHOA HỌC KĨ THUẬT THỨ NHẤT VÀ THỨ HAI MANG LẠI:

1.

- Ô nhiễm môi trường, Xâm chiếm, tranh giành thuộc địa
- Bóc lột lao động phụ nữ và trẻ em
- Tất cả các đáp án trên.

CÂU 4: CHO BIẾT VIỆC CHẾ TẠO THÀNH CÔNG MÁY DỆT CHẠY BẰNG SỨC NƯỚC CÓ TÁC DỤNG GÌ?

2.

- Năng suất của người thợ dệt tăng dần lên 40 lần so với dệt bằng tay
- Nhiều nhà máy dệt được xây dựng ven sông nước chảy xiết
- Khởi đầu quá trình công nghiệp hóa ở nước Anh

LIVEWORKSHEETS