negative Zahlen | Zahlengerade und Temperaturen

1 Lies die markierten Zahlen ab und schreibe sie in die Kästchen.

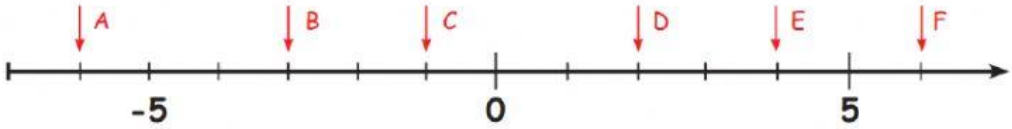

A _____ D _____

B _____ E _____

C _____ F _____

2 Lies die Temperaturen ab.

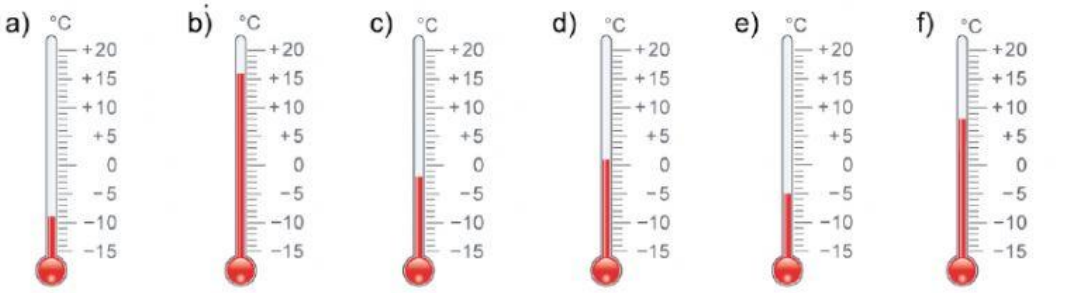

a) - 9 °C

b) _____ c) _____ d) _____ e) _____ f) _____

3 Auf welche Zahlen zeigen die Pfeile?

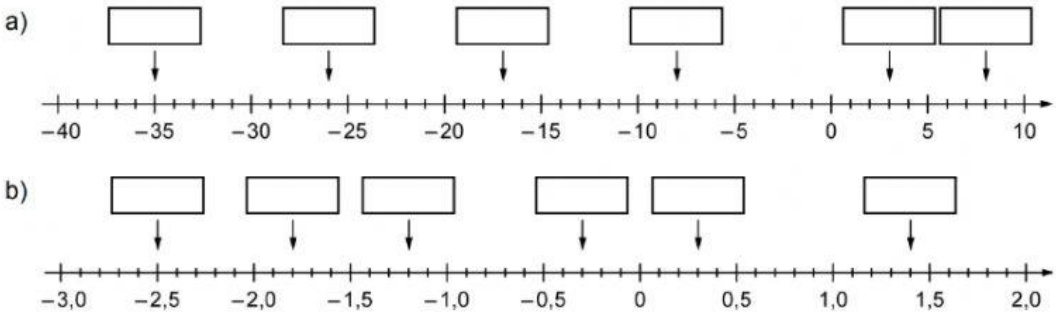

LIVEWORKSHEETS